Sayıları Okuyalım ve Yazalım

İki basamaklı sayıları rakamlarla ve sözcüklerle gösterelim.

Ad Soyad: _____ Tarih: _____

1 Rakamdan sözcüğe

Sayıların okunuşlarını yazın.

18 → _____	72 → _____	60 → _____
27 → _____	89 → _____	78 → _____
40 → _____	95 → _____	83 → _____
53 → _____	31 → _____	90 → _____
66 → _____	44 → _____	100 → _____

2 Sözcükten rakama

Okunuşu verilen sayıları rakamla yazın.

on dört → ☐	elli iki → ☐	doksan altı → ☐
yirmi dokuz → ☐	altmış beş → ☐	yüz → ☐
otuz → ☐	yetmiş → ☐	yirmi → ☐
kırk yedi → ☐	seksen üç → ☐	otuz sekiz → ☐

3 Okuma dedektifi

Sayı-okunuş eşleştirmelerinden doğru olanların kutusunu işaretleyin.

☐ 34 — otuz dört	☐ 51 — elli yedi	☐ 68 — seksen altı
☐ 92 — doksan iki	☐ 76 — yetmiş altı	☐ 45 — elli dört
☐ 80 — seksen	☐ 29 — yirmi dokuz	☐ 63 — altmış sekiz

Sorumasyon · Tüm hakları saklıdır. · 2026

Onluk ve Birlik

Sayıları parçalarına ayıralım ve yeniden oluşturalım.

Ad Soyad: _____ Tarih: _____

KISA BİLGİ

10 birlik, 1 onluk eder. 58 sayısında 5 onluk ve 8 birlik vardır. Bu sayı 50 + 8 biçiminde çözümlenir.

1 Sayıyı çözümle

Her sayı için onluk, birlik ve çözümlemeyi tamamlayın.

Sayı	Onluk	Birlik	Çözümleme	Sayı	Onluk	Birlik	Çözümleme
37				42			
64				75			
80				90			
29				18			
51				63			
96				84			

2 Parçalardan sayıya

Verilen onluk ve birliklerden oluşan sayıyı yazın.

4 onluk 6 birlik → ☐	7 onluk 2 birlik → ☐	3 onluk 0 birlik → ☐
8 onluk 5 birlik → ☐	1 onluk 9 birlik → ☐	9 onluk 1 birlik → ☐
5 onluk 4 birlik → ☐	6 onluk 8 birlik → ☐	2 onluk 7 birlik → ☐
7 onluk 0 birlik → ☐	4 onluk 3 birlik → ☐	9 onluk 9 birlik → ☐
2 onluk 5 birlik → ☐	8 onluk 0 birlik → ☐	3 onluk 7 birlik → ☐
6 onluk 2 birlik → ☐	5 onluk 9 birlik → ☐	1 onluk 4 birlik → ☐

Sorumasyon · Tüm hakları saklıdır. · 2026

Basamak ve Basamak Değeri

Rakamın bulunduğu yeri ve o yerdeki değerini ayırt edelim.

Ad Soyad: _____ Tarih: _____

KISA BİLGİ

63 sayısında 6, onluk basamağındadır ve basamak değeri 60'tır. 3, birlik basamağındadır ve basamak değeri 3'tür. Rakamın değeri ile basamak değeri aynı olmayabilir.

1 Tabloyu tamamla

Sayıların rakamlarını ve basamak değerlerini yazın.

Sayı	Onluk rakamı	Onluğun değeri	Birlik rakamı	Birliğin değeri	Çözümleme
24					
57					
80					
36					
91					
68					
45					
72					
99					
10					

2 Basamak bilmeceleri

İpuçlarını okuyun, sayıyı bulun.

- Onlar basamağım 7, birler basamağım 4. ☐
- Onluğumun değeri 50, birliğimin değeri 8. ☐
- 6 onluk ve 0 birlikten oluşurum. ☐
- Birler basamağım 9, onluğumun değeri 20. ☐

Sorumasyon · Tüm hakları saklıdır. · 2026

Modellerden Sayıya

Onluk çubukları, birlik küpleri ve abaküsleri okuyalım.

Ad Soyad: _____ Tarih: _____

MODELİ OKU

Uzun çubukların her biri 1 onluk, küçük karelerin her biri 1 birliktir. Abaküste O onlukları, B birlikleri gösterir.

1 Onluk çubukları ve birlik küpleri

Her modelin sayısını, çözümlemesini ve okunuşunu yazın.

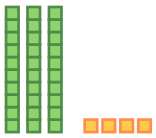

Sayı: _____

Çözümleme: _____

Okunuş: _____

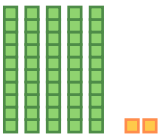

Sayı: _____

Çözümleme: _____

Okunuş: _____

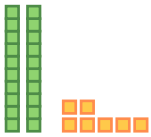

Sayı: _____

Çözümleme: _____

Okunuş: _____



Sayı: _____

Çözümleme: _____

Okunuş: _____

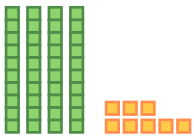

Sayı: _____

Çözümleme: _____

Okunuş: _____

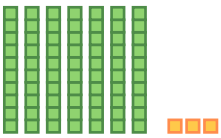

Sayı: _____

Çözümleme: _____

Okunuş: _____

2 Abaküsü oku

Boncukların gösterdiği sayıyı ve okunuşunu yazın.

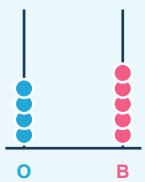

Sayı: _____ Okunuş: _____

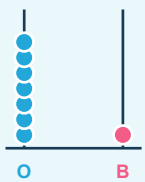

Sayı: _____ Okunuş: _____

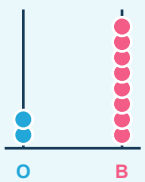

Sayı: _____ Okunuş: _____

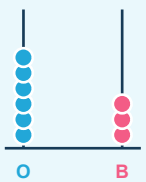

Sayı: _____ Okunuş: _____

Sayıları düşün, modelle ve açıkla.

Sorumasyon · Tüm hakları saklıdır. · 2026

Sayı Dedektifi

Basamak ipuçlarını birleştirerek gizli sayıları bulalım.

Ad Soyad: _____ Tarih: _____

DEDEKTİF NOTU

Bir ipucunda ‘onluğun değeri 40’ deniyorsa onlar basamağı 4’tür. Bütün ipuçlarını birlikte kullanın.

1 Gizli sayılar

Her karttaki ipuçlarından sayıyı bulun, sonra okunuşunu yazın.

Onluğumun değeri 30. Birliğim 7.

Sayı: ☐ Okunuş: _____

5 onluk, 4 birlikten oluşurum.

Sayı: ☐ Okunuş: _____

Birliğimin değeri 9. Onluğum 8.

Sayı: ☐ Okunuş: _____

Onlar basamağım 6. Birliğim sıfır.

Sayı: ☐ Okunuş: _____

2 onluğum var. Rakamlarımın toplamı 7.

Sayı: ☐ Okunuş: _____

Birliğim 3. Onluğum birliğimin 2 katı.

Sayı: ☐ Okunuş: _____

2 Eşini bul

Aynı sayıyı anlatan üç parçayı aynı renge boyayın.

42	**8 onluk 6 birlik**	**70 + 0**
35	**6 onluk 4 birlik**	**90 + 1**
40 + 2	**7 onluk 0 birlik**	**86**
30 + 5	**64**	**9 onluk 1 birlik**
4 onluk 2 birlik	**80 + 6**	**70**
3 onluk 5 birlik	**60 + 4**	**91**

Sorumasyon · Tüm hakları saklıdır. · 2026

Karma Değerlendirme

Okuma, yazma, çözümleme ve basamak değerini birlikte kullanalım.

Ad Soyad: _____ Tarih: _____

1 Dört gösterim

Kutuları verilen sayıya göre tamamlayın.

57

Okunuşu: _____

Onluk-birlik: _____

Çözümleme: _____

82

Okunuşu: _____

Onluk-birlik: _____

Çözümleme: _____

40

Okunuşu: _____

Onluk-birlik: _____

Çözümleme: _____

2 Doğru mu, yanlış mı?

Doğru ifadelere D, yanlış ifadelere Y yazın.

- ☐ 68 sayısında 6 onluk vardır.
- ☐ 47 sayısında 4'ün basamak değeri 40'tır.
- ☐ 73 = 70 + 3 biçiminde çözümlenir.
- ☐ 90 sayısının birlik basamağı 9'dur.
- ☐ 5 onluk 2 birlik, 25 eder.
- ☐ 80 sayısı 'sekiz' diye okunur.

3 Basamak değişirse

Soruları işlem yapmadan, basamakları düşünerek cevaplayın.

1. 46 sayısının rakamları yer değiştirirse hangi sayı oluşur? ☐
2. Onlar basamağı 1 artan 52 hangi sayı olur? ☐
3. Birler basamağı 3 azalan 78 hangi sayı olur? ☐
4. 60'a 4 birlik eklenirse hangi sayı oluşur? ☐
5. Onluğunun değeri 30, birliğinin değeri 9 olan sayı kaçtır? ☐
6. 84 sayısında 8 ile 4 yer değiştirirse hangi basamak değerleri değişir? ☐
7. 7 onluk 2 birlikten oluşan sayının okunuşunu yazın. ☐

Sorumasyon · Tüm hakları saklıdır. · 2026