Basamakları Tanıyalım

İki basamaklı sayıların onlar ve birler basamaklarını inceleyelim.

Ad Soyad: _____ Tarih: _____

AKLIMDA KALSIN

Bir sayıda rakamın yazıldığı yere basamak denir. Sağdaki rakam birler, soldaki rakam onlar basamağındadır. Rakamın bulunduğu basamağa göre aldığı değere basamak değeri denir.

47

ONLAR	BİRLER
4	7

47 SAYISINI İNCELEYELİM

Rakam	Basamak adı	Basamak değeri
4	Onlar basamağı	40
7	Birler basamağı	7

Okunuşu: kırk yedi

1 Sayı kartlarını tamamla

Her sayının onluk-birlik sayısını ve okunuşunu yazın.

26 ___ onluk ___ birlik
Okunuşu: _____

39 ___ onluk ___ birlik
Okunuşu: _____

50 ___ onluk ___ birlik
Okunuşu: _____

64 ___ onluk ___ birlik
Okunuşu: _____

72 ___ onluk ___ birlik
Okunuşu: _____

85 ___ onluk ___ birlik
Okunuşu: _____

91 ___ onluk ___ birlik
Okunuşu: _____

18 ___ onluk ___ birlik
Okunuşu: _____

Sorumasyon · Tüm hakları saklıdır. · 2026

Okunuştan Sayıya

Sayıların okunuşlarını rakamlarla gösterelim ve basamaklarını belirleyelim.

Ad Soyad: _____ Tarih: _____

1 Okunuşu verilen sayılar

Sayıyı yazın; onlar ve birler basamağındaki rakamları belirtin.

yirmi dokuz	doksan beş	elli yedi
Sayı: ☐ Onlar: ☐ Birler: ☐	Sayı: ☐ Onlar: ☐ Birler: ☐	Sayı: ☐ Onlar: ☐ Birler: ☐
yetmiş üç	**otuz sekiz**	**seksen altı**
Sayı: ☐ Onlar: ☐ Birler: ☐	Sayı: ☐ Onlar: ☐ Birler: ☐	Sayı: ☐ Onlar: ☐ Birler: ☐
altmış	**on bir**	**kırk iki**
Sayı: ☐ Onlar: ☐ Birler: ☐	Sayı: ☐ Onlar: ☐ Birler: ☐	Sayı: ☐ Onlar: ☐ Birler: ☐
kırk yedi	**yetmiş dokuz**	**otuz dört**
Sayı: ☐ Onlar: ☐ Birler: ☐	Sayı: ☐ Onlar: ☐ Birler: ☐	Sayı: ☐ Onlar: ☐ Birler: ☐

2 Basamak şifreleri

Verilen rakamları doğru sıraya koyup yıldızın içine sayıyı yazın.

- Onlar: 1 • Birler: 7 ☆
- Birler: 0 • Onlar: 6 ☆
- Onlar: 4 • Birler: 8 ☆
- Birler: 5 • Onlar: 9 ☆
- Birler: 6 • Onlar: 5 ☆
- Onlar: 3 • Birler: 2 ☆

Sorumasyon · Tüm hakları saklıdır. · 2026

Onluk Taban Blokları

Modelleri okuyarak basamak adlarını ve basamak değerlerini bulalım.

Ad Soyad: _____ Tarih: _____

1 Modeli çözümle

Her modelin gösterdiği sayıyı ve basamak bilgilerini tamamlayın.

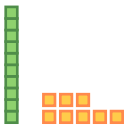

Sayı: ☐

Onlar basamağı ☐ Değeri ☐

Birler basamağı ☐ Değeri ☐

Okunuşu: _____

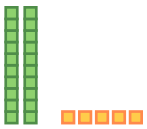

Sayı: ☐

Onlar basamağı ☐ Değeri ☐

Birler basamağı ☐ Değeri ☐

Okunuşu: _____

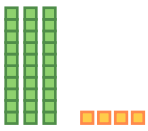

Sayı: ☐

Onlar basamağı ☐ Değeri ☐

Birler basamağı ☐ Değeri ☐

Okunuşu: _____

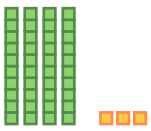

Sayı: ☐

Onlar basamağı ☐ Değeri ☐

Birler basamağı ☐ Değeri ☐

Okunuşu: _____

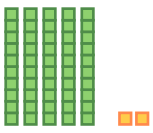

Sayı: ☐

Onlar basamağı ☐ Değeri ☐

Birler basamağı ☐ Değeri ☐

Okunuşu: _____

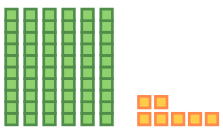

Sayı: ☐

Onlar basamağı ☐ Değeri ☐

Birler basamağı ☐ Değeri ☐

Okunuşu: _____

Sorumasyon · Tüm hakları saklıdır. · 2026

Basamak Değeri Merdiveni

Sayıyı parçalara ayıralım, parçalardan yeniden oluşturalım.

Ad Soyad: _____ Tarih: _____

1 Sayıdan değerlere

Kutulara rakamların basamak değerlerini, alt satıra sayının okunuşunu yazın.

68	36	83	65
onluk değeri: ___ birlik değeri: ___	onluk değeri: ___ birlik değeri: ___	onluk değeri: ___ birlik değeri: ___	onluk değeri: ___ birlik değeri: ___
41	**50**	**75**	**33**
onluk değeri: ___ birlik değeri: ___	onluk değeri: ___ birlik değeri: ___	onluk değeri: ___ birlik değeri: ___	onluk değeri: ___ birlik değeri: ___
92	**14**	**67**	**46**
onluk değeri: ___ birlik değeri: ___	onluk değeri: ___ birlik değeri: ___	onluk değeri: ___ birlik değeri: ___	onluk değeri: ___ birlik değeri: ___

2 Değerlerden sayıya

Onluk ve birlik değerlerini birleştirerek sayıyı ve okunuşunu yazın.

- 40 + 0 = ☐ Okunuşu: _____
- 90 + 8 = ☐ Okunuşu: _____
- 80 + 4 = ☐ Okunuşu: _____
- 10 + 6 = ☐ Okunuşu: _____
- 30 + 3 = ☐ Okunuşu: _____
- 60 + 1 = ☐ Okunuşu: _____
- 70 + 6 = ☐ Okunuşu: _____
- 20 + 9 = ☐ Okunuşu: _____

Sorumasyon · Tüm hakları saklıdır. · 2026

Basamak Parkuru

Bütün öğrendiklerini kullanarak sayı parkurunu tamamla.

Ad Soyad: _____ Tarih: _____

1 Hangi sayı?

İpuçlarının anlattığı sayıyı kutuya yazın.

- 5 onluk ve 8 birlik ☐
- Onluğunun değeri 70, birliği 4 ☐
- Birler basamağı 0, onlar basamağı 9 ☐
- Onluk rakamı, birlik rakamının iki katı: birlik 3 ☐
- Rakamları aynı, onluk değeri 40 ☐
- Birlik değeri 7, onluk değeri 20 ☐

2 Hata avı

Yanlış verilen basamak bilgisini bulup doğrusunu boşluğa yazın.

- 72: 7'nin basamak değeri 7'dir.
  Doğrusu: _____
- 48: 8 onlar basamağındadır.
  Doğrusu: _____
- 60: 6'nın basamak değeri 60'tır.
  Doğrusu: _____
- 35: 5 birlik basamağındadır.
  Doğrusu: _____
- 91: 1'in basamak değeri 10'dur.
  Doğrusu: _____
- 24: 2 onlar basamağındadır.
  Doğrusu: _____

3 Üçlü gösterim

Her sayıyı onluk-birlik, çözümleme ve okunuş biçiminde gösterin.

27

Onluk-birlik: _____

Çözümleme: _____

Okunuşu: _____

54

Onluk-birlik: _____

Çözümleme: _____

Okunuşu: _____

80

Onluk-birlik: _____

Çözümleme: _____

Okunuşu: _____

Sorumasyon · Tüm hakları saklıdır. · 2026