# SIVI MİKTARI

Kapların büyüklüğünü ve içlerindeki sıvı miktarını karşılaştıralım.

Ad Soyad: _____ Tarih: _____

**1** **Her kutuda en çok sıvı alabilecek kabın altındaki daireyi boya.**





**2** **Her kutuda en az sıvı bulunan kabı işaretle.**

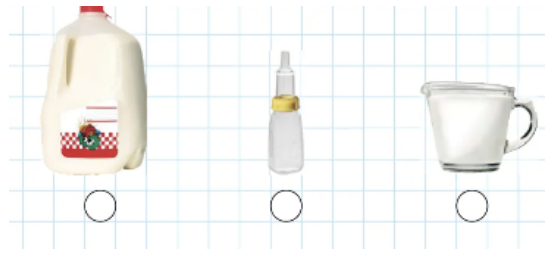

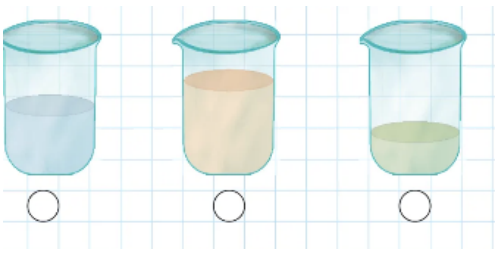

**3** **Aynı miktarda su bu kaplara dökülüyor. Su seviyesinin en yüksek olacağı kabı seç.**





**4** **Kelime kutusundaki uygun sözcüklerle boşlukları doldur.**

az • boş • çok • yüksek

a. Bir kova, bir bardaktan daha _____ sıvı alır.

b. İçinde hiç sıvı bulunmayan kap _____ kaptır.

c. Dar kapta sıvı seviyesi daha _____ görünür.

ç. Küçük kap, büyük kaptan daha _____ sıvı alır.



Sorumasyon · Tüm hakları saklıdır. · 2026

# SIVI MİKTARINI KARŞILAŞTIRALIM

Seviyelere bak, sırala ve verilen ipuçlarını tamamla.

Ad Soyad: _____ Tarih: _____

**1** **Bardaklardaki süt miktarını çoktan aza sırala. Dairelere 1, 2 ve 3 yaz.**



**2** **Şişelerdeki sıvı miktarını azdan çoğa sırala. Dairelere 1, 2, 3 ve 4 yaz.**




**3** **Aynı büyüklükteki sürahileri incele. Cümleleri uygun harfle tamamla.**




Yarısına kadar dolu olan: ____ Yarıdan az dolu olan: ____

Tamamen boş olan: ____ Yarıdan fazla, tam dolu olmayan: ____

**Tamamen dolu olan: ____**



Sorumasyon · Tüm hakları saklıdır. · 2026

# SIVI ÖLÇELİM

Uygun ölçme aracını seçelim ve daha kısa yolu bulalım.

Ad Soyad: _____ Tarih: _____

**1** **Sıvı ölçmek için kullanılabilecek standart olmayan araçların dairesini boya.**



**2** **Bardakla paylaştırılabilecek sıvı içeren görselleri işaretle.**




**3** **Baştaki kaptaki sıvı hangi araçla daha kısa sürede boşaltılır? Seçimini boya.**

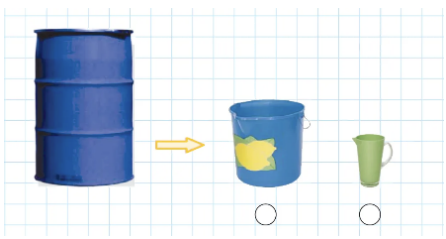

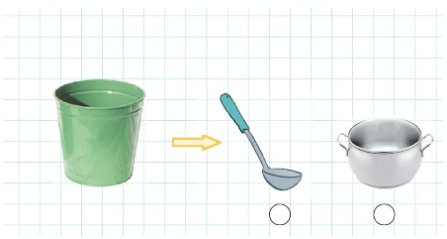

**Seçimimin nedeni:** _____



Sorumasyon · Tüm hakları saklıdır. · 2026

# KAÇ BARDAK SIVI VARDIR?

Tahmin et, karşılaştır ve görsel problemleri çöz.

Ad Soyad: _____ Tarih: _____

**1** **Kapların yaklaşık kaç bardak sıvı alabileceğini tahmin et. Uygun sayıyı boya.**










**2** **Her kutuda daha az sıvı alacak kabı işaretle.**





**3** **Her kutuda daha çok sıvı alacak kabı işaretle.**

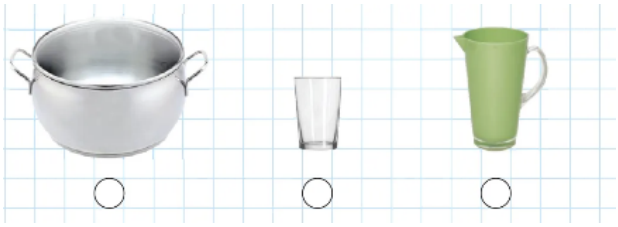




**4** **Görselleri incele. İşlemi yapıp sonucu boşluğa yaz.**





2 sürahi kaç bardak doldurur? _____

2 bardak meyve suyu için kaç portakal gerekir? _____



Sorumasyon · Tüm hakları saklıdır. · 2026