1 ŞEKİLLER ŞEHRİNE HOŞ GELDİN!

Üçgen, kare, dikdörtgen, çember ve daireyi tanıyalım.

Ad Soyad: _____ Tarih: _____

1 Bilgi kartlarını incele. Her şeklin kenar ve köşe sayısını söyle.



ÜÇGEN

3 kenar • 3 köşe



KARE

4 eşit kenar • 4 köşe



DIKDÖRTGEN

4 kenar • 4 köşe



ÇEMBER

İçi boş • köşesi yok



DAIRE

İçi dolu • köşesi yok

2 Nesneleri benzediği şekille eşleştir. Şeklin adını altına yaz.



_____



_____



_____



_____

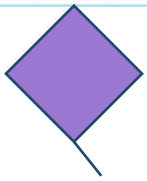

_____



_____



_____



_____



_____



_____



_____



_____

Sorumasyon · Tüm hakları saklıdır. · 2026

2 ŞEKİL DEDEKTİFLERİ

Döndürülse veya büyütülse de şeklin özellikleri değişmez.

Ad Soyad: _____ Tarih: _____

3 Numaralı şekilleri incele. Adlarını yaz ve doğru kutulara numaralarını yerleştir.

1 

2 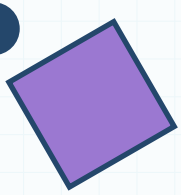

3 

4 

5 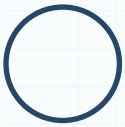

6 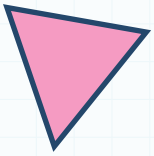

7 

8 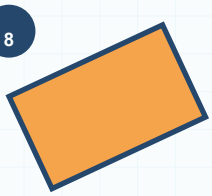

9 

10 

11 

12 

4 kenar ve 4 köşe
No: _____

3 kenar ve 3 köşe
No: _____

Köşesi yok, içi dolu
No: _____

Köşesi yok, içi boş
No: _____

Tüm kenarları eşit
No: _____

4 Noktaları sırayla birleştir. Oluşan şekli boya ve adını yaz.

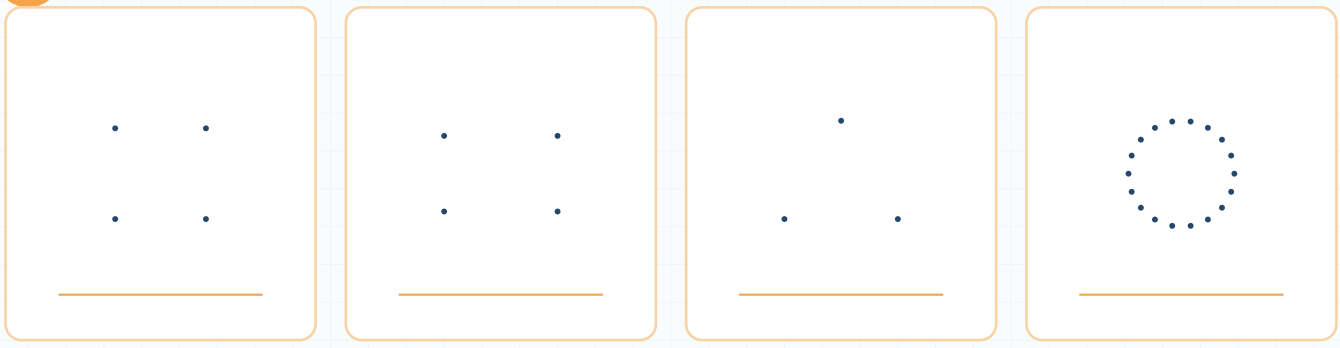

Sorumasyon · Tüm hakları saklıdır. · 2026

3 ŞEKİLLERLE TASARIM ATÖLYESİ

Parçaları say, resmi tamamla ve kendi tasarımını oluştur.

Ad Soyad: _____ Tarih: _____

5 Resimleri oluşturan şekilleri say. Sayıları tablodaki kutulara yaz.

RENKLİ TREN



Kare:		Çember:	
Dikdörtgen:			
Üçgen:			
Daire:			

UZAY ROKETİ



Kare:		Çember:	
Dikdörtgen:			
Üçgen:			
Daire:			

6 Aşağıdaki şekilleri en az bir kez kullanarak kendi robotunu tasarla.



Kullanılacaklar: 2 kare • 3 dikdörtgen • 2 üçgen • 3 daire

Robotumun adı: _____

Sorumasyon · Tüm hakları saklıdır. · 2026

4 CİSİMLER GEZEGENİ

Küre, küp, prizmalar ve silindiri keşfedelim.

Ad Soyad: _____ Tarih: _____

7 Bilgi kartlarını incele. Cisimlerin adlarını yüksek sesle oku.



KÜRE

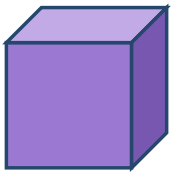

KÜP

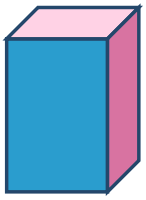

KARE PRİZMA

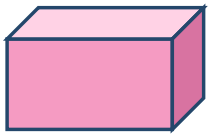

DIKDÖRTGEN PRİZMA



ÜÇGEN PRİZMA



SILINDIR

8 Nesneleri benzediği geometrik cisimle eşleştir.

Futbol topu	●	●	silindir
Konserve kutusu	●	●	küp
Hediye kutusu	●	●	üçgen prizma
Kitap	●	●	küre
Kamp çadırı	●	●	kare prizma
Uzun meyve suyu kutusu	●	●	dikdörtgen prizma

Sorumasyon · Tüm hakları saklıdır. · 2026

5 CİSİMLERİ TANIYORUM

İpuçlarını kullan, boşlukları tamamla ve Cisim İstasyonu'nu çöz.

Ad Soyad: _____ Tarih: _____

9 Sözcük kutusundaki cisim adlarını uygun boşluklara yaz. Sözcükler tekrar kullanılabilir.

küre | **küp** | **silindir** | **üçgen prizma** | **kare prizma** | **dikdörtgen prizma**

1. Futbol topunun benzediği geometrik cisim: _____

2. Konserve kutusu ve pilin benzediği cisim: _____

3. Oyun zarının benzediği geometrik cisim: _____

4. Kitabın ve ayakkabı kutusunun benzediği cisim: _____

5. Kamp çadırının benzediği geometrik cisim: _____

6. Uzun meyve suyu kutusunun benzediği cisim: _____

7. Hiç köşesi olmayan cisimlerden biri: _____

8. İki daire biçiminde düz yüzü bulunan cisim: _____

10 Cisim İstasyonu: Modelleri incele. Her ipucunun karşısına uygun istasyon numarasını yaz.

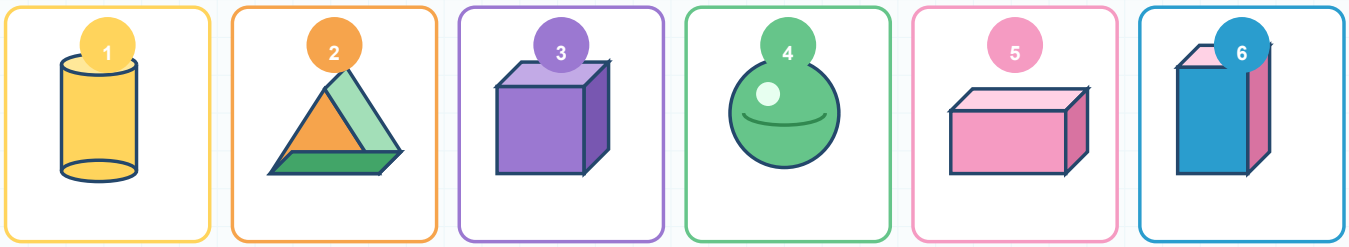

Yuvarlanabilen cisimler — No: _____

Yalnızca düz yüzleri olan cisimler — No: _____

Üçgen biçiminde yüzü olan cisim — No: _____

Hiç köşesi olmayan cisim — No: _____

Kare biçiminde yüzü olan cisimler — No: _____

Daire biçiminde yüzü olan cisim — No: _____

BONUS En çok hangi cisimle karşılaştın? Neden?

_____

Sorumasyon · Tüm hakları saklıdır. · 2026

6 GEOMETRİ GÖREVİ

Numaralı cisimleri incele, ipuçlarını çöz ve görevi tamamla.

Ad Soyad: _____ Tarih: _____

11 Uzay üssündeki cisimleri incele. Soruları kutu numaralarıyla cevapla.

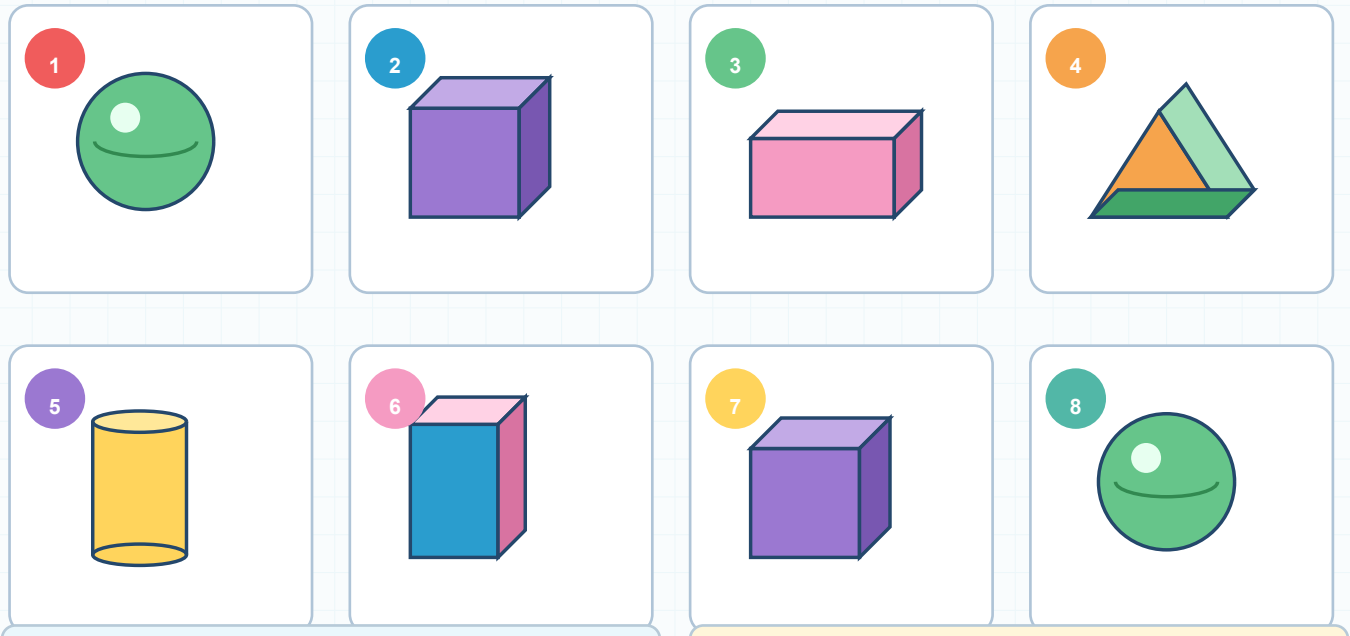

Köşesi olmayan cisimler
No: _____

Üçgen yüzü olan cisim
No: _____

Küp olan cisimler
No: _____

Daire biçiminde yüzü olan cisim
No: _____

Dikdörtgen prizma
No: _____

Yuvarlanabilen cisimler
No: _____

12 Doğruysa D, yanlışsa Y kutusunu boya. Yanlış cümleyi sözlü olarak düzelt.

Bir cisim döndürülünce adı değişir.	D	Y	Kürenin köşesi yoktur.	D	Y
Küpün yüzlerinde kareler görülür.	D	Y	Silindir yuvarlanabilir.	D	Y
Üçgen prizmanın üçgen yüzü vardır.	D	Y	Dikdörtgen prizma küredir.	D	Y

SÜPER GÖREV **Evinizde bu cisimlere benzeyen üç nesne bulun ve adlarını yazın:**

_____

Sorumasyon · Tüm hakları saklıdır. · 2026