ONLUĞA YUVARLAMAYI ÖĞRENİYORUM

Bir sayının en yakın olduğu onluğu bulalım.

Kısa bilgi: Birler basamağı 0, 1, 2, 3 veya 4 ise sayı bulunduğu onluğa; 5, 6, 7, 8 veya 9 ise sonraki onluğa yuvarlanır. Birler basamağı 5 olan sayı, üst onluğa yuvarlanır.

34 → 30 47 → 50 65 → 70

1 Sayı doğrularını inceleyin. Sayının yakın olduğu onluğu yazın.



Yakın onluk: ☐

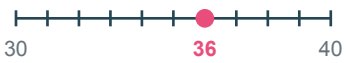

Yakın onluk: ☐

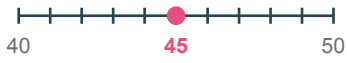

Yakın onluk: ☐



Yakın onluk: ☐



Yakın onluk: ☐



Yakın onluk: ☐

2 Sayıları en yakın onluğa yuvarlayın.

12 → _____	18 → _____	24 → _____	29 → _____
33 → _____	35 → _____	41 → _____	46 → _____
52 → _____	57 → _____	64 → _____	69 → _____
73 → _____	78 → _____	85 → _____	99 → _____

Sorumasyon · Tüm hakları saklıdır. · 2026

ONLUĞA YUVARLAMA ETKİNLİKLERİ

Dikkat: 5 ve üzerindeki birler, sayıyı bir üst onluğa taşır.

1 Tablodaki sayıları yuvarlayıp uygun onluğun altına yazın.

11	14	16	22	25	28	31	37	43	45	49
54	58	62	66	71	75	79	84	88	93	97

10	20	30	40	50

60	70	80	90	100

2 Doğruysa “D”, yanlışsa “Y” yazın.

24 → 20 ☐	35 → 30 ☐	61 → 60 ☐
78 → 80 ☐	94 → 90 ☐	45 → 50 ☐
52 → 60 ☐	19 → 20 ☐	86 → 80 ☐
70 → 70 ☐	99 → 100 ☐	13 → 10 ☐
26 → 30 ☐	44 → 50 ☐	85 → 90 ☐

3 Her iki sayıyı yuvarlayın. Sonuçları eşit olan kutuları boyayın.

22 - 18	34 - 27	43 - 46	52 - 48
64 - 57	71 - 75	83 - 88	91 - 96

Sorumasyon · Tüm hakları saklıdır. · 2026

SAYILARI KARŞILAŞTIRMA

Sayıların arasına <, > veya = sembollerinden uygun olanı yazın.

Hatırla: Timsahın açık ağzı büyük sayıya bakar. 38 < 61, 74 > 47 ve 55 = 55.

1 Karşılaştırma sembolünü yazın.

27 ☐ 72	46 ☐ 39	58 ☐ 58
91 ☐ 89	34 ☐ 43	65 ☐ 56
18 ☐ 21	77 ☐ 70	49 ☐ 51
83 ☐ 38	60 ☐ 60	29 ☐ 19
75 ☐ 79	44 ☐ 42	96 ☐ 69
32 ☐ 23	87 ☐ 88	54 ☐ 45

2 Şekilleri sayın, sayıları yazın ve karşılaştırın.



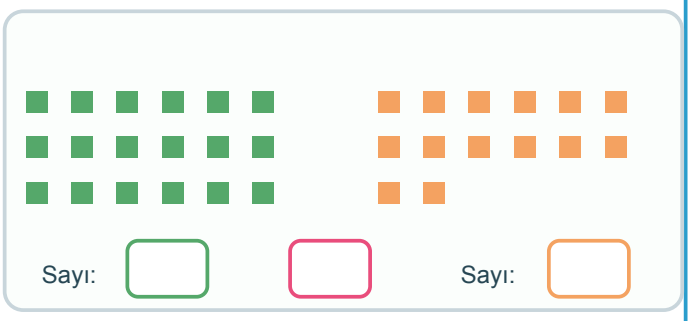





Sorumasyon · Tüm hakları saklıdır. · 2026

SAYILARI SIRALAMA

Sayıları küçükten büyüğe ve büyükten küçüğe sıralayalım.

1 Sayıları küçükten büyüğe doğru sıralayın.

38 - 21 - 47 - 29	→ _____
65 - 56 - 69 - 50	→ _____
14 - 41 - 19 - 36	→ _____
82 - 28 - 78 - 87	→ _____
53 - 35 - 55 - 33	→ _____
97 - 79 - 89 - 91	→ _____
46 - 64 - 49 - 61	→ _____

2 Sayıları büyükten küçüğe doğru sıralayın.

72 - 27 - 70 - 29	→ _____
44 - 48 - 84 - 40	→ _____
93 - 39 - 90 - 36	→ _____
57 - 75 - 55 - 77	→ _____
68 - 86 - 66 - 88	→ _____
31 - 13 - 30 - 18	→ _____

Sorumasyon · Tüm hakları saklıdır. · 2026

YUVARLA, KARŞILAŞTIR, DÜŞÜN

Önce yuvarlayın, sonra sonuçları karşılaştırın.

1 Sayıları onluğa yuvarlayın ve sonuçların arasına <, > veya = yazın.

24 → ☐ ☐ 27 → ☐	33 → ☐ ☐ 38 → ☐
41 → ☐ ☐ 44 → ☐	46 → ☐ ☐ 52 → ☐
58 → ☐ ☐ 61 → ☐	64 → ☐ ☐ 67 → ☐
72 → ☐ ☐ 78 → ☐	83 → ☐ ☐ 86 → ☐
91 → ☐ ☐ 94 → ☐	95 → ☐ ☐ 99 → ☐
15 → ☐ ☐ 24 → ☐	35 → ☐ ☐ 44 → ☐

2 Her satırda hedef onluğa yuvarlanan sayıların kutularını boyayın.

Hedef 20	14	16	22	25	27
Hedef 30	24	25	31	34	36
Hedef 40	35	39	44	45	47
Hedef 60	54	55	61	64	66
Hedef 80	74	75	81	84	86
Hedef 90	85	89	92	94	96

Sorumasyon · Tüm hakları saklıdır. · 2026

KARMA PROBLEMLER

Yuvarlama, karşılaştırma ve sıralama bilgilerini birlikte kullanalım.

1 Elif'in 34, Mert'in 38 çıkartması vardır. Sayıları en yakın onluğa yuvarlayın. Yuvarlanan sayılara göre kimin çıkartması daha fazladır?

2 Bir kutuda 47, diğer kutuda 52 kalem vardır. Sayıları onluğa yuvarladıktan sonra sonuçların arasına uygun karşılaştırma işaretini yazın.

3 23, 29, 31 ve 27 sayılarını küçükten büyüğe sıralayın. Sonra her sayıyı en yakın onluğa yuvarlayın.

4 70'e yuvarlanan, 68'den büyük ve 74'ten küçük bütün doğal sayıları yazın.

5 42'den büyük, 50'den küçük üç farklı sayı seçin. Bu sayıları büyükten küçüğe sıralayıp onluğa yuvarlayın.

6 85 sayısı ile 93 sayısı arasında bulunan ve 90'a yuvarlanan kaç doğal sayı vardır? Sayıları yazın.

7 Bir sayı 60'a yuvarlanıyor. Bu sayı 57'den büyük ve çift olduğuna göre alabileceği değerleri yazın.

8 Ayşe 26, Bora 34 ve Cem 31 puan aldı. Puanları küçükten büyüğe sıralayın. Yuvarlandığında aynı sonucu verenleri bulun.

Sorumasyon · Tüm hakları saklıdır. · 2026