İKİŞER RİTMİK SAYMA

Sayıların arasındaki farkı değiştirmeden ikişer ilerleyelim.

1 Eksik sayıları yazın.

0	2	4		8	10		14	16		20
2	4			10	12		16		20	22

2 Sayı doğrusundaki boşlukları ikişer sayarak tamamlayın.



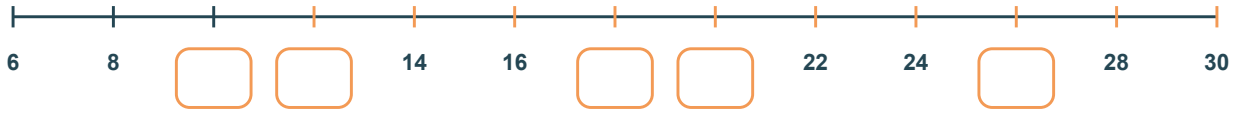

3 Başlangıç sayısından ok yönünde ikişer sayıp yolları tamamlayın.

8	10		14		18
14		18		22	24
20	22			28	30

4 Kutudaki sayılardan ikişer ritmik saymaya uygun olanları boyayın.

7	8	10	11	12
14	15	16	18	19
20	22	23	24	26

Sorumasyon · Tüm hakları saklıdır. · 2026

GERİYE DOĞRU İKİŞER SAYMA

Sayıları ikişer azaltarak geriye ilerleyelim.

1 **Eksik sayıları geriye doğru ikişer sayarak yazın.**

30	28	◯	24	◯	20	◯	16	14
24	□	20	□	16	14	□	10	8
18	16	◯	◯	10	◯	6	4	2

2 **Sayı doğrularındaki boş kutuları tamamlayın.**

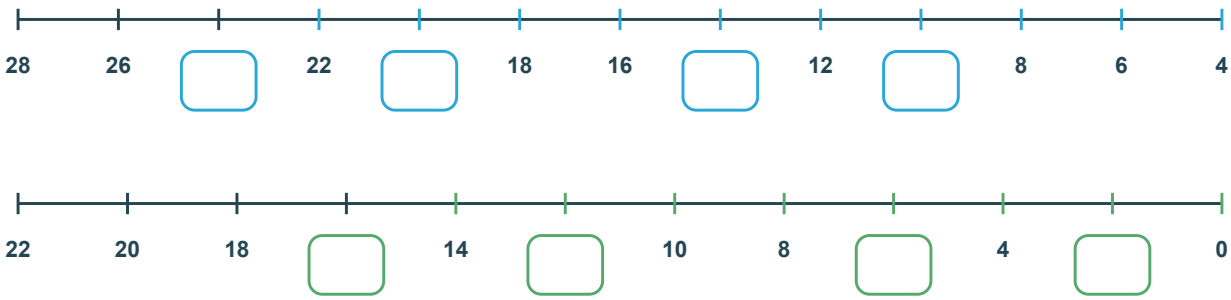

3 **Başlangıç sayısından geriye ikişer sayın.**

26 □ □ □ □	32 □ □ □ □
18 □ □ □ □	40 □ □ □ □

4 **Hangisi geriye doğru ikişer saymadır? İşaretleyin.**

- 18-16-14-12
- 20-18-15-13
- 14-12-10-8

Sorumasyon · Tüm hakları saklıdır. · 2026

ÜÇER RİTMİK SAYMA

Üçer sayarken her adımda sayıya 3 ekleriz.

1 Eksik sayıları üçer ritmik sayarak tamamlayın.

0	3	6		12	15		21	24		30
3	6		12		18	21		27	30	33

2 Üçün katı olan sayıları boyayın, sonra sırayla yazın.

1	2	3	4	5	6	7	8	9	10
11	12	13	14	15	16	17	18	19	20
21	22	23	24	25	26	27	28	29	30

Yazdığım sayılar: _____

_____

3 Soruları çözün ve doğru cevabı işaretleyin.

1 9'dan başlayıp üçer sayarsak 6. sayı kaçtır?

○ 21 ○ 24 ○ 27

2 6'dan başlayıp üçer sayarsak 8. sayı kaçtır?

○ 24 ○ 27 ○ 30

3 12'den başlayıp üçer sayarsak 5. sayı kaçtır?

○ 21 ○ 24 ○ 27

4 3'ten başlayıp üçer sayarsak 9. sayı kaçtır?

○ 24 ○ 27 ○ 30

Sorumasyon · Tüm hakları saklıdır. · 2026

GERİYE DOĞRU ÜÇER SAYMA

Her adımda sayıdan 3 çıkararak geriye sayalım.

1 **Dizileri geriye doğru üçer sayarak tamamlayın.**

30	27		21		15	12		6	3	0
33	30			21	18		12		6	3
24	21	18		12		6	3	0		

2 **Ok yönünden başlayıp geriye üçer sayarak çarkları tamamlayın.**

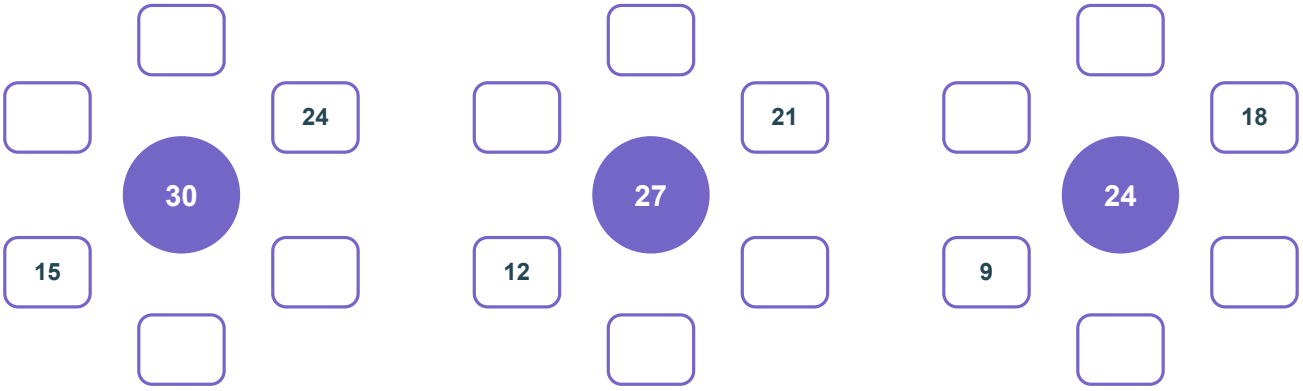

3 **İleriye üçer, geriye birer sayarak iki yönü tamamlayın.**

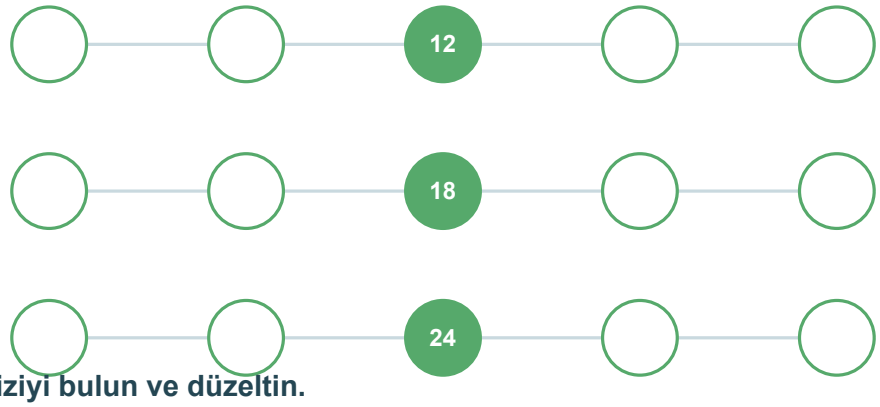

4 **Yanlış olan diziyi bulun ve düzeltin.**

24-21-18-15	30-27-25-22	18-15-12-9

Sorumasyon · Tüm hakları saklıdır. · 2026

DÖRDER RİTMİK SAYMA

Dörder sayarken her adımda sayıya 4 ekleriz.

1 Eksik sayıları dörder ritmik sayarak tamamlayın.

0	4	8		16	20		28	32		40

4	8		16		24	28		36	40	44

2 Dördün katı olan sayıları boyayın ve aşağıya yazın.

1	2	3	4	5	6	7	8	9	10	11
12	13	14	15	16	17	18	19	20	21	22
23	24	25	26	27	28	29	30	31	32	33
34	35	36	37	38	39	40	41	42	43	44

Sıralı sayılar: _____

_____

3 Diziyi oluşturan kuralı bulun ve boşlukları doldurun.

Başlangıç: 12	12	16		24		32
Artış: 4	8		16		24	28
Son sayı: 40	20	24			36	40

4 Hangisi dörder ritmik saymaya uymaz?

- 12-16-20-24
- 8-12-15-19
- 20-24-28-32

Sorumasyon · Tüm hakları saklıdır. · 2026

GERİYE DOĞRU DÖRDER SAYMA

Dörder azaltırken her adımda sayıdan 4 çıkarırız.

1 Eksik sayıları geriye doğru dörder sayarak tamamlayın.

40	36		28		20	16		8	4	0
44	40		32	28		20		12	8	4

2 Sayı doğrularını ok yönünde tamamlayın.



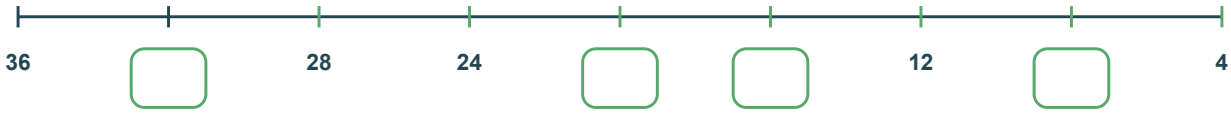

3 Başlangıçtan geriye dörder sayın; son sayıyı yazın.

32 sayısından başlayıp 5 sayı söyleyin. ☐

40 sayısından başlayıp 7 sayı söyleyin. ☐

28 sayısından başlayıp 4 sayı söyleyin. ☐

36 sayısından başlayıp 6 sayı söyleyin. ☐

4 Yanlış sayıyı bulun ve doğrusunu kutuya yazın.

36-32-28-25-20 ☐	28-24-20-16-11 ☐	40-36-32-28-22 ☐
32-28-24-18-16 ☐	24-20-16-12-7 ☐	44-40-36-31-28 ☐

Sorumasyon · Tüm hakları saklıdır. · 2026

BEŞER RİTMİK SAYMA

Beşer sayarken sayıların birler basamağı 0 veya 5 olur.

1 **İleriye doğru beşer sayarak eksikleri tamamlayın.**

5	10	15		25	30		40	45		55
25	30		40		50	55		65	70	75

2 **Geriye doğru beşer sayarak boşlukları doldurun.**

65		55	50		40		30	25	20	15
95	90		80		70	65		55	50	45

3 **Renkli sayıdan başlayıp sola geriye, sağa ileriye beşer sayın.**

		35		
		50		
		75		

4 **Kutudaki sayılardan beşer ritmik saymaya uyanları boyayın.**

15	18	20	25	29
30	35	41	45	50
54	55	60	66	70
75	81	85	90	94

Sorumasyon · Tüm hakları saklıdır. · 2026

ONAR RİTMİK SAYMA

Onar sayarken onlar basamağı değişir, birler basamağı aynı kalır.

1 İleriye doğru onar sayarak dizileri tamamlayın.

10	20	30		50	60		80	90	100
7	17		37		57	67		87	97

2 Geriye doğru onar sayarak boşlukları doldurun.

100	90		70		50	40		20	10
96	86		66	56		36		16	6

3 Başlangıç sayısından ok yönünde onar sayın.

24					ileri
83					geri
15					ileri
92					geri

4 Kuralı bozan sayıyı bulun ve doğrusunu kutuya yazın.

12-22-32-41-52	96-86-76-66-55	25-35-45-54-65
8-18-28-39-48	74-64-54-44-35	31-41-51-61-70

Sorumasyon · Tüm hakları saklıdır. · 2026

KARMA RİTMİK SAYMA BULMACALARI

Kuralı kendiniz keşfedin ve dikkatle uygulayın.

1 Dizinin artış veya azalış miktarını yazıp eksikleri tamamlayın.

Kural: ☐

8	10	12	☐	16	☐	20

Kural: ☐

30	27	☐	21	☐	15	12

Kural: ☐

12	16	☐	24	☐	32	36

Kural: ☐

75	70	☐	60	☐	50	45

Kural: ☐

14	24	☐	44	☐	64	74

Kural: ☐

36	34	☐	30	☐	26	24

Kural: ☐

5	10	☐	20	☐	30	35

Kural: ☐

48	44	☐	36	☐	28	24

2 Aynı sonucu veren iki yolu eşleştirin.

6’dan başlayıp 6 kez üçer	28
12’den başlayıp 5 kez dörder	50
50’den geriye 7 kez beşer	21
20’den başlayıp 4 kez onar	20

Sorumasyon · Tüm hakları saklıdır. · 2026

RİTMİK SAYMA PROBLEMLERİ - 1

Başlangıç sayısının saymaya dahil olduğunu unutmayın.

1 20'den başlayıp dörder saydığımızda 6. söylediğimiz sayı kaçtır?

○ 36 ○ 40 ○ 44

2 35'ten geriye beşer saydığımızda 7. söylediğimiz sayı kaçtır?

○ 0 ○ 5 ○ 10

3 12'den başlayıp üçer saydığımızda 5. söylediğimiz sayı kaçtır?

○ 21 ○ 24 ○ 27

4 32'den geriye dörder saydığımızda 6. söylediğimiz sayı kaçtır?

○ 8 ○ 12 ○ 16

5 18'den başlayıp ikişer saydığımızda 8. söylediğimiz sayı kaçtır?

○ 30 ○ 32 ○ 34

6 60'tan geriye onar saydığımızda 5. söylediğimiz sayı kaçtır?

○ 10 ○ 20 ○ 30

7 45'ten geriye beşer saydığımızda 6. söylediğimiz sayı kaçtır?

○ 15 ○ 20 ○ 25

8 7'den başlayıp üçer saydığımızda 7. söylediğimiz sayı kaçtır?

○ 22 ○ 25 ○ 28

Sorumasyon · Tüm hakları saklıdır. · 2026

RİTMİK SAYMA PROBLEMLERİ - 2

Birden fazla adımı olan sorularda küçük bir sayı dizisi kurun.

1 Ece 8’den başlayıp dörder saydı. 6. sayıda durdu. Hangi sayıda durdu?

○ 24 ○ 28 ○ 32

2 Mert 30’dan geriye üçer saydı. 8. söylediği sayı hangisidir?

○ 6 ○ 9 ○ 12

3 20’den başlayıp onar sayarken 70 kaçıncı sırada söylenir?

○ 5 ○ 6 ○ 7

4 14’ten başlayıp ikişer sayarken 26 kaçıncı sırada söylenir?

○ 6 ○ 7 ○ 8

5 Ayşe 5’ten beşer saydı; Can 8’den dörder saydı. İlk ortak sayıları kaçtır?

○ 20 ○ 25 ○ 40

6 36’dan geriye dörder sayarken 20’den sonra hangi sayı gelir?

○ 12 ○ 16 ○ 18

7 3’er sayılan 9, 12, 15, 18 dizisinin 8. sayısı kaçtır?

○ 21 ○ 24 ○ 30

8 10’dan ikişer sayan Ali ile 4’ten dörder sayan Eylül’ün ortak söylediği sayı hangisidir?

○ 14 ○ 16 ○ 18

Sorumasyon · Tüm hakları saklıdır. · 2026

ÖLÇME VE DEĞERLENDİRME

Ritmik sayma bilgilerinizi farklı soru türlerinde gösterin.

1 Soruları çözün ve doğru seçeneği işaretleyin.

1 4-8-12-16-? dizisi nasıl sürer?

○ 18 ○ 20 ○ 22

2 33-32-31-30-? dizisinin devamı nedir?

○ 27 ○ 28 ○ 29

3 15'ten başlayıp üçer sayınca 5. sayı kaçtır?

○ 24 ○ 27 ○ 30

4 40'tan geriye beşer sayınca 6. sayı kaçtır?

○ 10 ○ 15 ○ 20

5 16-18-?-22-24 boşluğuna ne gelir?

○ 19 ○ 20 ○ 21

6 10'dan başlayıp onar sayınca 7. sayı kaçtır?

○ 60 ○ 70 ○ 80

7 24'ten geriye dörder sayınca 4. sayı kaçtır?

○ 8 ○ 12 ○ 16

8 18'den ikişer sayarken 30 kaçıncı sayıdır?

○ 6 ○ 7 ○ 8

9 25,30,35,?,45 boşluğuna ne gelir?

○ 38 ○ 40 ○ 42

10 30,27,24,?,18 boşluğuna ne gelir?

○ 19 ○ 20 ○ 21

11 8'den dörder sayan biri 7. sırada ne söyler?

○ 28 ○ 32 ○ 36

12 9'dan üçer sayan biri 21'i kaçıncı sırada söyler?

○ 4 ○ 5 ○ 6

Sorumasyon · Tüm hakları saklıdır. · 2026

RİTMİK SAYMA - AÇIK UÇLU PROBLEMLER

İşlemlerinizi kutulara yazın. Başlangıç sayısı sayıma dahildir.

1) 20'den başlayıp ileriye dörder saydığımızda 5. sayı kaçtır?

2) 35'ten başlayıp geriye beşer saydığımızda 7. sayı kaçtır?

3) 27'den başlayıp geriye üçer saydığımızda 4. sayı kaçtır?

4) 32'den başlayıp geriye dörder saydığımızda 6. sayı kaçtır?

5) 18'den başlayıp ileriye ikişer saydığımızda 8. sayı kaçtır?

6) 40'tan başlayıp geriye dörder saydığımızda 7. sayı kaçtır?

7) 45'ten başlayıp geriye beşer saydığımızda 6. sayı kaçtır?

8) 12'den başlayıp ileriye üçer saydığımızda 9. sayı kaçtır?

9) 16'dan başlayıp geriye ikişer saydığımızda 5. sayı kaçtır?

10) 30'dan başlayıp geriye üçer saydığımızda 8. sayı kaçtır?

11) 50'den başlayıp ileriye onar saydığımızda 5. sayı kaçtır?

12) 55'ten başlayıp ileriye beşer saydığımızda 7. sayı kaçtır?

Sorumasyon · Tüm hakları saklıdır. · 2026