SAYI ÖRÜNTÜLERİ

Örüntünün kuralını bulalım ve aynı kuralla sürdürelim.

1 Sayı örüntülerini üç adım sürdürün.

25	30	35	40	45			
16	18	20	22	24			
12	16	20	24	28			
9	12	15	18	21			
12	14	16	18	20			
3	6	9	12	15			

2 Eksik sayıları örüntünün kuralına göre tamamlayın.

40	36	32	28	24	20	16	12	8	
3	6	9	12	15	18	21	24		
80	75	70	65	60	55	50			
32	30	28	26	24	22				
36	32	28	24	20	16	12			
50	45	40	35	30	25	20			

Sorumasyon · Tüm hakları saklıdır. · 2026

ÖRÜNTÜ KURALINI UYGULUYORUM

Başlangıç sayısı ve kurala göre yeni örüntüler oluşturalım.

1 Verilen sayıdan başlayarak yedi adımlı örüntüler oluşturun.

Birer azalıyor	27						
İkişer artıyor	10						
Beşer artıyor	15						
İkişer azalıyor	28						
Onar artıyor	20						
Üçer artıyor	9						

2 Sayı örüntülerindeki boşlukları tamamlayın.

4	6	8				16
26	24	22		18		14
36	33	30		24		18
5	10	15		25		35
90	85	80			55	50
4	8	12		20		28

Sorumasyon · Tüm hakları saklıdır. · 2026

KURALI BOZAN SAYIYI BULUYORUM

Her dizide kurala uymayan bir sayı var.

1 **Kuralı bozan sayıyı işaretleyin ve doğrusunu kutuya yazın.**

12-14-16-18-19-22-24	Doğrusu:
3-6-9-12-15-20-21	Doğrusu:
5-10-15-20-25-30-50	Doğrusu:
4-8-12-16-18-24-28	Doğrusu:
30-28-26-24-22-20-17	Doğrusu:
9-12-15-18-21-25-27	Doğrusu:

2 **Tablolardaki soru işaretlerinin yerine gelecek sayıları yazın.**

4	8	12
16	?	24
28	32	36

3	6	9
12	15	?
21	24	?

6	8	10
?	14	16
18	?	22

5	10	15
20	25	30
?	?	45

20	18	16
?	12	10
8	?	4

30	27	24
21	18	?
12	9	?

40	36	32
?	24	?
16	12	8

50	45	40
?	30	25
20	?	10

Sorumasyon · Tüm hakları saklıdır. · 2026

ÖRÜNTÜLER - ÖLÇME VE DEĞERLENDİRME

Kuralı bulup doğru seçeneği işaretleyin.

1 24-28-32-36-? örüntüsü hangi sayıyla sürer?

○ 38 ○ 40 ○ 44

2 30-28-26-24-22 örüntüsünün kuralı nedir?

○ 2 artar ○ 2 azalır ○ 4 azalır

3 16-20-24-28-32 dizisinin kuralı hangisidir?

○ 4 artar ○ 4 azalır ○ 5 artar

4 30-27-24-21-18 örüntüsü hangi sayıyla sürer?

○ 17 ○ 16 ○ 15

5 40-45-?-55-60 boşluğuna ne gelir?

○ 48 ○ 50 ○ 52

6 8-12-16-20-28 dizisinde yanlış sayı hangisidir?

○ 16 ○ 20 ○ 28

7 32-28-24-?-16-12 boşluğuna ne gelir?

○ 18 ○ 20 ○ 22

8 3-8-13-18-23-? örüntüsü nasıl sürer?

○ 28 ○ 29 ○ 30

9 10-13-16-19-? boşluğuna ne gelir?

○ 21 ○ 22 ○ 23

10 50-45-40-35-? dizisinin son sayısı nedir?

○ 25 ○ 30 ○ 32

Sorumasyon · Tüm hakları saklıdır. · 2026

ÖRÜNTÜDE EKSİK ÖĞEYİ BULUYORUM

Şekillerin sırasını inceleyip eksik öğeyi seçin.

1 **Eksik bırakılan şekli seçeneklerden bulup işaretleyin.**



Sorumasyon · Tüm hakları saklıdır. · 2026

ÖRÜNTÜDEKİ İLİŞKİ

Tekrar eden grubu sembollerle ve sayılarla gösterelim.

1 **Şekillerin altına A, B veya C yazarak tekrar eden grubu gösterin.**

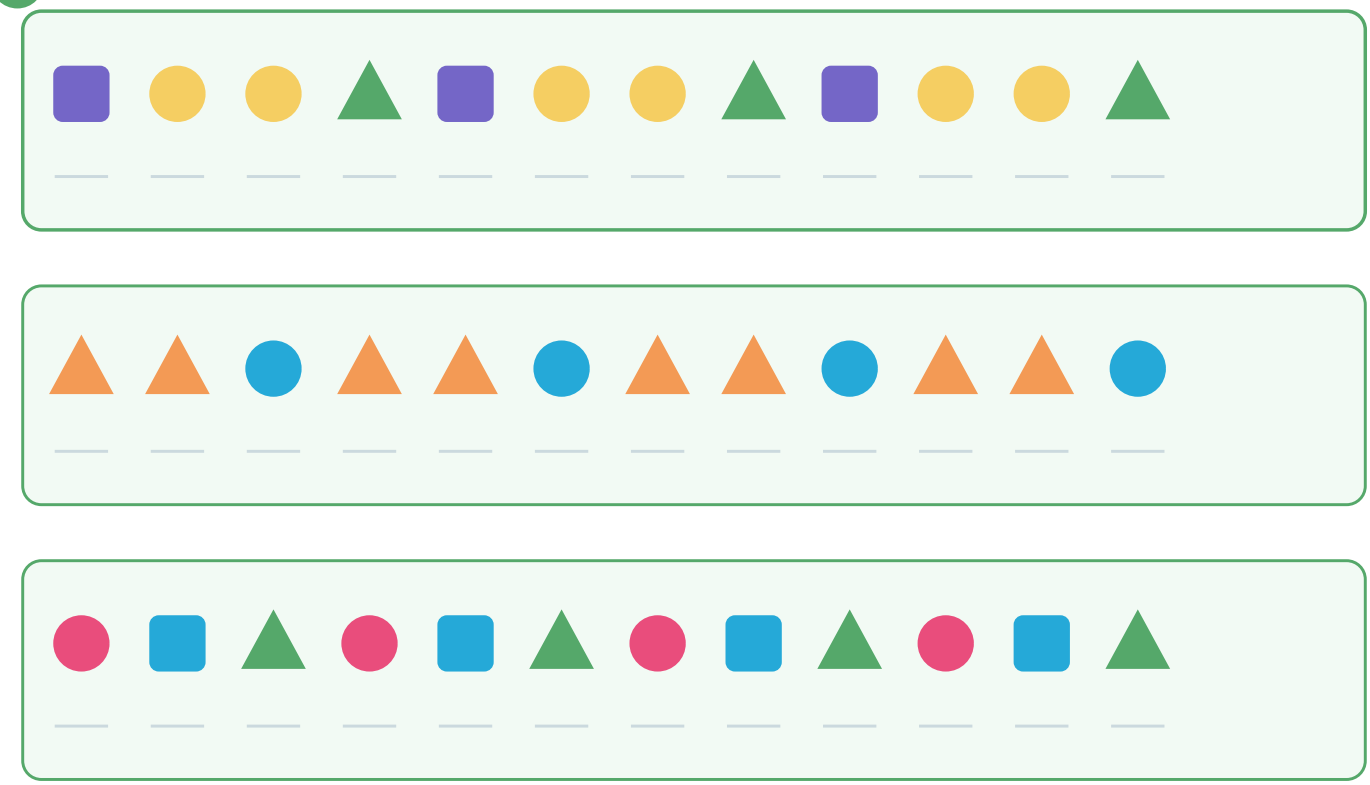

2 **Her tekrar grubunun kaç öğeden oluştuğunu yazın.**



3 **Aynı ilişkiye sahip örüntüyü seçeneklerden bulun.**

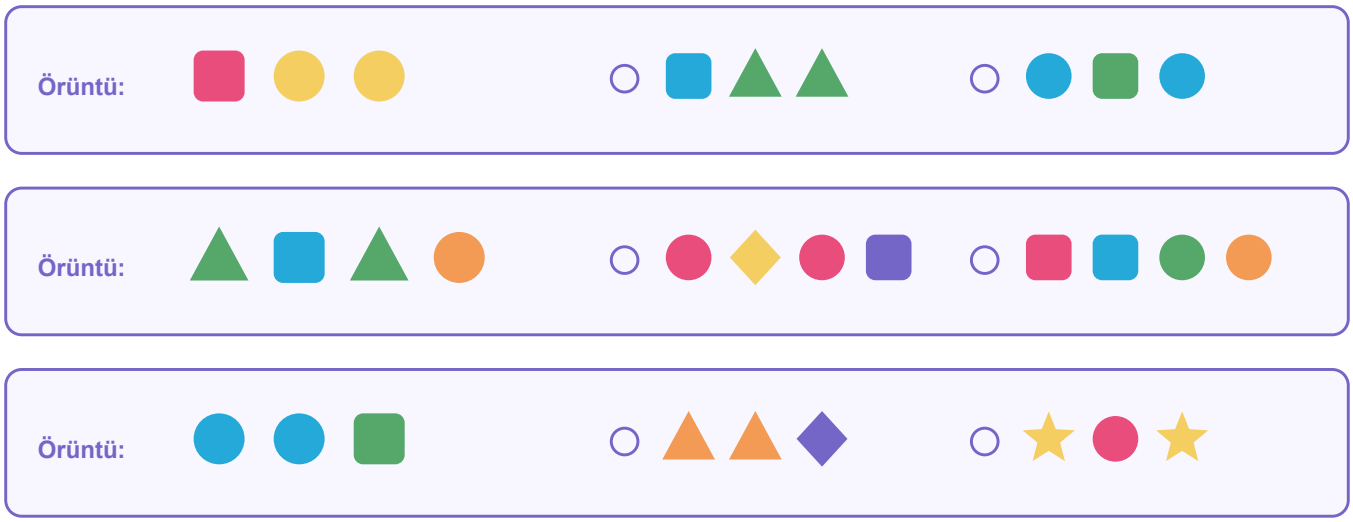

Sorumasyon · Tüm hakları saklıdır. · 2026