SAYILARI TANIYALIM

Üç basamaklı sayıların yüzler, onlar ve birler basamaklarını keşfedelim.

BİLGİ KUTUSU

Üç basamaklı doğal sayılar 100 ile 999 arasındadır. Soldan sağa yüzler, onlar ve birler basamakları bulunur.

Örnek: 426 = 4 yüzlük + 2 onluk + 6 birlik

1 **Taban bloklarını inceleyin. Sayıyı rakamla ve yazıyla yazın.**

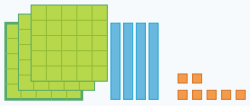

Sayı: ☐

Okunuşu: _____

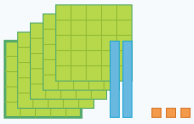

Sayı: ☐

Okunuşu: _____



Sayı: ☐

Okunuşu: _____

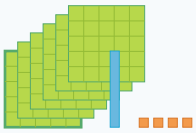

Sayı: ☐

Okunuşu: _____

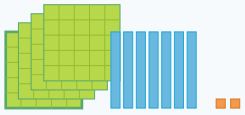

Sayı: ☐

Okunuşu: _____

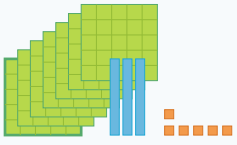

Sayı: ☐

Okunuşu: _____

Sorumasyon · Tüm hakları saklıdır. · 2026

SAYILARI OKUYORUM VE YAZIYORUM

Rakamlarla yazılan sayıları okuyalım; sözcüklerle verilenleri rakamla gösterelim.

1 Sayıların okunuşlarını karşılarına yazın.

214	_____	507	_____
821	_____	409	_____
670	_____	108	_____
349	_____	777	_____
905	_____	650	_____
315	_____	563	_____
471	_____	701	_____

2 Okunuşları verilen doğal sayıları rakamla yazın.

dokuz yüz on	_____	iki yüz yedi	_____
sekiz yüz yirmi beş	_____	altı yüz altı	_____
dört yüz dokuz	_____	beş yüz on sekiz	_____
üç yüz elli yedi	_____	beş yüz altmış	_____
yedi yüz on beş	_____	iki yüz iki	_____
üç yüz on bir	_____	yedi yüz yetmiş yedi	_____
dokuz yüz elli	_____	sekiz yüz on sekiz	_____

3 Okunuşları rakamla yazın.

yüz kırk üç	altı yüz doksan	sekiz yüz beş	dokuz yüz yirmi
_____	_____	_____	_____

Sorumasyon · Tüm hakları saklıdır. · 2026

EKSİK RAKAMLARI TAMAMLIYORUM

Sayıların yazılışı ile okunuşu arasındaki ilişkiyi kullanalım.

1 Eksik rakamları, verilen okunuşa göre tamamlayın.

4_8	dört yüz yirmi sekiz	**_65**	üç yüz altmış beş
75_	yedi yüz elli beş	**50_**	beş yüz altı
6_1	altı yüz seksen bir	**_48**	dokuz yüz kırk sekiz
70_	yedi yüz dört	**1_1**	yüz on bir
23_	iki yüz otuz sekiz	**8_3**	sekiz yüz kırk üç

2 Her sayıyı doğru okunuşuyla eşleştirin.

587 ○	○ yüz yetmiş beş
403 ○	○ altı yüz kırk yedi
521 ○	○ beş yüz seksen yedi
647 ○	○ dört yüz üç
175 ○	○ beş yüz yirmi bir

3 Okunuşu verilen sayıları rakamla yazın.

iki yüz kırk altı ☐	beş yüz dokuz ☐	yedi yüz seksen ☐	dokuz yüz üç ☐

Sorumasyon · Tüm hakları saklıdır. · 2026

ABAKÜSLE SAYILAR

Yüzler, onlar ve birler çubuklarındaki boncukları okuyalım.

1 **Abaküslerde modellenen sayıları ve okunuşlarını yazın.**

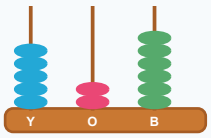

Sayı:

Okunuşu:

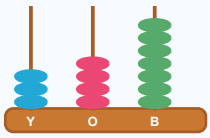

Sayı:

Okunuşu:

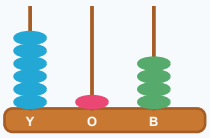

Sayı:

Okunuşu:

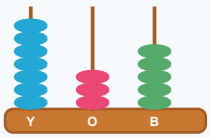

Sayı:

Okunuşu:

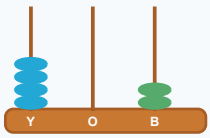

Sayı:

Okunuşu:

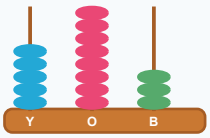

Sayı:

Okunuşu:

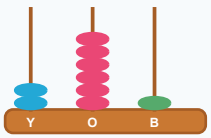

Sayı:

Okunuşu:

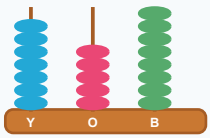

Sayı:

Okunuşu:

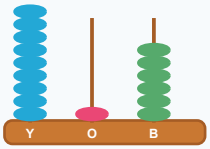

Sayı:

Okunuşu:

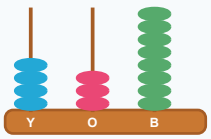

Sayı:

Okunuşu:

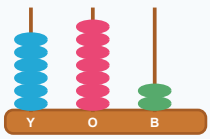

Sayı:

Okunuşu:

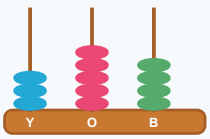

Sayı:

Okunuşu:

Sorumasyon · Tüm hakları saklıdır. · 2026

BASAMAK ADI VE BASAMAK DEĞERİ

Bir rakamın değeri bulunduğu basamağa göre değişir.

ÖRNEK: 643

6 yüzler basamağında → basamak değeri 600 | 4 onlar basamağında → 40 | 3 birler basamağında → 3

1 **Sayıları inceleyin; basamak adı ve basamak değerlerini tamamlayın.**

	Yüzler	Onlar	Birler
804	Rakam:	Rakam:	Rakam:
	Değer:	Değer:	Değer:
263	Rakam:	Rakam:	Rakam:
	Değer:	Değer:	Değer:
791	Rakam:	Rakam:	Rakam:
	Değer:	Değer:	Değer:
214	Rakam:	Rakam:	Rakam:
	Değer:	Değer:	Değer:
850	Rakam:	Rakam:	Rakam:
	Değer:	Değer:	Değer:
907	Rakam:	Rakam:	Rakam:
	Değer:	Değer:	Değer:
321	Rakam:	Rakam:	Rakam:
	Değer:	Değer:	Değer:
692	Rakam:	Rakam:	Rakam:
	Değer:	Değer:	Değer:
555	Rakam:	Rakam:	Rakam:
	Değer:	Değer:	Değer:
471	Rakam:	Rakam:	Rakam:
	Değer:	Değer:	Değer:

Sorumasyon · Tüm hakları saklıdır. · 2026

SAYILARI ÇÖZÜMLÜYORUM

Sayıları yüzlük, onluk ve birliklerin toplamı biçiminde gösterelim.

1 Sayıların çözümlemelerini yazın.

325 _____

741 _____

816 _____

963 _____

172 _____

609 _____

608 _____

290 _____

507 _____

430 _____

854 _____

381 _____

2 Çözümlemesi verilen sayıları bulun.

5 yüzlük + 2 onluk + 7 birlik		8 yüzlük + 4 birlik	
3 yüzlük + 9 onluk		6 yüzlük + 1 onluk + 5 birlik	
9 yüzlük + 7 onluk + 2 birlik		4 yüzlük + 5 onluk + 8 birlik	
2 yüzlük + 3 birlik		7 yüzlük + 8 onluk	
1 yüzlük + 6 onluk + 9 birlik		5 yüzlük + 5 onluk + 5 birlik	
3 yüzlük + 2 onluk + 6 birlik		8 yüzlük + 6 onluk + 1 birlik	

Sorumasyon · Tüm hakları saklıdır. · 2026

SAYI DEDEKTİFLERİ

İpuçlarını kullanıp sayıları bulalım ve sayı bulmacasını çözelim.

1 İpuçlarına uyan üç basamaklı sayıyı yazın.

Yüzler basamağı 4, onlar basamağı 7, birler basamağı 2 olan sayı

500'den büyük en küçük üç basamaklı tek sayı

Rakamları farklı, 8 yüzlük 3 onluk 6 birlikten oluşan sayı

Yüzler basamağı 6, onlar basamağı 0, birler basamağı 9 olan sayı

700'den küçük en büyük üç basamaklı çift sayı

Rakamları toplamı 12 olan 345 sayısı

Birler basamağı 5, yüzler basamağı 9, onlar basamağı 2 olan sayı

4 yüzlük ile 18 birliğin toplamı olan sayı

2 Kutulardaki sayıları, altlarındaki yönergeye göre dönüştürün.

248 Okunuşunu yaz.

703 Çözümle.

561 Basamak değerlerini yaz.

390 Okunuşunu yaz.

817 Çözümle.

406 Basamak değerlerini yaz.

Sorumasyon · Tüm hakları saklıdır. · 2026

ÖLÇME VE DEĞERLENDİRME

Sayıları okuma, yazma ve çözümleme bilgilerini birlikte kullanalım.

1 “Altı yüz kırk iki” sayısının rakamla yazılışı hangisidir?

◯ 624 ◯ 642 ◯ 462

2 507 sayısının doğru okunuşu hangisidir?

◯ beş yüz yedi ◯ beş yüz yetmiş ◯ elli yedi

3 8 yüzlük + 3 onluk + 4 birlik hangi sayıdır?

◯ 843 ◯ 834 ◯ 384

4 720 sayısında 2 rakamının basamak değeri kaçtır?

◯ 2 ◯ 20 ◯ 200

5 906 sayısının çözümlemesi hangisidir?

◯ 900 + 6 ◯ 90 + 6 ◯ 900 + 60

6 481 sayısında onlar basamağındaki rakam hangisidir?

◯ 4 ◯ 8 ◯ 1

7 Üç basamaklı en küçük doğal sayı hangisidir?

◯ 99 ◯ 100 ◯ 101

8 7 yüzlük ve 5 birlikten oluşan sayı hangisidir?

◯ 705 ◯ 750 ◯ 75

9 “Dokuz yüz doksan” sayısının rakamla yazılışı hangisidir?

◯ 909 ◯ 990 ◯ 999

10 356 sayısında yüzler basamağının değeri kaçtır?

◯ 3 ◯ 30 ◯ 300

11 400 + 70 + 2 çözümlemesinin sayısı hangisidir?

◯ 427 ◯ 472 ◯ 742

12 608 sayısında onlar basamağında hangi rakam vardır?

◯ 0 ◯ 6 ◯ 8

Sorumasyon · Tüm hakları saklıdır. · 2026