ÜÇ BASAMAKLI SAYILARI KARŞILAŞTIRIYORUM

Yüzler basamağından başlayarak karşılaştıralım; gerekirse onlar ve birlere geçelim.

HATIRLA

Önce yüzler basamağına bak. Yüzler eşitse onlar, onlar da eşitse birler basamağını karşılaştır.

1 **Boş kutuya <, > veya = sembollerinden uygun olanı yazın.**

348 ☐ 384	572 ☐ 527	615 ☐ 615
209 ☐ 290	843 ☐ 834	706 ☐ 760
499 ☐ 501	920 ☐ 902	375 ☐ 357
681 ☐ 681	128 ☐ 821	954 ☐ 945

2 **Ortadaki kutuya eşitsizliği sağlayan bir sayı yazın.**

240 < ☐ < 250	517 < ☐ < 530
699 < ☐ < 710	320 < ☐ < 400
875 < ☐ < 900	101 < ☐ < 115
450 < ☐ < 500	930 < ☐ < 950

Sorumasyon · Tüm hakları saklıdır. · 2026

SAYILARI SIRALIYORUM

Sayıları istenen yönde sıralayıp boş zincire yazalım.

1 Sayıları küçükten büyüğe doğru sıralayın.

Verilen: 473 - 128 - 546 - 325 - 193 - 814

◯ < ◯ < ◯ < ◯ < ◯ < ◯

Verilen: 208 - 685 - 272 - 926 - 217 - 516

◯ < ◯ < ◯ < ◯ < ◯ < ◯

Verilen: 713 - 524 - 806 - 581 - 523 - 604

◯ < ◯ < ◯ < ◯ < ◯ < ◯

Verilen: 385 - 396 - 746 - 785 - 384 - 397

◯ < ◯ < ◯ < ◯ < ◯ < ◯

Verilen: 123 - 753 - 567 - 413 - 100 - 900

◯ < ◯ < ◯ < ◯ < ◯ < ◯

2 Sayıları büyükten küçüğe doğru sıralayın.

Verilen: 843 - 887 - 265 - 589 - 649 - 117

◯ > ◯ > ◯ > ◯ > ◯ > ◯

Verilen: 456 - 127 - 623 - 926 - 512 - 706

◯ > ◯ > ◯ > ◯ > ◯ > ◯

Verilen: 781 - 794 - 307 - 378 - 312 - 405

◯ > ◯ > ◯ > ◯ > ◯ > ◯

Sorumasyon · Tüm hakları saklıdır. · 2026

EN YAKIN ONLUĞA YUVARLAMA

Birler basamağı 0–4 ise aşağı, 5–9 ise yukarı yuvarlanır.

YUVARLAMA KURALI

Birler basamağı 5'ten küçükse bulunduğu onluğa; 5 veya daha büyükse sonraki onluğa yuvarlanır. Örnek: 173 → 170, 176 → 180.

1 **Sayı doğrusundaki sayının yakın olduğu onluğu yazın.**

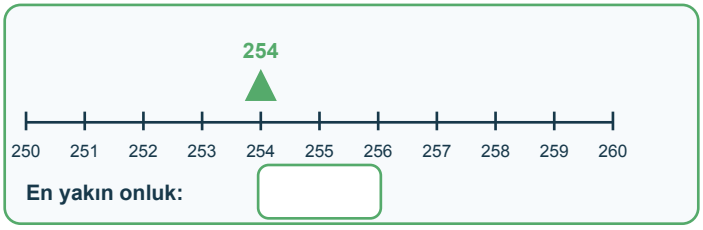

En yakın onluk: ☐

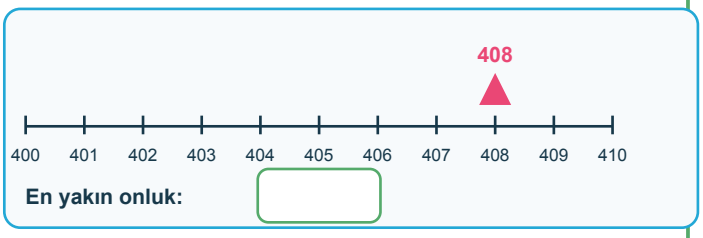

En yakın onluk: ☐

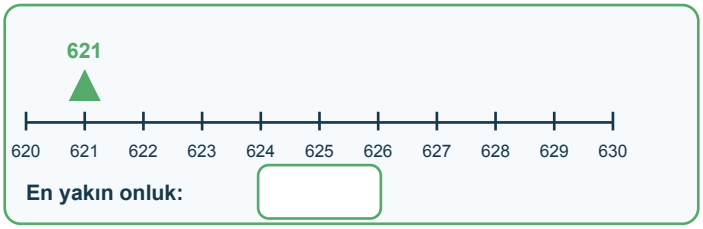

En yakın onluk: ☐

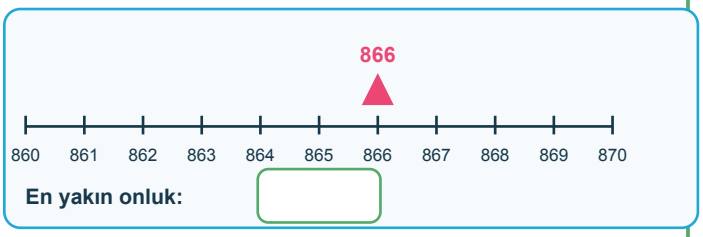

En yakın onluk: ☐

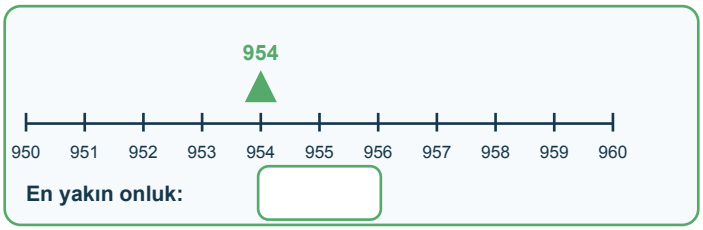

En yakın onluk: ☐

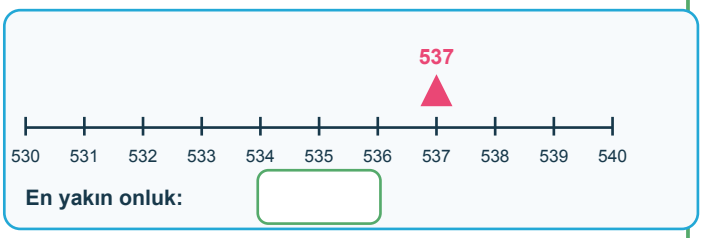

En yakın onluk: ☐

2 **Sayıları en yakın onluğa yuvarlayın.**

273 Onluk ☐	544 Onluk ☐	606 Onluk ☐	783 Onluk ☐
821 Onluk ☐	988 Onluk ☐	326 Onluk ☐	157 Onluk ☐
515 Onluk ☐	479 Onluk ☐	391 Onluk ☐	632 Onluk ☐

Sorumasyon · Tüm hakları saklıdır. · 2026

ONLUĞA YUVARLAMA PARKURU

Yuvarlama sonucunu bulalım, doğru-yanlışları değerlendirelim.

1 Sayıları en yakın onluğa yuvarlayın.

74 Sonuç ☐	95 Sonuç ☐	142 Sonuç ☐	317 Sonuç ☐
409 Sonuç ☐	184 Sonuç ☐	265 Sonuç ☐	348 Sonuç ☐
523 Sonuç ☐	594 Sonuç ☐	645 Sonuç ☐	788 Sonuç ☐
826 Sonuç ☐	918 Sonuç ☐	357 Sonuç ☐	282 Sonuç ☐
555 Sonuç ☐	639 Sonuç ☐	498 Sonuç ☐	787 Sonuç ☐

2 Yuvarlama doğruysa D, yanlışsa Y yazın.

74 → 70 ☐	95 → 100 ☐	142 → 150 ☐
317 → 320 ☐	184 → 180 ☐	265 → 260 ☐
409 → 410 ☐	523 → 520 ☐	645 → 650 ☐
788 → 780 ☐	918 → 920 ☐	594 → 590 ☐

3 Verilen onluğa yuvarlanabilecek iki farklı sayı yazın.

120	260	990	720
☐ ☐	☐ ☐	☐ ☐	☐ ☐

Sorumasyon · Tüm hakları saklıdır. · 2026

EN YAKIN YÜZLÜĞE YUVARLAMA

Onlar basamağı 0–4 ise aşağı, 5–9 ise yukarı yuvarlanır.

YUVARLAMA KURALI

Onlar basamağı 5'ten küçükse bulunduğu yüzlüğe; 5 veya daha büyükse sonraki yüzlüğe yuvarlanır. Örnek: 324 → 300, 365 → 400.

1 **Sayı doğrusundaki sayının yakın olduğu yüzlüğü yazın.**

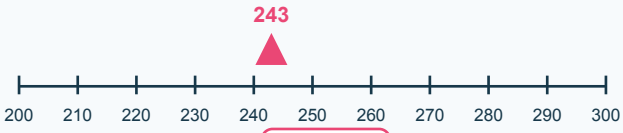

En yakın yüzlük: ☐

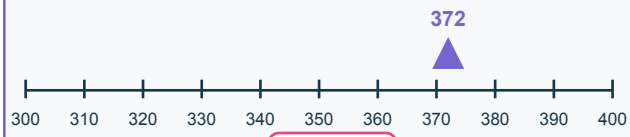

En yakın yüzlük: ☐



En yakın yüzlük: ☐

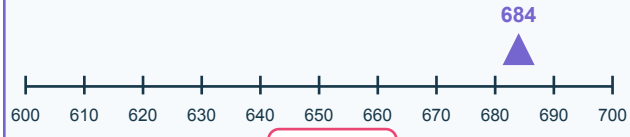

En yakın yüzlük: ☐

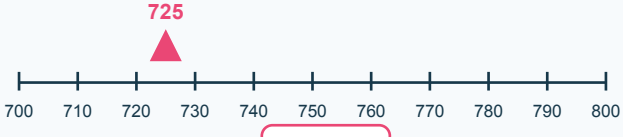

En yakın yüzlük: ☐

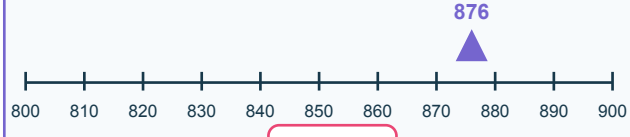

En yakın yüzlük: ☐

2 **Sayıları en yakın yüzlüğe yuvarlayın.**

281 Yüzlük: ☐	658 Yüzlük: ☐	805 Yüzlük: ☐	335 Yüzlük: ☐
519 Yüzlük: ☐	493 Yüzlük: ☐	783 Yüzlük: ☐	175 Yüzlük: ☐
686 Yüzlük: ☐	209 Yüzlük: ☐	394 Yüzlük: ☐	853 Yüzlük: ☐

Sorumasyon · Tüm hakları saklıdır. · 2026

YÜZLÜĞE YUVARLAMA PARKURU

Yakın yüzlüğü bulalım ve yuvarlama aralıklarını keşfedelim.

1 Sayıları en yakın yüzlüğe yuvarlayın.

140 Sonuç ☐	263 Sonuç ☐	324 Sonuç ☐	225 Sonuç ☐
386 Sonuç ☐	417 Sonuç ☐	568 Sonuç ☐	485 Sonuç ☐
523 Sonuç ☐	625 Sonuç ☐	684 Sonuç ☐	725 Sonuç ☐
896 Sonuç ☐	784 Sonuç ☐	946 Sonuç ☐	149 Sonuç ☐
373 Sonuç ☐	513 Sonuç ☐	656 Sonuç ☐	916 Sonuç ☐

2 Yuvarlama doğruysa D, yanlışsa Y yazın.

140 → 100 ☐	263 → 300 ☐	324 → 300 ☐
225 → 200 ☐	386 → 300 ☐	417 → 400 ☐
568 → 600 ☐	485 → 500 ☐	523 → 500 ☐
625 → 600 ☐	684 → 700 ☐	946 → 900 ☐

3 Verilen yüzlüğe yuvarlanabilecek iki farklı sayı yazın.

300 ☐ ☐	500 ☐ ☐	700 ☐ ☐	900 ☐ ☐

Sorumasyon · Tüm hakları saklıdır. · 2026

SIRALA VE YUVARLA

Önce sayıları sıralayalım, ardından onluğa ve yüzlüğe yuvarlayalım.

1 Her gruptaki sayıları küçükten büyüğe doğru sıralayın.

Verilen: 438 - 384 - 483 - 348 - 843

◯ < ◯ < ◯ < ◯ < ◯

Verilen: 725 - 257 - 572 - 527 - 752

◯ < ◯ < ◯ < ◯ < ◯

Verilen: 916 - 619 - 691 - 169 - 961

◯ < ◯ < ◯ < ◯ < ◯

Verilen: 604 - 460 - 406 - 640 - 664

◯ < ◯ < ◯ < ◯ < ◯

2 Doğru sıralanmış seçeneği işaretleyin.

- ○ 348 < 384 < 438 < 483 < 843
- ○ 348 < 438 < 384 < 483 < 843

- ○ 257 < 527 < 572 < 725 < 752
- ○ 257 < 572 < 527 < 725 < 752

- ○ 961 > 916 > 691 > 619 > 169
- ○ 916 > 961 > 691 > 619 > 169

- ○ 664 > 640 > 604 > 460 > 406
- ○ 640 > 664 > 604 > 460 > 406

3 Aşağıdaki sayıların en yakın onluğunu ve yüzlüğünü yazın.

438	Onluk		**725**	Onluk		**916**	Onluk	
	Yüzlük			Yüzlük			Yüzlük	
604	Onluk		**352**	Onluk		**781**	Onluk	
	Yüzlük			Yüzlük			Yüzlük	

4 Koşula uyan bir sayı yazın.

Onluğu 250, yüzlüğü 300 ☐

Onluğu 640, yüzlüğü 600 ☐

Onluğu 780, yüzlüğü 800 ☐

Sorumasyon · Tüm hakları saklıdır. · 2026

ÖLÇME VE DEĞERLENDİRME

Karşılaştırma, sıralama ve yuvarlama bilgilerini birlikte kullanalım.

1 348 ile 384 arasına hangi sembol yazılır?

◯ < ◯ > ◯ =

2 573, 537, 735 sayılarının en küçüğü hangisidir?

◯ 573 ◯ 537 ◯ 735

3 214, 412, 241 küçükten büyüğe nasıl sıralanır?

◯ 214-241-412 ◯ 241-214-412 ◯ 412-241-214

4 676 sayısı en yakın onluğa kaç olur?

◯ 670 ◯ 680 ◯ 700

5 645 sayısı en yakın onluğa kaç olur?

◯ 640 ◯ 650 ◯ 600

6 594 sayısının en yakın yüzlüğü hangisidir?

◯ 500 ◯ 600 ◯ 590

7 349 sayısı en yakın yüzlüğe kaç olur?

◯ 300 ◯ 350 ◯ 400

8 Hangi sayı 720'ye yuvarlanır?

◯ 714 ◯ 718 ◯ 726

9 Hangi sayı 500'e yuvarlanmaz?

◯ 451 ◯ 549 ◯ 550

10 Yüzlüğü 800, onluğu 780 olan sayı hangisi olabilir?

◯ 776 ◯ 785 ◯ 805

11 En büyük sayı hangisidir?

◯ 909 ◯ 990 ◯ 999

12 438'in onluğa ve yüzlüğe yuvarlanmış hâli hangisidir?

◯ 440 ve 400 ◯ 430 ve 400 ◯ 440 ve 500

Sorumasyon · Tüm hakları saklıdır. · 2026