RİTMİ YAKALA!

Ritmik saymada her adımda aynı sayı kadar ilerler veya gerileriz.

KISA BİLGİ

2'şer sayarken her adımda 2, 5'er sayarken her adımda 5 ekleriz. Geriye sayarken aynı miktarı çıkarırız.

1 **Örüntülerin boş bırakılan sayılarını tamamlayın.**

2'şer	2	4	6		10		14		18	20
3'er	3	6		12		18	21		27	30
4'er	4		12	16		24		32	36	40
5'er	5	10		20	25		35		45	50

2 **Verilen sayma biçimine uygun sayıları boyayın.**

3'ün katları	12	14	18	21	25	27	31	33	36	40
4'ün katları	16	18	20	24	27	28	32	35	36	40

3 **Kısa soruları çözün.**

1 4'ten başlayıp 4'er sayarken 6. sayı kaçtır?

○ 20 ○ 24 ○ 28

2 5'er sayarken 35'ten sonra ne gelir?

○ 40 ○ 45 ○ 50

3 30'dan geriye 3'er sayınca 4. sayı kaçtır?

○ 18 ○ 21 ○ 24

4 2, 6, 10, 14 dizisinin kuralı nedir?

○ 2'şer ○ 3'er ○ 4'er

Sorumasyon · Tüm hakları saklıdır. · 2026

ALTIŞAR RİTMİK SAYMA

Her sıçrayışta 6 ilerleyelim; geri dönerken 6 çıkaralım.

1 İleri ve geri altışar saymaları tamamlayın.

0	6	12		24		36		48	54	60
18	24		36		48	54		66	72	78
60	54		42		30		18	12	6	0
96	90	84		72		60	54		42	36

2 Noktayı sayı doğrusundaki en yakın 6'nın katına bağlayın ve sonucu yazın.

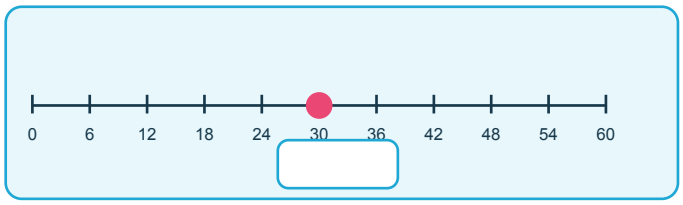

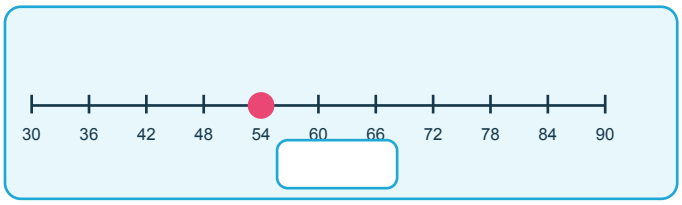

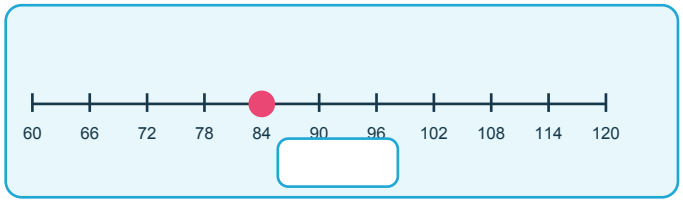

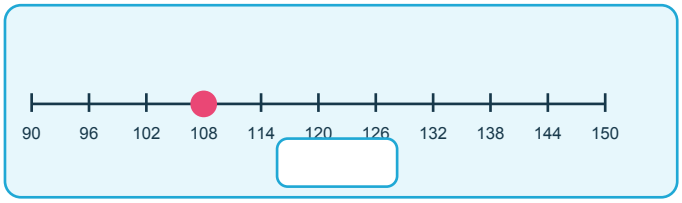

3 1'den 60'a kadar 6'nın katlarını yazın.

4 Altışar sayma sorularını işaretleyin.

1 12'den başlayıp 6'şar sayarken 5. sayı kaçtır?

○ 30 ○ 36 ○ 42

2 60'tan geriye 6'şar sayarken 4. sayı kaçtır?

○ 36 ○ 42 ○ 48

3 Hangi sayı 6'nın katı değildir?

○ 42 ○ 46 ○ 54

4 Altışar saymada 48'den sonra ne gelir?

○ 52 ○ 54 ○ 56

Sorumasyon · Tüm hakları saklıdır. · 2026

YEDİŞER RİTMİK SAYMA

Bir haftada 7 gün vardır; haftaları saymak yedişer saymaya yardım eder.

1 Hafta sayısına karşılık gelen gün sayısını tamamlayın.

Hafta	1	2	3	4	5	6	7	8	9	10
Gün										

2 Yedişer ileri ve geri saymaları tamamlayın.

0	7	14		28		42		56	63	70
21	28		42	49		63	70		84	91
98	91	84		70		56	49		35	28
77	70		56		42	35		21	14	7

3 Sıralamadaki hatalı sayıyı bulup doğrusunu yazın.

7 - 14 - 21 - 29 - 35 - 42 — Doğrusu: ____

28 - 35 - 42 - 49 - 55 - 63 — Doğrusu: ____

84 - 77 - 70 - 64 - 56 - 49 — Doğrusu: ____

4 Yedişer sayma sorularını çözün.

1. 14'ten başlayıp 7'şer sayarken 6. sayı kaçtır?
   ○ 42 ○ 49 ○ 56

2. 70'ten geriye 7'şer sayarken 5. sayı kaçtır?
   ○ 35 ○ 42 ○ 49

3. Hangi sayı 7'nin katıdır?
   ○ 45 ○ 49 ○ 54

4. 63'ten önce gelen 7'nin katı hangisidir?
   ○ 49 ○ 56 ○ 70

Sorumasyon · Tüm hakları saklıdır. · 2026

SEKİZER RİTMİK SAYMA

Sekizer sayarken sayıların üzerine 8 ekler, geriye sayarken 8 çıkarırız.

1 Sekizer ileri saymaları tamamlayın.

0	8	16		32		48		64	72	80
24	32		48		64	72		88	96	104
40	48	56		72		88		104	112	120

2 Sekizer geri saymaları tamamlayın.

80	72		56		40		24	16	8	0
104	96	88		72		56	48		32	24
120	112		96	88		72		56	48	40

3 Verilen sayının 8’er önce ve sonra gelen sayılarını yazın.

	32			48			64			72	

4 Sekizer sayma sorularını işaretleyin.

1 8’den başlayıp 8’er sayarken 7. sayı kaçtır?

○ 48 ○ 56 ○ 64

2 96’dan geriye 8’er sayarken 5. sayı kaçtır?

○ 56 ○ 64 ○ 72

3 Hangi sayı 8’in katı değildir?

○ 40 ○ 54 ○ 64

4 72’den sonra gelen 8’in katı hangisidir?

○ 78 ○ 80 ○ 88

Sorumasyon · Tüm hakları saklıdır. · 2026

DOKUZAR RİTMİK SAYMA

Dokuzar sayarken 9 ekleyelim; geriye dönerken 9 çıkaralım.

1 Yapraklardaki dokuzar saymayı tamamlayın.

0	9	18		36	45		63	72		90
27		45	54		72	81		99	108	

2 Geriye doğru dokuzar saymaları tamamlayın.

90	81		63		45		27	18	9	0
117	108		90	81		63		45	36	27
72	63	54		36		18	9	0		

3 Hatalı sayıyı bulun ve doğru sayıyı yazın.

9 - 18 - 27 - 36 - 46 - 54	Doğrusu:	
45 - 54 - 63 - 72 - 80 - 90	Doğrusu:	
99 - 90 - 81 - 71 - 63 - 54	Doğrusu:	

4 Dokuzar sayma sorularını çözün.

1 18'den başlayıp 9'ar sayarken 5. sayı kaçtır?

○ 45 ○ 54 ○ 63

2 90'dan geriye 9'ar sayarken 6. sayı kaçtır?

○ 36 ○ 45 ○ 54

3 Hangi sayı 9'un katıdır?

○ 56 ○ 63 ○ 65

4 72'den sonra hangi sayı gelir?

○ 79 ○ 81 ○ 90

Sorumasyon · Tüm hakları saklıdır. · 2026

ONAR VE YÜZER RİTMİK SAYMA

Sıfırları koruyup onlar ve yüzler basamağında ritmi izleyelim.

1 Onar ritmik saymalardaki boşlukları tamamlayın.

40	50	60		80	90	100		120	130
170	180		200	210		230	240		260
500	490		470		450	440		420	410

2 Yüzer ritmik saymalardaki boşlukları tamamlayın.

1000	1100		1300		1500	1600		1800
2200		2400	2500		2700		2900	3000
4500	4400		4200		4000	3900		3700

3 İleri mi, geri mi? Kuralı ve eksik sayıyı yazın.

230 - 240 - 250 - □ - 270

Kural: _____

900 - 800 - □ - 600 - 500

Kural: _____

470 - 460 - □ - 440 - 430

Kural: _____

1200 - 1300 - 1400 - □ - 1600

Kural: _____

4 Kısa soruları çözün.

1. 350'den sonra gelen onluk hangisidir?

○ 351 ○ 360 ○ 450

2. 1800'den önce gelen yüzlük hangisidir?

○ 1700 ○ 1790 ○ 1900

Sorumasyon · Tüm hakları saklıdır. · 2026

İLERİ–GERİ RİTMİK SAYMA

Başlangıç sayısını ve adım miktarını dikkatle izleyelim.

1 Ortadaki sayıdan başlayıp iki adım geri ve iki adım ileri yazın.

Adım: 6

□ □ **42** □ □

Adım: 7

□ □ **49** □ □

Adım: 8

□ □ **64** □ □

Adım: 9

□ □ **72** □ □

Adım: 10

□ □ **150** □ □

Adım: 100

□ □ **800** □ □

2 Verilen dizilerin kuralını yazıp eksik sayıları tamamlayın.

18 - 24 - □ - 36 - □ - 48 Kural: ____

70 - 63 - □ - 49 - □ - 35 Kural: ____

32 - 40 - □ - 56 - □ - 72 Kural: ____

99 - 90 - □ - 72 - □ - 54 Kural: ____

3 Hangi sonuç doğrudur? İşaretleyin.

1. 24’ten 8’er ileri 4 adım gidilirse kaç olur?

○ 48 ○ 56 ○ 64

2. 81’den 9’ar geri 5 adım gidilirse kaç olur?

○ 36 ○ 45 ○ 54

Sorumasyon · Tüm hakları saklıdır. · 2026

RİTMİK SAYMA DEĞERLENDİRMESİ

İleri ve geri ritmik sayma becerilerini birlikte kullanalım.

1 6, 12, 18, 24 dizisinde sıradaki sayı kaçtır?

○ 28 ○ 30 ○ 32

2 14'ten başlayıp 7'şer sayarken 5. sayı kaçtır?

○ 35 ○ 42 ○ 49

3 80'den geriye 8'er sayarken 4. sayı kaçtır?

○ 48 ○ 56 ○ 64

4 Hangi sayı 9'un katı değildir?

○ 45 ○ 54 ○ 56

5 42'den önce gelen 6'nın katı hangisidir?

○ 30 ○ 36 ○ 48

6 49'dan sonra gelen 7'nin katı hangisidir?

○ 54 ○ 56 ○ 63

7 8'er saymada 64'ten sonra ne gelir?

○ 70 ○ 72 ○ 80

8 90'dan geriye 9'ar sayarken 3. sayı kaçtır?

○ 63 ○ 72 ○ 81

9 230, 240, 250 dizisinin kuralı nedir?

○ 10'ar ileri ○ 10'ar geri ○ 100'er ileri

10 1500'den sonra gelen yüzlük hangisidir?

○ 1510 ○ 1600 ○ 2500

11 Hangi dizi doğru ilerlemektedir?

○ 18-24-30 ○ 21-29-35 ○ 32-40-46

12 72, 63, 54 dizisinde sıradaki sayı kaçtır?

○ 45 ○ 46 ○ 48

Sorumasyon · Tüm hakları saklıdır. · 2026