SAATİ OKUYALIM

Kısa kol akrep, uzun kol yelkovandır. Yelkovan bir turda 60 dakika ilerler.



Akrep saati, yelkovan dakikayı gösterir.

Yelkovan 12'deyse tam saat, 6'daysa buçuk, 3'teyse çeyrek geçe, 9'daysa çeyrek kala denir.

1 Saatlerin gösterdiği zamanı hem rakamla hem sözle yazın.



2 Cümleleri "akrep" veya "yelkovan" sözcüğüyle tamamlayın.

Saati gösteren kısa kol: _____

Dakikayı gösteren uzun kol: _____

Bir tam turda 60 dakika ilerler: _____

Bir tam turda 12 saat ilerler: _____

Tam saatte 12'yi gösterir: _____

Saat 06.30'da 6 ile 7 arasındadır: _____

Sorumasyon · Tüm hakları saklıdır. · 2026

ANALOG VE DİJİTAL SAATLER

Aynı zamanı gösteren analog ve dijital saatleri eşleştirelim.

1 Saatleri karşılarındaki dijital zamanlarla eşleştirin.

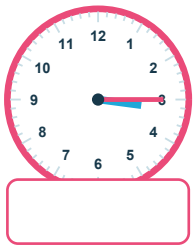









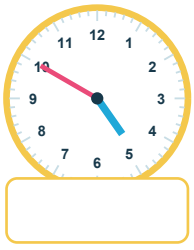

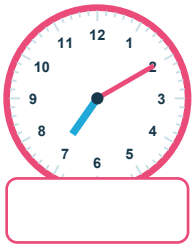



10.35	03.15	11.00	06.30	04.50	09.45	01.20	07.10

2 Dijital saatlere göre akrep ve yelkovanı çizin.

02.30	05.15	08.45	12.20
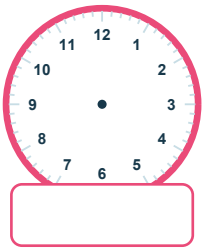	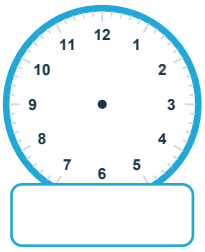	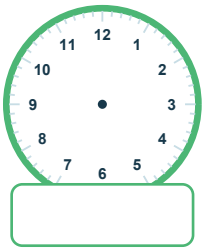	
03.55	07.25	09.10	11.40
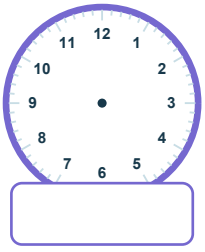		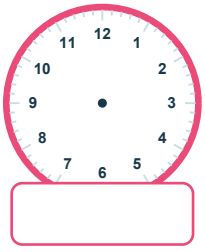	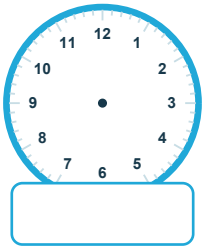

Sorumasyon · Tüm hakları saklıdır. · 2026

TAM, BUÇUK, ÇEYREK

Saati farklı biçimlerde söyleyip yazalım.

08.00 = Saat sekiz. 08.30 = Sekiz buçuk. 08.15 = Sekizi çeyrek geçiyor. 08.45 = Dokuza çeyrek var.

Dakika 30'u geçince bir sonraki saate kalan süreyi söyleyebiliriz.

1 Saatlerin gösterdiği zamanı sözle yazın.



2 Söylenişe uygun dijital saati yazın.

Beşi on geçiyor.	**Yedi buçuk.**
Dokuza çeyrek var.	**On biri çeyrek geçiyor.**
Üçe yirmi var.	**Altıyı beş geçiyor.**
Bire on var.	**On ikiyi yirmi beş geçiyor.**

Sorumasyon · Tüm hakları saklıdır. · 2026

ZAMAN BİRİMLERİ

Saniye, dakika, saat, gün, hafta, ay ve yıl arasındaki ilişkileri kullanalım.

1 dakika = 60 saniye	**1 saat = 60 dakika**	**1 gün = 24 saat**
1 hafta = 7 gün	**1 yıl = 12 ay**	**1 yıl = 52 hafta**

1 Boşlukları uygun sayılarla tamamlayın.

2 saat = ____ dakika

3 dakika = ____ saniye

4 gün = ____ saat

5 hafta = ____ gün

120 dakika = ____ saat

180 saniye = ____ dakika

48 saat = ____ gün

21 gün = ____ hafta

6 saat 20 dakika = ____ dakika

2 dakika 15 saniye = ____ saniye

3 hafta 4 gün = ____ gün

2 gün 6 saat = ____ saat

2 Uygun zaman birimini yazın: saniye, dakika, saat, gün, hafta, ay veya yıl.

Bir teneffüs yaklaşık 10 _____ sürer.

Göz kırpmak yaklaşık 1 _____ sürer.

Bir gün 24 _____ sürer.

Yaz tatili yaklaşık 3 _____ sürer.

Bir hafta 7 _____ sürer.

Dünya'nın Güneş çevresindeki turu 1 _____ sürer.

Bir ders yaklaşık 40 _____ sürer.

Şubat dışındaki kısa aylar 30 _____ sürer.

Sorumasyon · Tüm hakları saklıdır. · 2026

GEÇEN SÜREYİ BULALIM

Başlangıç ve bitiş zamanları arasındaki süreyi zaman çizgisinde gösterelim.

Başlangıçtan bitişe doğru ilerlerken önce tam saate, sonra bitiş saatine ulaşmak işlemi kolaylaştırır.



1 Başlangıç ve bitiş zamanları arasındaki süreyi bulun.



Geçen süre: _____



Geçen süre: _____



Geçen süre: _____



Geçen süre: _____



Geçen süre: _____



Geçen süre: _____

2 Eksik başlangıç veya bitiş zamanını bulun.

Başlangıç 09.20 - Süre 50 dk - Bitiş _____

Başlangıç 14.45 - Süre 1 sa 25 dk - Bitiş _____

Başlangıç _____ - Süre 35 dk - Bitiş 12.10

Başlangıç _____ - Süre 1 sa 15 dk - Bitiş 18.30

Başlangıç 20.10 - Süre 2 sa 5 dk - Bitiş _____

Başlangıç _____ - Süre 45 dk - Bitiş 08.00

Sorumasyon · Tüm hakları saklıdır. · 2026

TAKVİM VE GÜNLÜK PLAN

Gün, hafta, ay ve saat bilgilerini birlikte kullanalım.

1 Takvim bilgisini tamamlayın.

1 hafta = ____ gün

2 hafta = ____ gün

3 hafta 2 gün = ____ gün

1 yıl = ____ ay

2 yıl = ____ ay

1 yılda ____ mevsim vardır.

Nisan ayı ____ gündür.

Bir yılda ____ hafta vardır.

2 Ece'nin cumartesi planını inceleyip soruları yanıtlayın.

Etkinlik	Saat
Uyanma	08.00
Kahvaltı	08.30
Kütüphaneye varış	10.00
Kütüphaneden ayrılış	11.45
Öğle yemeği	12.30
Yüzme kursu	14.15
Kurstan ayrılış	15.30
Eve varış	16.00

1. Ece uyandıktan kaç dakika sonra kahvaltı yapmıştır?
2. Kütüphanede kaç saat kaç dakika kalmıştır?
3. Öğle yemeğinden yüzme kursuna kadar kaç dakika vardır?
4. Yüzme kursu kaç dakika sürmüştür?
5. Kurstan ayrıldıktan kaç dakika sonra eve varmıştır?
6. 08.00 ile 16.00 arasında kaç saat vardır?

Sorumasyon · Tüm hakları saklıdır. · 2026

ZAMAN ÖLÇME PROBLEMLERİ

Günlük yaşam problemlerini işlem veya zaman çizgisi kullanarak çözün.

1 Problemleri çözün ve yanıtlarınızı kutulara yazın.

1. Film 18.20'de başladı ve 1 saat 35 dakika sürdü. Saat kaçta bitti?

İşlem: _____ ☐

2. Ders 09.10'da bitti. Ders 40 dakika sürdüğüne göre kaçta başladı?

İşlem: _____ ☐

3. Otobüs 13.45'te kalkacak. Saat 12.55 ise kaç dakika vardır?

İşlem: _____ ☐

4. Ada her gün 25 dakika okuyor. 1 haftada kaç dakika okur?

İşlem: _____ ☐

5. Bir maç 19.30'da başladı, 20.55'te bitti. Kaç dakika sürdü?

İşlem: _____ ☐

6. Tren 45 dakika gecikerek 11.20'de kalktı. Normal kalkış saati kaçtır?

İşlem: _____ ☐

7. Mina 2 saat 15 dakika çalıştı. Bu süre toplam kaç dakikadır?

İşlem: _____ ☐

8. Bir gezi 08.30'da başlayıp 16.10'da bitti. Gezi kaç saat kaç dakika sürdü?

İşlem: _____ ☐

9. Saat 14.25'tir. 1 saat 50 dakika sonra saat kaç olur?

İşlem: _____ ☐

10. Saat 10.05'tir. 2 saat 20 dakika önce saat kaçtı?

İşlem: _____ ☐

11. Bir ay 30 gün kabul edilirse 3 ay kaç gündür?

İşlem: _____ ☐

12. 4 hafta 3 gün toplam kaç gündür?

İşlem: _____ ☐

Sorumasyon · Tüm hakları saklıdır. · 2026

ÖLÇME VE DEĞERLENDİRME

Her soruda doğru seçeneği işaretleyin.

1 Saat 3'ü çeyrek geçiyorsa dijital gösterim hangisidir?

○ 03.15 ○ 03.30 ○ 03.45

2 Saat 6 buçuk nasıl yazılır?

○ 06.15 ○ 06.30 ○ 06.45

3 1 saat kaç dakikadır?

○ 24 ○ 60 ○ 100

4 2 dakika kaç saniyedir?

○ 60 ○ 90 ○ 120

5 3 gün kaç saattir?

○ 48 ○ 72 ○ 90

6 4 hafta kaç gündür?

○ 21 ○ 28 ○ 30

7 120 dakika kaç saattir?

○ 1 ○ 2 ○ 3

8 180 saniye kaç dakikadır?

○ 2 ○ 3 ○ 4

9 09.20'den 10.05'e kadar kaç dakika geçer?

○ 35 ○ 45 ○ 55

10 14.30'dan 1 saat sonra saat kaç olur?

○ 15.00 ○ 15.30 ○ 16.30

11 Saat 12.10 ise 40 dakika önce saat kaçtır?

○ 11.20 ○ 11.30 ○ 11.40

12 1 yıl kaç aydır?

○ 10 ○ 12 ○ 52

13 2 hafta 3 gün kaç gündür?

○ 14 ○ 17 ○ 21

14 Bir ders için en uygun birim hangisidir?

○ Saniye ○ Dakika ○ Yıl

15 18.45 nasıl söylenir?

○ Yediye çeyrek var ○ Altı buçuk ○ Altıyı çeyrek geçiyor

16 08.15'te başlayan 35 dakikalık ders kaçta biter?

○ 08.40 ○ 08.50 ○ 09.00

Sorumasyon · Tüm hakları saklıdır. · 2026