Etkinlik 1 Çetele çizgilerini say. Sayıyı kutuya yaz.



Etkinlik 2 Sepetteki meyveleri say. Çetele tut ve sıklık tablosunu doldur.



Seçenek	Çetele	Sayı
Elma		
Muz		
Çilek		
Üzüm		

Etkinlik 3 Çeteleyi say. Kaç tane?



Sorumasyon · Tüm hakları saklıdır. · 2026

Etkinlik 4 Nesne grafiğine bak. Soruları cevapla.

En Sevdiğimiz Evcil Hayvanlar

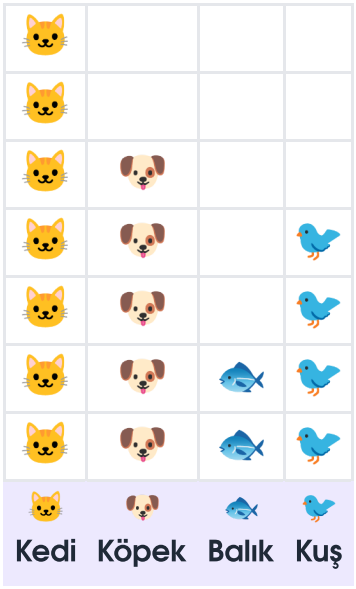

1. Kaç kişi kediyi seçmiş? ____
2. En çok hangi hayvan seçilmiş? ____
3. En az hangi hayvan seçilmiş? ____
4. Köpek mi kuş mu daha çok seçilmiş? ____
5. Kaç kişi kuşu seçmiş? ____

Etkinlik 5 Sıklık tablosuna bak. Soruları cevapla.

Okula nasıl geliyoruz?

Seçenek	Çetele	Sayı
Yürüyerek	𝍸 |||	8
Servisle	𝍸	5
Arabayla	||||	4

1. Kaç kişi servisle geliyor? ____
2. En çok nasıl geliyoruz? ____
3. Arabayla gelen mi, servisle gelen mi daha az? ____
4. Okul önüne daha çok yaya geçidi mi, otopark mı lazım? ____

Etkinlik 6 Sayı kadar çetele çiz.

4 _____	6 _____	8 _____
5 _____	9 _____	12 _____

Sorumasyon · Tüm hakları saklıdır. · 2026

Etkinlik 7 Sıklık tablosuna göre nesne grafiğini tamamla. Her kutuya bir resim çiz.

Ekimde hava nasıldı?

Seçenek	Çetele	Sayı
Güneşli	𝍸 ||||	9
Bulutlu	𝍸 |	6
Yağmurlu	||||	4
Karlı	|	1



Etkinlik 8 Hangisi bir araştırma sorusu olabilir? Yuvarlak içine al.

1. Sınıfımız hakkında hangisini veri toplayarak öğrenebiliriz?

A **Okul kaçta başlıyor?** B **En çok hangi rengi seviyoruz?** C **Bugün günlerden ne?**

2. "En sevdiğin mevsim hangisi?" sorusunun cevapları hangileri olabilir?

A **kış, yaz, ilkbahar, sonbahar** B **3, 5, 7** C **evet, hayır**

3. Verileri toplarken ne kullanırız?

A **çetele** B **cetvel** C **terazi**

Sorumasyon · Tüm hakları saklıdır. · 2026

Etkinlik 9 Renk grafiğini düşün: kırmızı 5, mavi 7, yeşil 3, sarı 5. Doğru ise D, yanlış ise Y.

D Y 1. En çok mavi seçilmiştir.

D Y 2. En az yeşil seçilmiştir.

D Y 3. Kırmızı ve sarı eşit seçilmiştir.

D Y 4. Yeşil, kırmızıdan daha çok seçilmiştir.

D Y 5. Nesne grafiğinde her resim bir kişiyi gösterir.

D Y 6. Başka bir sınıfta da sonuçlar kesinlikle aynı olur.

Etkinlik 10 Çeteleyi sayısıyla eşleştir.

𝍸	dört
𝍸	on
𝍸 II	beş
𝍸 𝍸	üç
𝍸	yedi

Etkinlik 11 Bir nesne grafiği çiz: sınıfındaki kalemlerin renkleri.

Sorumasyon · Tüm hakları saklıdır. · 2026

Etkinlik 12 Araştırmanın adımlarını sıraya koy. Kutulara 1'den 5'e kadar yaz.

☐ 📊 Nesne grafiği çizerim.

☐ ✏️ Arkadaşlarıma sorup çetele tutarım.

☐ 💡 Grafiği yorumlar, karar veririm.

☐ 📋 Sıklık tablosu yaparım.

☐ ❓ Araştırma sorusu sorarım.

Etkinlik 13 Kendi araştırmanı yap! 5 arkadaşına en sevdiği rengi sor. Çetele tut, sonra grafiği tamamla.

Seçenek	Çetele	Sayı
🔴 Kırmızı		☐
🔵 Mavi		☐
🟢 Yeşil		☐
🟡 Sarı		☐

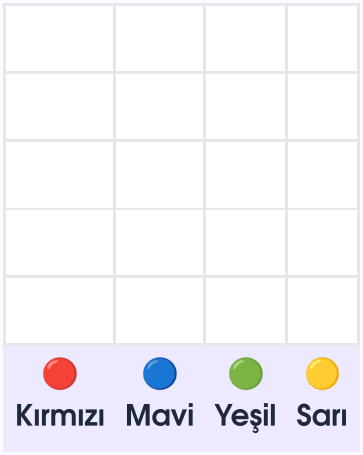

Etkinlik 14 Grafiğine bak. En çok hangi renk seçildi? Bu sonuca göre sınıf panosunu hangi renge boyardın?

Sorumasyon · Tüm hakları saklıdır. · 2026

Etkinlik 15 Bir nesne grafiği çiz: sınıfındaki kalemlerin renkleri.

Etkinlik 16 Kendimi değerlendiriyorum. Bir yüzü boya.

	Yaptım	Biraz	Çalışmalıyım
Araştırma sorusu sorabilirim.	😊	😐	😕
Veri toplamak için plan yapabilirim.	😊	😐	😕
Çetele tutabilirim.	😊	😐	😕
Sıklık tablosu yapabilirim.	😊	😐	😕
Nesne grafiği çizebilirim.	😊	😐	😕
Grafiği yorumlayıp karar verebilirim.	😊	😐	😕

Cevap Anahtarı 🔑

Etkinlik 1: 1. 2 · 2. 4 · 3. 5 · 4. 6 · 5. 8 · 6. 10 · 7. 12 · 8. 14 · 9. 9

Etkinlik 2: Elma 6 · Muz 4 · Çilek 8 · Üzüm 3

Etkinlik 3: 1. 3 · 2. 7 · 3. 11 · 4. 6 · 5. 13 · 6. 9 · 7. 15 · 8. 4 · 9. 8

Etkinlik 4: 1. 7 · 2. kedi · 3. balık · 4. köpek · 5. 4

Etkinlik 5: 1. 5 · 2. yürüyerek · 3. arabayla gelen · 4. yaya geçidi (en çok yürüyerek geliniyor)

Etkinlik 6: 1. 4 çizgi · 2. 1 beşli grup ve 1 çizgi · 3. 1 beşli grup ve 3 çizgi · 4. 1 beşli grup ve 0 çizgi · 5. 1 beşli grup ve 4 çizgi · 6. 2 beşli grup ve 2 çizgi

Etkinlik 7: Güneşli 9, bulutlu 6, yağmurlu 4, karlı 1 resim olmalı.

Etkinlik 8: 1. B (En çok hangi rengi seviyoruz?) · 2. A (kış, yaz, ilkbahar, sonbahar) · 3. A (çetele)

Etkinlik 9: 1. D · 2. D · 3. D · 4. Y · 5. D · 6. Y

Etkinlik 10: 3 çizgi → 3 · 5 çizgi → 5 · 7 çizgi → 7 · 10 çizgi → 10 · 4 çizgi → 4

Etkinlik 12: Nesne grafiği çizerim. (4) · Arkadaşlarıma sorup çetele tutarım. (2) · Grafiği yorumlar, karar veririm. (5) · Sıklık tablosu yaparım. (3) · Araştırma sorusu sorarım. (1)

Çizim ve yazma etkinliklerinin tek bir doğru cevabı yoktur; çocuğunuzla birlikte konuşarak değerlendirin.

Sorumasyon · Tüm hakları saklıdır. · 2026