Etkinlik 1 Alt alta topla. Eldeyi unutma!

1 □
$$\begin{array}{r} 36 \\ +\ 28 \\ \hline \square\square \end{array}$$

2 □
$$\begin{array}{r} 47 \\ +\ 35 \\ \hline \square\square \end{array}$$

3 □
$$\begin{array}{r} 19 \\ +\ 64 \\ \hline \square\square \end{array}$$

4 □
$$\begin{array}{r} 58 \\ +\ 27 \\ \hline \square\square \end{array}$$

5 □
$$\begin{array}{r} 25 \\ +\ 66 \\ \hline \square\square \end{array}$$

6 □
$$\begin{array}{r} 73 \\ +\ 18 \\ \hline \square\square \end{array}$$

7 □
$$\begin{array}{r} 44 \\ +\ 39 \\ \hline \square\square \end{array}$$

8 □□
$$\begin{array}{r} 68 \\ +\ 32 \\ \hline \square\square\square \end{array}$$

Etkinlik 2 Alt alta çıkar. Gerekirse onluk boz!

1
$$\begin{array}{r} 52 \\ -\ 27 \\ \hline \square\square \end{array}$$

2
$$\begin{array}{r} 81 \\ -\ 46 \\ \hline \square\square \end{array}$$

3
$$\begin{array}{r} 64 \\ -\ 38 \\ \hline \square\square \end{array}$$

4
$$\begin{array}{r} 90 \\ -\ 54 \\ \hline \square\square \end{array}$$

5
$$\begin{array}{r} 73 \\ -\ 29 \\ \hline \square\square \end{array}$$

6
$$\begin{array}{r} 45 \\ -\ 17 \\ \hline \square\square \end{array}$$

7
$$\begin{array}{r} 100 \\ -\ 35 \\ \hline \square\square\square \end{array}$$

8
$$\begin{array}{r} 66 \\ -\ 42 \\ \hline \square\square \end{array}$$

Etkinlik 3 Zihinden hesapla.

1 30 + 40 = □

2 50 + 25 = □

3 64 + 10 = □

4 38 + 20 = □

5 90 − 30 = □

6 75 − 20 = □

7 58 − 10 = □

8 46 − 6 = □

Sorumasyon · Tüm hakları saklıdır. · 2026

Etkinlik 4 Önce tahmin et. Sonuca en yakın tahmini yuvarlak içine al.

1. 39 + 21 işleminin sonucu yaklaşık kaçtır?

A 40 B 60 C 80

2. 68 – 29 işleminin sonucu yaklaşık kaçtır?

A 40 B 60 C 90

3. 52 + 19 işleminin sonucu yaklaşık kaçtır?

A 50 B 70 C 90

4. 81 – 38 işleminin sonucu yaklaşık kaçtır?

A 40 B 50 C 20

Etkinlik 5 Eksik sayıyı bul ve kutuya yaz.

1 $24 + \square = 60$

2 $\square + 35 = 80$

3 $70 - \square = 45$

4 $\square - 18 = 40$

5 $45 + 25 = \square + 30$

6 $90 - 20 = 35 + \square$

Etkinlik 6 Çarp ya da böl.

$3 \times 7 = \square$ $4 \times 6 = \square$ $5 \times 9 = \square$ $2 \times 8 = \square$

$14 \div 2 = \square$ $18 \div 3 = \square$ $20 \div 4 = \square$ $15 \div 5 = \square$

Sorumasyon · Tüm hakları saklıdır. · 2026

Etkinlik 7 Üç sayıyla dört işlem yaz. Boşlukları doldur.

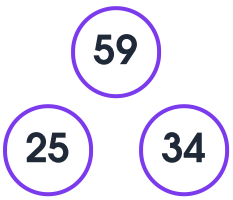

25 + 34 = ☐
34 + 25 = ☐
59 − 25 = ☐
59 − 34 = ☐

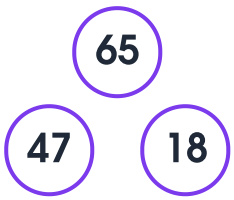

47 + 18 = ☐
18 + 47 = ☐
65 − 47 = ☐
65 − 18 = ☐

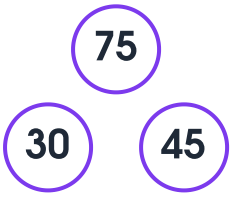

30 + 45 = ☐
45 + 30 = ☐
75 − 30 = ☐
75 − 45 = ☐

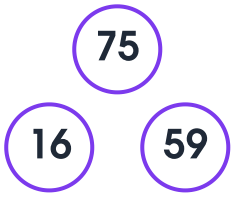

16 + 59 = ☐
59 + 16 = ☐
75 − 16 = ☐
75 − 59 = ☐

Etkinlik 8 Eksik sayıyı bul.

☐ × 4 = 20	3 × ☐ = 27	☐ ÷ 2 = 7
40 − ☐ = 25	☐ + 26 = 70	5 × ☐ = 30
☐ × 3 = 12	60 − ☐ = 35	☐ ÷ 5 = 3

Etkinlik 9 Ritmik say.

3 › 6 › ☐ › 12

4 › 8 › ☐ › 16

5 › 10 › ☐ › 20

2 › 4 › ☐ › 8

Sorumasyon · Tüm hakları saklıdır. · 2026

Etkinlik 10 Kaç grup var? Her grupta kaç tane var? Çarpma işlemini yaz.



□ × □ = □



□ × □ = □



□ × □ = □



□ × □ = □



□ × □ = □



□ × □ = □

Etkinlik 11 Satırları ve sütunları say. Çarpma işlemini yaz.



□ × □ = □



□ × □ = □



□ × □ = □



□ × □ = □



□ × □ = □



□ × □ = □

Sorumasyon · Tüm hakları saklıdır. · 2026

Etkinlik 12 Ritmik say. Boşlukları doldur.

1. İkişer	2	→	4	→	___	→	8	→	___	→	12	→	___	→	16
2. Üçer	3	→	6	→	___	→	12	→	___	→	18	→	___	→	24
3. Dörder	4	→	8	→	___	→	16	→	___	→	24	→	___	→	32
4. Beşer	5	→	10	→	___	→	20	→	___	→	30	→	___	→	40

Etkinlik 13 Çarpma işlemlerini yap.

1	2 × 7 = ☐	2	3 × 6 = ☐	3	4 × 4 = ☐	4	5 × 8 = ☐
5	3 × 9 = ☐	6	4 × 7 = ☐	7	5 × 6 = ☐	8	2 × 9 = ☐
9	6 × 1 = ☐	10	8 × 0 = ☐	11	4 × 10 = ☐	12	5 × 5 = ☐

Etkinlik 14 Eşitliği tamamla.

3 × 4 = 6 + ☐	2 × 5 = 15 − ☐	12 ÷ 3 = 2 × ☐
4 × 5 = 10 + ☐	20 ÷ 2 = 5 + ☐	5 × 3 = 20 − ☐

Etkinlik 15 İşaret koy: +, −, × ya da ÷

9 ◯ 3 = 12	18 ◯ 9 = 9	4 ◯ 5 = 20	15 ◯ 3 = 5

Sorumasyon · Tüm hakları saklıdır. · 2026

Etkinlik 16 Çarpım tablosundaki boşlukları doldur.

2 ile çarpma			3 ile çarpma			4 ile çarpma			5 ile çarpma		
2 × 1	=	**2**	3 × 1	=	**3**	4 × 1	=	**4**	5 × 1	=	**5**
2 × 2	=	**4**	3 × 2	=	**6**	4 × 2	=		5 × 2	=	**10**
2 × 3	=		3 × 3	=		4 × 3	=	**12**	5 × 3	=	**15**
2 × 4	=	**8**	3 × 4	=	**12**	4 × 4	=	**16**	5 × 4	=	
2 × 5	=	**10**	3 × 5	=		4 × 5	=		5 × 5	=	**25**
2 × 6	=		3 × 6	=	**18**	4 × 6	=	**24**	5 × 6	=	**30**
2 × 7	=	**14**	3 × 7	=	**21**	4 × 7	=	**28**	5 × 7	=	
2 × 8	=		3 × 8	=		4 × 8	=	**32**	5 × 8	=	**40**
2 × 9	=	**18**	3 × 9	=	**27**	4 × 9	=		5 × 9	=	
2 × 10	=	**20**	3 × 10	=	**30**	4 × 10	=	**40**	5 × 10	=	**50**

Etkinlik 17 Eşit olarak paylaştır. Her biri kaç tane alır?



12 ÷ 3 = ☐



10 ÷ 2 = ☐



15 ÷ 5 = ☐



8 ÷ 4 = ☐



18 ÷ 3 = ☐



20 ÷ 4 = ☐

Sorumasyon · Tüm hakları saklıdır. · 2026

Etkinlik 18 Bölme işlemlerini yap.

1 $10 \div 2 =$ ☐
2 $12 \div 3 =$ ☐
3 $16 \div 4 =$ ☐
4 $20 \div 5 =$ ☐
5 $18 \div 2 =$ ☐
6 $15 \div 3 =$ ☐
7 $12 \div 4 =$ ☐
8 $10 \div 5 =$ ☐

Etkinlik 19 Çarpma ve bölme ailesini tamamla.

15 — 3, 5

$3 \times 5 =$ ☐
$5 \times 3 =$ ☐
$15 \div 3 =$ ☐
$15 \div 5 =$ ☐

16 — 4, 4

$4 \times 4 =$ ☐
$4 \times 4 =$ ☐
$16 \div 4 =$ ☐
$16 \div 4 =$ ☐

12 — 2, 6

$2 \times 6 =$ ☐
$6 \times 2 =$ ☐
$12 \div 2 =$ ☐
$12 \div 6 =$ ☐

20 — 5, 4

$5 \times 4 =$ ☐
$4 \times 5 =$ ☐
$20 \div 5 =$ ☐
$20 \div 4 =$ ☐

Etkinlik 20 Yuvarlağın içine +, −, × ya da ÷ yaz.

1 $6 \bigcirc 3 = 18$
2 $6 \bigcirc 3 = 2$
3 $6 \bigcirc 3 = 9$
4 $6 \bigcirc 3 = 3$
5 $20 \bigcirc 5 = 4$
6 $4 \bigcirc 5 = 20$
7 $15 \bigcirc 5 = 10$
8 $12 \bigcirc 4 = 3$
9 $8 \bigcirc 2 = 16$

Sorumasyon · Tüm hakları saklıdır. · 2026

Etkinlik 21 Terazileri dengede tut. Eksik sayıyı yaz.



3 × 4 = ☐



2 × 6 = 3 × ☐

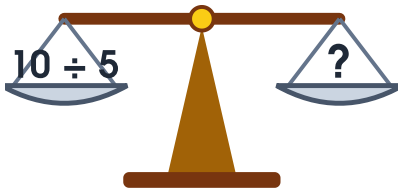

10 ÷ 5 = ☐



4 × 2 = ☐ + 0

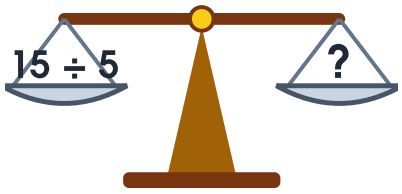

15 ÷ 5 = ☐

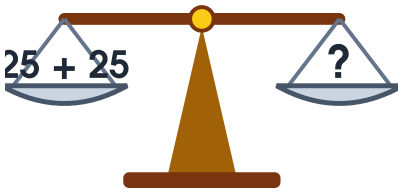

25 + 25 = ☐

Etkinlik 22 Eşitlik doğru mu? Doğru ise D, yanlış ise Y kutusunu işaretle.

D Y 1. 3 × 5 = 5 × 3

D Y 2. 12 ÷ 2 = 4 + 2

D Y 3. 4 × 4 = 20 – 4

D Y 4. 2 × 8 = 18

D Y 5. 20 ÷ 4 = 5

D Y 6. 7 × 0 = 7

D Y 7. 9 × 1 = 9

D Y 8. 45 + 25 = 60 + 10

Sorumasyon · Tüm hakları saklıdır. · 2026

Etkinlik 23 Oku. İşlemi yaz ve sonucu bul.



1. Ayşe 35 liralık defter ve 28 liralık kalem aldı. Kaç lira ödedi?

□ ○ □ = □



2. Otobüste 52 kişi vardı. Durakta 19 kişi indi. Kaç kişi kaldı?

□ ○ □ = □



3. Annem 1 düzine yumurta aldı, 12 yumurta daha aldı. Kaç yumurta aldı?

□ ○ □ = □



4. 1 deste kalemi 5 arkadaş eşit paylaştı. Her biri kaç kalem aldı?

□ ○ □ = □



5. Kurdelenin 45 cm'sini kestik, 38 cm kaldı. Kurdele kaç cm idi?

□ ○ □ = □



6. Can 25 dakika kitap okudu, 30 dakika resim yaptı. Toplam kaç dakika?

□ ○ □ = □

Etkinlik 24 İki işlemli problemleri çöz. Sonucu kutuya yaz.

1. Ali'nin 50 lirası vardı. 15 liralık top ve 20 liralık kitap aldı. Kaç lirası kaldı? □

2. Sepette 2 düzine portakal vardı. 9 tanesi satıldı. Kaç portakal kaldı? (1 düzine = 12) □

3. 4 kutuda 5'er kalem var. 6 kalem daha aldık. Kaç kalem oldu? □

Etkinlik 25 Alt alta çıkar.

6 3	7 1	8 4	5 0
− 2 8	− 3 5	− 4 7	− 2 6
□□	□□	□□	□□

Sorumasyon · Tüm hakları saklıdır. · 2026

Etkinlik 26 Çarp ya da böl.

5 × 4 = ☐ 3 × 8 = ☐ 16 ÷ 2 = ☐ 12 ÷ 3 = ☐

Etkinlik 27 Eksik sayıyı bul.

4 × ☐ = 36 ☐ + 45 = 90 2 × ☐ = 14

Etkinlik 28 Ritmik say.

12, 15, ☐, 21 20, 24, ☐, 32

25, 30, ☐, 40 14, 16, ☐, 20

Etkinlik 29 Kendimi değerlendiriyorum. Bir yüzü boya.

	Yaptım	Biraz	Çalışmalıyım
Eldeli toplama yaparım.	😊	😐	😕
Onluk bozarak çıkarma yaparım.	😊	😐	😕
Sonucu tahmin eder, zihinden hesaplarım.	😊	😐	😕
Toplama ile çıkarmanın ilişkisini açıklarım.	😊	😐	😕
Çarpmayı tekrarlı toplama olarak yazarım.	😊	😐	😕
5'e kadar çarpım tablosunu bilirim.	😊	😐	😕
Eşit paylaştırarak bölme yaparım.	😊	😐	😕
Eşittir işaretinin anlamını açıklarım.	😊	😐	😕
İki işlemli problemleri çözerim.	😊	😐	😕

Sorumasyon · Tüm hakları saklıdır. · 2026

Etkinlik 30 İşaret koy: +, −, × ya da ÷

7 ◯ 2 = 14	16 ◯ 4 = 4	30 ◯ 15 = 45	50 ◯ 25 = 25

Cevap Anahtarı 🔑

Etkinlik 1: 1. 64 · 2. 82 · 3. 83 · 4. 85 · 5. 91 · 6. 91 · 7. 83 · 8. 100

Etkinlik 2: 1. 25 · 2. 35 · 3. 26 · 4. 36 · 5. 44 · 6. 28 · 7. 65 · 8. 24

Etkinlik 3: 1. 70 · 2. 75 · 3. 74 · 4. 58 · 5. 60 · 6. 55 · 7. 48 · 8. 40

Etkinlik 4: 1. B (60) · 2. A (40) · 3. B (70) · 4. A (40)

Etkinlik 5: 1. 36 · 2. 45 · 3. 25 · 4. 58 · 5. 40 · 6. 35

Etkinlik 6: 1. 21 · 2. 24 · 3. 45 · 4. 16 · 5. 7 · 6. 6 · 7. 5 · 8. 3

Etkinlik 7: 1. 59, 59, 34, 25 · 2. 65, 65, 18, 47 · 3. 75, 75, 45, 30 · 4. 75, 75, 59, 16

Etkinlik 8: 1. 5 · 2. 9 · 3. 14 · 4. 15 · 5. 44 · 6. 6 · 7. 4 · 8. 25 · 9. 15

Etkinlik 9: 1. 9 · 2. 12 · 3. 15 · 4. 6

Etkinlik 10: 1. 3 × 4 = 12 · 2. 2 × 5 = 10 · 3. 4 × 2 = 8 · 4. 5 × 3 = 15 · 5. 2 × 4 = 8 · 6. 3 × 5 = 15

Etkinlik 11: 1. 2 × 4 = 8 · 2. 3 × 5 = 15 · 3. 4 × 3 = 12 · 4. 5 × 2 = 10 · 5. 2 × 3 = 6 · 6. 4 × 4 = 16

Etkinlik 12: 1. 6, 10, 14 · 2. 9, 15, 21 · 3. 12, 20, 28 · 4. 15, 25, 35

Etkinlik 13: 1. 14 · 2. 18 · 3. 16 · 4. 40 · 5. 27 · 6. 28 · 7. 30 · 8. 18 · 9. 6 · 10. 0 · 11. 40 · 12. 25

Etkinlik 14: 1. 6 · 2. 5 · 3. 2 · 4. 10 · 5. 5 · 6. 5

Etkinlik 15: 1. + · 2. − · 3. × · 4. ÷

Etkinlik 16: 2'ler: 6, 12, 16 · 3'ler: 9, 15, 24 · 4'ler: 8, 20, 36 · 5'ler: 20, 35, 45

Etkinlik 17: 1. 12 ÷ 3 = 4 · 2. 10 ÷ 2 = 5 · 3. 15 ÷ 5 = 3 · 4. 8 ÷ 4 = 2 · 5. 18 ÷ 3 = 6 · 6. 20 ÷ 4 = 5

Etkinlik 18: 1. 5 · 2. 4 · 3. 4 · 4. 4 · 5. 9 · 6. 5 · 7. 3 · 8. 2

Etkinlik 19: 1. 15, 15, 5, 3 · 2. 16, 16, 4, 4 · 3. 12, 12, 6, 2 · 4. 20, 20, 4, 5

Etkinlik 20: 1. × · 2. ÷ · 3. + · 4. − · 5. ÷ · 6. × · 7. − · 8. ÷ · 9. ×

Etkinlik 21: 1. 12 · 2. 4 · 3. 2 · 4. 8 · 5. 3 · 6. 50

Etkinlik 22: 1. D · 2. D · 3. D · 4. Y · 5. D · 6. Y · 7. D · 8. D

Etkinlik 23: 1. 35 + 28 = 63 · 2. 52 − 19 = 33 · 3. 12 + 12 = 24 · 4. 10 ÷ 5 = 2 · 5. 45 + 38 = 83 · 6. 25 + 30 = 55

Etkinlik 24: 1. 50 − 15 − 20 = 15 lira · 2. 12 + 12 = 24, 24 − 9 = 15 · 3. 4 × 5 + 6 = 26

Etkinlik 25: 1. 35 · 2. 36 · 3. 37 · 4. 24

Etkinlik 26: 1. 20 · 2. 24 · 3. 8 · 4. 4

Etkinlik 27: 1. 9 · 2. 45 · 3. 7

Etkinlik 28: 1. 18 · 2. 28 · 3. 35 · 4. 18

Etkinlik 30: 1. × · 2. ÷ · 3. + · 4. −

Çizim ve yazma etkinliklerinin tek bir doğru cevabı yoktur; çocuğunuzla birlikte konuşarak değerlendirin.

Sorumasyon · Tüm hakları saklıdır. · 2026