Etkinlik 1 Boyalı kısmı gösteren kesri yaz. Kesrin çeşidini daire içine al.

1



basit bileşik tam sayılı

2

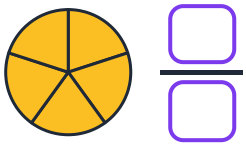

basit bileşik tam sayılı

3

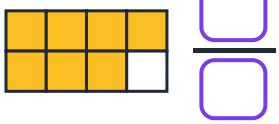

basit bileşik tam sayılı

4

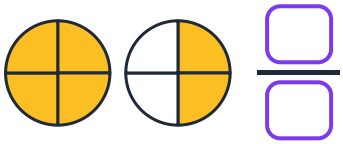

basit bileşik tam sayılı

5

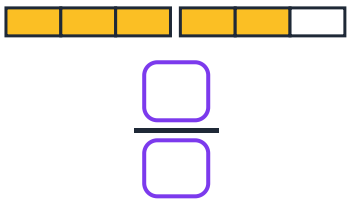

basit bileşik tam sayılı

6

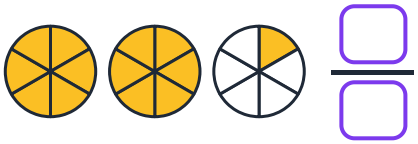

basit bileşik tam sayılı

Etkinlik 2 Kesirleri okunuşlarıyla eşleştir.

3/7	dörtte dokuz
9/4	iki tam beşte bir
2 1/5	on ikide beş
5/12	yedide üç
8/8	sekizde sekiz
1 3/10	bir tam onda üç

Sorumasyon · Tüm hakları saklıdır. · 2026

Etkinlik 3 Tabloyu doldur: kesrin çeşidini ve okunuşunu yaz.

	Çeşidi	Okunuşu
$\frac{4}{9}$	_____	_____
$\frac{11}{6}$	_____	_____
$3\frac{2}{7}$	_____	_____
$\frac{10}{10}$	_____	_____
$\frac{1}{12}$	_____	_____

Etkinlik 4 Sayı doğrusunda ▲ ile gösterilen kesri yaz.

1

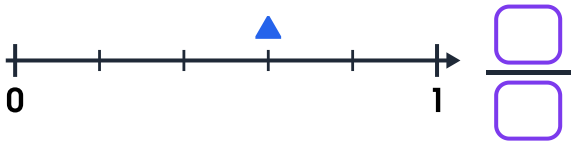

2



3

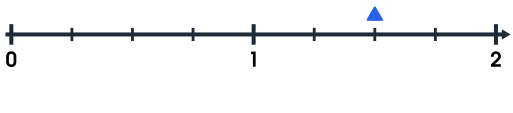

4



5



6



Sorumasyon · Tüm hakları saklıdır. · 2026

Etkinlik 5 Kesri modelin üzerinde boya.

1 $\frac{2}{3}$ 

2 $\frac{5}{8}$ 

3 $\frac{7}{10}$ 

4 $\frac{3}{6}$ 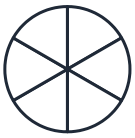

Etkinlik 6 Kesri modelin üzerinde boya.

1 $\frac{5}{4}$ 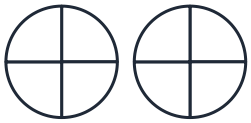

2 $1\frac{1}{2}$ 

3 $2\frac{3}{4}$ 

Etkinlik 7 Doğru ise D, yanlış ise Y kutusunu işaretle.

D Y 1. Payı paydasından küçük olan kesir basit kesirdir.

D Y 2. 7/7 kesri bir bütüne eşittir.

D Y 3. 12/5 bir basit kesirdir.

D Y 4. 1 3/4 kesri sayı doğrusunda 1 ile 2 arasındadır.

D Y 5. Tam sayılı kesrin kesir kısmı bileşik kesirdir.

D Y 6. 5/9 kesri "beşte dokuz" diye okunur.

D Y 7. Bileşik kesirler bir bütün ya da bütünden fazlasını gösterir.

Etkinlik 8 Boyalı kısmı gösteren kesri yaz.

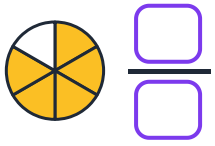

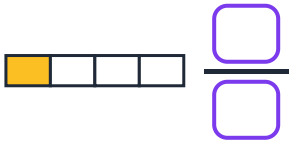

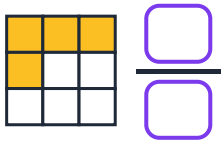

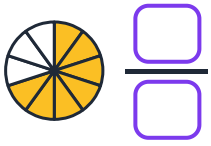

Sorumasyon · Tüm hakları saklıdır. · 2026

Etkinlik 9 Birim kesirleri küçükten büyüğe sırala. “<” kullan.

1

$\frac{1}{5}$ $\frac{1}{2}$ $\frac{1}{9}$ $\frac{1}{4}$

2

$\frac{1}{7}$ $\frac{1}{3}$ $\frac{1}{12}$ $\frac{1}{6}$

3

$\frac{1}{10}$ $\frac{1}{8}$ $\frac{1}{11}$ $\frac{1}{2}$

4

$\frac{1}{6}$ $\frac{1}{20}$ $\frac{1}{3}$ $\frac{1}{15}$

Etkinlik 10 Boyalı kısımların birim kesirlerini yaz. Sonra büyükten küçüğe sırala.

1 2 3 4

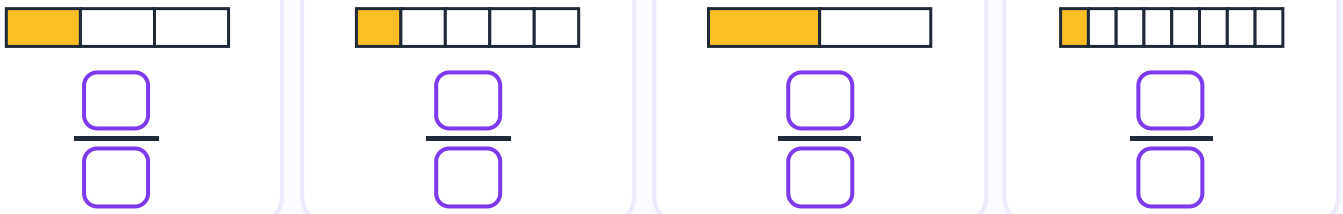

Etkinlik 11 Yukarıdaki birim kesirleri büyükten küçüğe sırala.

Etkinlik 12 Karşılaştır: <, > ya da = yaz.

$\frac{1}{6} \bigcirc \frac{1}{9}$ $\frac{5}{11} \bigcirc \frac{8}{11}$ $\frac{1}{2} \bigcirc \frac{1}{20}$ $\frac{7}{4} \bigcirc \frac{3}{4}$

$\frac{1}{15} \bigcirc \frac{1}{5}$ $\frac{10}{10} \bigcirc \frac{4}{4}$ $\frac{2}{7} \bigcirc \frac{5}{7}$ $\frac{1}{8} \bigcirc \frac{1}{12}$

Sorumasyon · Tüm hakları saklıdır. · 2026

Etkinlik 13 Doğru cevabı daire içine al.

1. Aynı büyüklükteki üç pastadan muzlu olan 6, çilekli olan 10 eş dilime ayrıldı. Çikolatalı pastanın dilimi muzlu dilimden küçük, çilekli dilimden büyük olacak. Çikolatalı pasta kaç eş dilime ayrılabilir?

A 5 B 8 C 12

2. Hangisi en büyük birim kesirdir?

A 1/9 B 1/4 C 1/6

3. Hangisi en küçük birim kesirdir?

A 1/3 B 1/30 C 1/13

4. Bir bütün ne kadar çok eş parçaya ayrılırsa parçalar...

A büyür B küçülür C değişmez

Etkinlik 14 Nesneleri gruplara ayırarak bul. Kutuya yaz.

1



18 yumurtanın $\frac{1}{3}$'i ☐ yumurta

2



21 cevizin $\frac{1}{7}$'i ☐ ceviz

3



20 topun $\frac{2}{5}$'si ☐ top

4

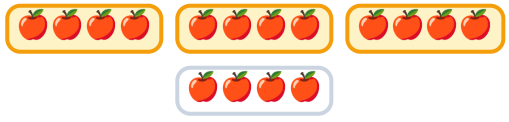

16 elmanın $\frac{3}{4}$'ü ☐ elma

Sorumasyon · Tüm hakları saklıdır. · 2026

Etkinlik 15 Önce paydaya böl, sonra payla çarp.

1
36'nın $\frac{2}{3}$'si
36 ÷ 3 = ☐
2 × ☐ = ☐

2
40'ın $\frac{3}{5}$'ü
40 ÷ 5 = ☐
3 × ☐ = ☐

3
56'nın $\frac{5}{7}$'i
56 ÷ 7 = ☐
5 × ☐ = ☐

4
90'ın $\frac{4}{9}$'ü
90 ÷ 9 = ☐
4 × ☐ = ☐

5
84'ün $\frac{3}{4}$'ü
84 ÷ 4 = ☐
3 × ☐ = ☐

6
120'nin $\frac{5}{6}$'i
120 ÷ 6 = ☐
5 × ☐ = ☐

Etkinlik 16 Problemleri çöz. Sonucu kutuya yaz.

1. 84 sayfalık bir kitabın 3/4'ünü okuyan Cihan kaç sayfa okumuştur? ☐

2. 375 araçlık otoparkın 2/3'si dolu. Otoparkta kaç araç var? ☐

3. Bir markette bulunan 25 topun 1/5'i satıldı. Geriye kaç top kaldı? ☐

4. Tarık 960 TL biriktirdi. Paranın 1/4'ini kardeşine verdi. Kardeşine kaç TL verdi? ☐

5. 40 ağacın 1/5'ini Elif, 3/10'ünü Orhan suladı. Orhan, Elif'ten kaç ağaç fazla suladı? ☐

Etkinlik 17 Belirtilen kesir kadarını bul.

30'un $\frac{1}{5}$'i = ☐

28'in $\frac{3}{4}$'ü = ☐

45'in $\frac{2}{9}$'si = ☐

Sorumasyon · Tüm hakları saklıdır. · 2026

Etkinlik 18 Karşılaştır. Yuvarlağın içine <, > ya da = yaz.

1 $\frac{4}{7}$ ◯ $\frac{6}{7}$

2 $\frac{9}{10}$ ◯ $\frac{3}{10}$

3 $\frac{5}{12}$ ◯ $\frac{5}{12}$

4 $\frac{8}{5}$ ◯ $\frac{2}{5}$

5 $\frac{1}{4}$ ◯ $\frac{3}{4}$

6 $\frac{11}{8}$ ◯ $\frac{7}{8}$

7 $\frac{6}{6}$ ◯ $\frac{1}{2}$

8 $\frac{2}{9}$ ◯ $\frac{8}{9}$

Etkinlik 19 Kesirleri büyükten küçüğe sırala. “>” kullan.

1 $\frac{4}{11}$ $\frac{9}{11}$ $\frac{2}{11}$ $\frac{7}{11}$ ____

2 $\frac{5}{6}$ $\frac{1}{6}$ $\frac{8}{6}$ $\frac{3}{6}$ ____

3 $\frac{10}{15}$ $\frac{14}{15}$ $\frac{6}{15}$ $\frac{12}{15}$ ____

4 $\frac{3}{4}$ $\frac{5}{4}$ $\frac{1}{4}$ $\frac{4}{4}$ ____

Etkinlik 20 Kesir sıfıra mı, yarıma mı, bütüne mi daha yakın? Daire içine al.

1 

$\frac{1}{10}$ sıfır yarım bütün

2 

$\frac{9}{10}$ sıfır yarım bütün

3 

$\frac{5}{10}$ sıfır yarım bütün

4 

$\frac{2}{10}$ sıfır yarım bütün

5 

$\frac{6}{10}$ sıfır yarım bütün

6 

$\frac{8}{10}$ sıfır yarım bütün

Sorumasyon · Tüm hakları saklıdır. · 2026

Etkinlik 21 Doğru cevabı daire içine al.

1. Azra kitabın 5/9'ini, Berke 2/9'sini, Hakan 7/9'sini okudu. En çok kim okudu?

A **Azra** B **Berke** C **Hakan**

2. Zeynep günün 6/24'sını okulda, 3/24'ünü oyunda geçirdi. Hangisine daha çok zaman ayırdı?

A **okul** B **oyun** C **eşit**

3. ■/8 kesri yarımdan büyük, bütünden küçük bir basit kesir. ■ yerine hangisi yazılabilir?

A **3** B **6** C **9**

4. Hangisi bütünden büyüktür?

A **7/9** B **9/9** C **11/9**

Etkinlik 22 Modeldeki işlemi yap.

1



$\frac{2}{6} + \frac{3}{6} = \frac{\square}{\square}$

2



$\frac{3}{8} + \frac{4}{8} = \frac{\square}{\square}$

3



$\frac{4}{5} - \frac{1}{5} = \frac{\square}{\square}$

4



$\frac{9}{10} - \frac{6}{10} = \frac{\square}{\square}$

Sorumasyon · Tüm hakları saklıdır. · 2026

Etkinlik 23 Toplama ve çıkarma işlemlerini yap.

1 $\frac{1}{7} + \frac{4}{7} = \frac{\square}{\square}$

2 $\frac{3}{9} + \frac{5}{9} = \frac{\square}{\square}$

3 $\frac{2}{12} + \frac{7}{12} = \frac{\square}{\square}$

4 $\frac{4}{10} + \frac{4}{10} = \frac{\square}{\square}$

5 $\frac{6}{8} - \frac{1}{8} = \frac{\square}{\square}$

6 $\frac{11}{12} - \frac{5}{12} = \frac{\square}{\square}$

7 $\frac{7}{9} - \frac{7}{9} = \frac{\square}{\square}$

8 $\frac{5}{6} - \frac{2}{6} = \frac{\square}{\square}$

9 $\frac{4}{5} + \frac{3}{5} = \frac{\square}{\square}$

10 $\frac{9}{4} - \frac{2}{4} = \frac{\square}{\square}$

11 $\frac{3}{11} + \frac{8}{11} = \frac{\square}{\square}$

12 $\frac{13}{7} - \frac{6}{7} = \frac{\square}{\square}$

Etkinlik 24 Tam sayılı kesirlerle işlem yap. Önce tam kısımları, sonra kesirleri topla ya da çıkar.

1 $1\frac{2}{7} + 2\frac{3}{7} = \frac{\square}{\square}$

2 $3\frac{1}{5} + 1\frac{2}{5} = \frac{\square}{\square}$

3 $2\frac{4}{9} + 4\frac{3}{9} = \frac{\square}{\square}$

4 $5\frac{5}{8} - 2\frac{3}{8} = \frac{\square}{\square}$

5 $4\frac{6}{10} - 1\frac{4}{10} = \frac{\square}{\square}$

6 $6\frac{3}{4} - 3\frac{2}{4} = \frac{\square}{\square}$

Etkinlik 25 Boyalı kısmı gösteren kesri yaz.

 $\frac{\square}{\square}$

 $\frac{\square}{\square}$

 $\frac{\square}{\square}$

 $\frac{\square}{\square}$

Sorumasyon · Tüm hakları saklıdır. · 2026

Etkinlik 26 Problemleri çöz. Sonucu kutuya yaz.

1. İpek şişedeki suyun 2/7'sini öğleden önce, 3/7'sini öğleden sonra içti. Toplam suyun kaçta kaçını içti? ☐

2. Bir böreğin 3/8'ünü Ali, 2/8'sini Ayşe yedi. Böreğin kaçta kaçı kaldı? ☐

3. Bahçenin 4/9'üne domates, 3/9'üne biber ekildi. Domates biberden ne kadar fazla alana ekildi? ☐

4. Kardeşim 2 yarım lahmacun, ben 4 yarım lahmacun yedim. İkimiz toplam kaç bütün lahmacun yedik? ☐

5. Bir depoda 3 3/5 ton un vardı. 1 1/5 tonu satıldı. Depoda kaç ton un kaldı? ☐

Etkinlik 27 Sözcükleri bul ve daire içine al.

t	ü	j	e	m	g	k	e	s	i	r
h	s	l	a	l	a	f	l	v	p	r
t	b	a	s	i	t	b	c	h	p	b
l	d	b	ı	a	g	z	b	ü	a	i
a	a	ı	f	a	n	j	p	ğ	y	r
b	i	l	e	ş	i	k	r	n	d	i
e	e	p	v	r	i	r	e	s	a	m
n	y	o	f	t	c	u	z	a	m	r
a	b	y	a	o	a	a	ı	ı	b	j
f	a	p	i	a	s	e	ç	i	t	h

⬇️ payda

⬆️ pay

🟨 basit

🟧 bileşik

1️⃣ birim

🍕 kesir

Sorumasyon · Tüm hakları saklıdır. · 2026

Etkinlik 28 Bir kesir problemi yaz ve çöz. Problemde “yarım” ya da “çeyrek” sözcüğünü kullan.

Etkinlik 29 İşlemi yap.

$\frac{3}{10} + \frac{5}{10} = \frac{\square}{\square}$ $\frac{8}{9} - \frac{2}{9} = \frac{\square}{\square}$ $\frac{2}{5} + \frac{2}{5} = \frac{\square}{\square}$ $\frac{7}{12} - \frac{4}{12} = \frac{\square}{\square}$

$\frac{1}{8} + \frac{6}{8} = \frac{\square}{\square}$ $\frac{10}{11} - \frac{3}{11} = \frac{\square}{\square}$ $\frac{5}{6} + \frac{1}{6} = \frac{\square}{\square}$ $\frac{6}{7} - \frac{5}{7} = \frac{\square}{\square}$

Etkinlik 30 Kendimi değerlendiriyorum. Bir yüzü boya.

	Yaptım	Biraz	Çalışmalıyım
Basit, bileşik ve tam sayılı kesirleri tanır, modelle ve sayı doğrusunda gösteririm.	😊	😐	😕
Kesirleri doğru okurum.	😊	😐	😕
Birim kesirleri karşılaştırır ve sıralarım.	😊	😐	😕
Bir çokluğun belirtilen basit kesir kadarını bulurum.	😊	😐	😕
Paydaları eşit kesirleri karşılaştırır, sıfır, yarım ve bütünle kıyaslarım.	😊	😐	😕
Paydaları eşit kesirlerle toplama ve çıkarma yaparım.	😊	😐	😕
Kesir problemlerini çözerim.	😊	😐	😕

Sorumasyon · Tüm hakları saklıdır. · 2026

Etkinlik 31 Belirtilen kesir kadarını bul.

48'in $\frac{5}{6}$ 'i = ☐ | 60'ın $\frac{7}{10}$ 'si = ☐ | 72'nin $\frac{3}{8}$ 'ü = ☐

Etkinlik 32 Bir çikolatayı 10 eş parçaya ayır, 7 parçasını boya. Kesrini yaz.

Cevap Anahtarı 🔑

Etkinlik 1: 1. 4/6 basit · 2. 5/5 bileşik · 3. 7/8 basit · 4. 6/4 bileşik · 5. 1 2/3 tam sayılı (5/3 bileşik olarak da yazılabilir) · 6. 2 1/6 tam sayılı (13/6 bileşik olarak da yazılabilir)

Etkinlik 2: 3/7 → yedide üç · 9/4 → dörtte dokuz · 2 1/5 → iki tam beşte bir · 5/12 → on ikide beş · 8/8 → sekizde sekiz · 1 3/10 → bir tam onda üç

Etkinlik 3: 4/9 basit, dokuzda dört · 11/6 bileşik, altıda on bir · 3 2/7 tam sayılı, üç tam yedide iki · 10/10 bileşik (1 bütün), onda on · 1/12 basit (birim kesir), on ikide bir

Etkinlik 4: 1. 3/5 · 2. 7/8 · 3. 6/4 ya da 1 2/4 · 4. 4/3 ya da 1 1/3 · 5. 6/6 (1 bütün) · 6. 9/4 ya da 2 1/4

Etkinlik 7: 1. D · 2. D · 3. Y · 4. D · 5. Y · 6. Y · 7. D

Etkinlik 8: 1. 5/6 · 2. 1/4 · 3. 4/9 · 4. 7/10

Etkinlik 9: 1. 1/9 < 1/5 < 1/4 < 1/2 · 2. 1/12 < 1/7 < 1/6 < 1/3 · 3. 1/11 < 1/10 < 1/8 < 1/2 · 4. 1/20 < 1/15 < 1/6 < 1/3

Etkinlik 10: 1. 1/3 · 2. 1/5 · 3. 1/2 · 4. 1/8

Etkinlik 12: 1. > · 2. < · 3. > · 4. > · 5. < · 6. = · 7. < · 8. >

Etkinlik 13: 1. B (8) · 2. B (1/4) · 3. B (1/30) · 4. B (küçülür)

Etkinlik 14: 1. 6 · 2. 3 · 3. 8 · 4. 12

Etkinlik 15: 1. 36 ÷ 3 = 12, 2 × 12 = 24 · 2. 40 ÷ 5 = 8, 3 × 8 = 24 · 3. 56 ÷ 7 = 8, 5 × 8 = 40 · 4. 90 ÷ 9 = 10, 4 × 10 = 40 · 5. 84 ÷ 4 = 21, 3 × 21 = 63 · 6. 120 ÷ 6 = 20, 5 × 20 = 100

Çizim ve yazma etkinliklerinin tek bir doğru cevabı yoktur; çocuğunuzla birlikte konuşarak değerlendirin.

Sorumasyon · Tüm hakları saklıdır. · 2026

Etkinlik 33 20 kalemin dörtte üçünü gruplayarak göster.

Cevap Anahtarı (devamı) 🔑

Etkinlik 16: 1. 84 ÷ 4 = 21, 3 × 21 = 63 sayfa · 2. 375 ÷ 3 = 125, 2 × 125 = 250 araç · 3. 25 ÷ 5 = 5 top satıldı, 25 − 5 = 20 top kaldı · 4. 960 ÷ 4 = 240 TL · 5. Elif 8, Orhan 12 → 4 ağaç fazla

Etkinlik 17: 1. 6 · 2. 21 · 3. 10

Etkinlik 18: 1. < · 2. > · 3. = · 4. > · 5. < · 6. > · 7. > · 8. <

Etkinlik 19: 1. 9/11 > 7/11 > 4/11 > 2/11 · 2. 8/6 > 5/6 > 3/6 > 1/6 · 3. 14/15 > 12/15 > 10/15 > 6/15 · 4. 5/4 > 4/4 > 3/4 > 1/4

Etkinlik 20: 1. sıfıra · 2. bütüne · 3. yarıma (5/10 yarıma eşit) · 4. sıfıra · 5. yarıma · 6. bütüne

Etkinlik 21: 1. C (Hakan) · 2. A (okul) · 3. B (6) · 4. C (11/9)

Etkinlik 22: 1. 5/6 · 2. 7/8 · 3. 3/5 (4 parçadan 1'ini çıkar) · 4. 3/10

Etkinlik 23: 1. 5/7 · 2. 8/9 · 3. 9/12 · 4. 8/10 · 5. 5/8 · 6. 6/12 · 7. 0 · 8. 3/6 · 9. 7/5 · 10. 7/4 · 11. 11/11 = 1 · 12. 7/7 = 1

Etkinlik 24: 1. 3 5/7 · 2. 4 3/5 · 3. 6 7/9 · 4. 3 2/8 · 5. 3 2/10 · 6. 3 1/4

Etkinlik 25: 1. 3/7 · 2. 11/12 · 3. 2/3 · 4. 8/8

Etkinlik 26: 1. 2/7 + 3/7 = 5/7 · 2. 3/8 + 2/8 = 5/8 yendi; 8/8 − 5/8 = 3/8 kaldı · 3. 4/9 − 3/9 = 1/9 · 4. 2/2 + 4/2 = 6/2 = 3 bütün · 5. 3 3/5 − 1 1/5 = 2 2/5 ton

Etkinlik 29: 1. 8/10 · 2. 6/9 · 3. 4/5 · 4. 3/12 · 5. 7/8 · 6. 7/11 · 7. 6/6 = 1 · 8. 1/7

Etkinlik 31: 1. 40 · 2. 42 · 3. 27

Çizim ve yazma etkinliklerinin tek bir doğru cevabı yoktur; çocuğunuzla birlikte konuşarak değerlendirin.

Sorumasyon · Tüm hakları saklıdır. · 2026