Etkinlik 1 Saati dakikaya çevir.

1. 3 sa. 52 dk. = ☐ dk.
2. 2 sa. 15 dk. = ☐ dk.
3. 4 sa. 7 dk. = ☐ dk.
4. 6 sa. 20 dk. = ☐ dk.
5. 1 sa. 45 dk. = ☐ dk.
6. 5 sa. 5 dk. = ☐ dk.

Etkinlik 2 Dakikayı saat ve dakikaya çevir.

1. 275 dk. = ☐ sa. ☐ dk.
2. 96 dk. = ☐ sa. ☐ dk.
3. 352 dk. = ☐ sa. ☐ dk.
4. 150 dk. = ☐ sa. ☐ dk.

Etkinlik 3 Dakikayı saniyeye çevir.

1. 3 dk. 18 sn. = ☐ sn.
2. 8 dk. 45 sn. = ☐ sn.
3. 12 dk. = ☐ sn.
4. 4 dk. 5 sn. = ☐ sn.
5. 2 dk. 30 sn. = ☐ sn.
6. 10 dk. = ☐ sn.

Etkinlik 4 Saniyeyi dakika ve saniyeye çevir.

1. 400 sn. = ☐ dk. ☐ sn.
2. 185 sn. = ☐ dk. ☐ sn.
3. 612 sn. = ☐ dk. ☐ sn.
4. 250 sn. = ☐ dk. ☐ sn.
5. 75 sn. = ☐ dk. ☐ sn.
6. 324 sn. = ☐ dk. ☐ sn.

Sorumasyon · Tüm hakları saklıdır. · 2026

Etkinlik 5 Eşit olan zaman dilimlerini eşleştir.

1 saat	30 dakika
yarım saat	15 dakika
çeyrek saat	30 saniye
2 dakika	240 dakika
yarım dakika	120 saniye
4 saat	60 dakika

Etkinlik 6 İki saat arasında ne kadar zaman geçmiş? Yaz.

1 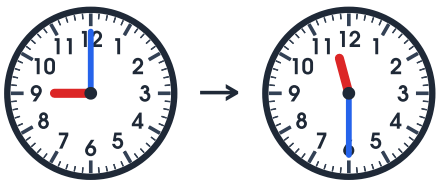

☐ sa. ☐ dk.

2 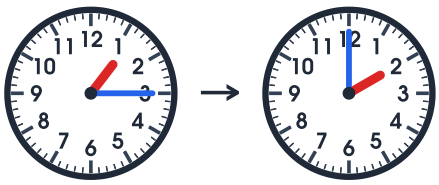

☐ sa. ☐ dk.

3 

☐ sa. ☐ dk.

4 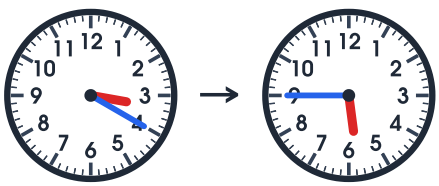

☐ sa. ☐ dk.

5 

☐ sa. ☐ dk.

6 

☐ sa. ☐ dk.

Sorumasyon · Tüm hakları saklıdır. · 2026

Etkinlik 7 Problemleri çöz. Sonucu kutuya yaz.

1. Bir futbol maçının normal süresi 90 dakikadır. Bu süre kaç saat kaç dakikadır? ☐

2. 15.15'te hareket eden bir otobüs 17.50'de vardı. Yolculuk kaç dakika sürdü? ☐

3. 08.30'da yola çıkan bir otobüs 3 saat 15 dakika sonra vardı. Otobüs saat kaçta vardı? ☐

4. Trafik lambasında kırmızı ışık 1 dk. 20 sn. yanıyor. Bu kaç saniyedir? ☐

5. Yeşil ışık 120 sn., sarı ışık bir dakikanın yarısı kadar yanıyor. Yeşil ışık kaç dakika, sarı ışık kaç saniye yanar? ☐

Etkinlik 8 Yıl, ay, hafta ve gün arasında dönüşüm yap.

1. 3 yıl = ☐ ay
2. 2 yıl 5 ay = ☐ ay
3. 48 ay = ☐ yıl
4. 2 yıl = ☐ hafta
5. 3 ay = ☐ hafta
6. 5 hafta = ☐ gün
7. 2 ay = ☐ gün
8. 3 hafta 4 gün = ☐ gün
9. 70 gün = ☐ hafta
10. 90 gün = ☐ ay
11. 6 ay 3 hafta = ☐ hafta
12. 30 ay = ☐ yıl ☐ ay

Etkinlik 9 Dönüştür.

4 sa. = ☐ dk.	9 dk. = ☐ sn.	6 hafta = ☐ gün
5 yıl = ☐ ay	300 sn. = ☐ dk.	7 ay = ☐ hafta

Sorumasyon · Tüm hakları saklıdır. · 2026

Etkinlik 10 Doğru ise D, yanlış ise Y kutusunu işaretle.

D Y 1. 1 yıl 52 haftadır.

D Y 2. Şubat ayı her yıl 29 gündür.

D Y 3. 2028 yılı artık yıldır.

D Y 4. Nisan ayı 31 gündür.

D Y 5. Artık yıllarda bir yıl 366 gündür.

D Y 6. 1 ay 4 haftadır.

D Y 7. Ağustos ayı 30 gündür.

Etkinlik 11 Takvime bak ve soruları cevapla.

1

Kasım 2026

Pzt	Sal	Çar	Per	Cum	Cmt	Paz
						1
2	3	4	5	6	7	8
9	10	11	12	13	14	15
16	17	18	19	20	21	22
23	24	25	26	27	28	29
30						

2

a) Kasım ayı kaç gündür? ☐

b) 24 Kasım hangi gün? ☐

c) 3 Kasım ile 24 Kasım arasında kaç hafta var? ☐

d) Kasımda kaç pazar günü var? ☐

Etkinlik 12 Saat kaç? Kutulara yaz.

 ☐ . ☐

 ☐ . ☐

 ☐ . ☐

 ☐ . ☐

Sorumasyon · Tüm hakları saklıdır. · 2026

Etkinlik 13 Problemleri çöz. Sonucu kutuya yaz.

1. Tuncay Bey'in bilgisayarının garanti süresi 24 aydır. Bu süre kaç yıl, kaç haftadır? ☐

2. Bir mağaza siparişi 5 ay 2 haftada teslim etti. Teslimat kaç gün sürdü? ☐

3. Cihan'ın ailesi bir şehirde 3 yıl 6 ay kaldı. Bu kaç ay, kaç haftadır? ☐

4. Nil bebek 210 günlük oldu. Nil kaç aylık, kaç haftalıktır? ☐

5. Bir terzi 7 günde bir elbise dikiyor. Terzi 5 haftada kaç elbise diker? ☐

Etkinlik 14 Doğru cevabı daire içine al.

1. Ali her gün 25 dakika kitap okuyor. 2 haftada kaç dakika okur?

A **175 dk.** B **350 dk.** C **50 dk.**

2. 350 dakika kaç saat kaç dakikadır?

A **5 sa. 50 dk.** B **3 sa. 50 dk.** C **6 sa. 10 dk.**

3. Hangi ay 31 gün çekmez?

A **ocak** B **eylül** C **aralık**

4. Bir dizinin her bölümü 45 dakikadır. 4 bölüm kaç saat sürer?

A **2 saat** B **3 saat** C **4 saat**

Sorumasyon · Tüm hakları saklıdır. · 2026

Etkinlik 15 Hangi soru veri toplamaya uygundur? Daire içine al.

1. Hangisi veri toplamaya uygun bir sorudur?

A **En sevdiğin meyve hangisidir?**

B **Türkiye'nin başkenti neresidir?**

C **1 saat kaç dakikadır?**

2. Hangisi veri toplamaya uygun değildir?

A **Okula nasıl geliyorsun?**

B **Kaç kardeşin var?**

C **Bir hafta kaç gündür?**

Etkinlik 16 Sütun grafiğine bak, soruları cevapla.

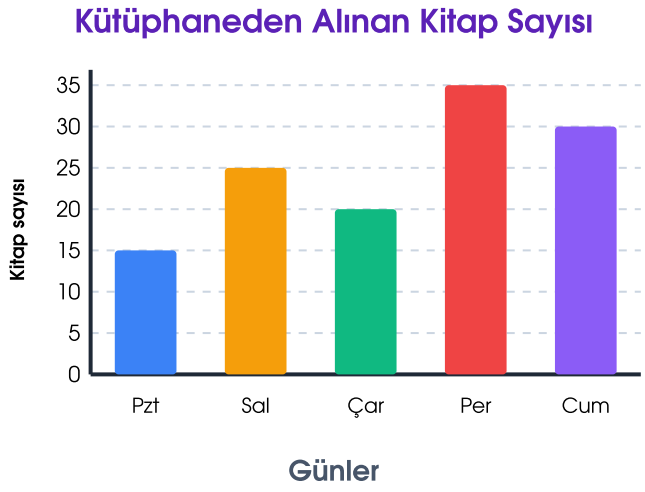

a) En çok kitap hangi gün alındı? ____

b) En az kitap hangi gün alındı? ____

c) En çok ve en az alınan kitap sayısı arasındaki fark? ____

d) Hafta boyunca toplam kaç kitap alındı? ____

e) Salı mı, cuma mı daha çok kitap alındı? ____

Etkinlik 17 Dönüştür.

1 sa. 10 dk. = ____ dk.

3 yıl = ____ hafta

84 gün = ____ hafta

Sorumasyon · Tüm hakları saklıdır. · 2026

Etkinlik 18 Şekil grafiğindeki verileri sıklık tablosuna yaz. Soruları cevapla.

Sınıf Başkanlığı Seçimi

Ece	✉ ✉ ✉ ✉
Mert	✉ ✉ ✉
Defne	✉ ✉ ✉ ✉ ✉
Can	✉ ✉

Her ✉ 2 oyu gösterir.

Aday	Oy sayısı
Ece	
Mert	
Defne	
Can	

a) Seçimi kim kazandı? ____

b) Toplam kaç oy kullanıldı? ____

c) Ece, Can'dan kaç oy fazla aldı? ____

Etkinlik 19 Çetele tablosundaki verileri kullanarak sütun grafiğini çiz.

Futbolcuların Gol Sayıları

Futbolcu	Çetele	Gol
Arda	𝍸 ||	
Kerem	𝍸	
Barış	𝍸 ||||	
Emre	|||	

Gol Sayıları

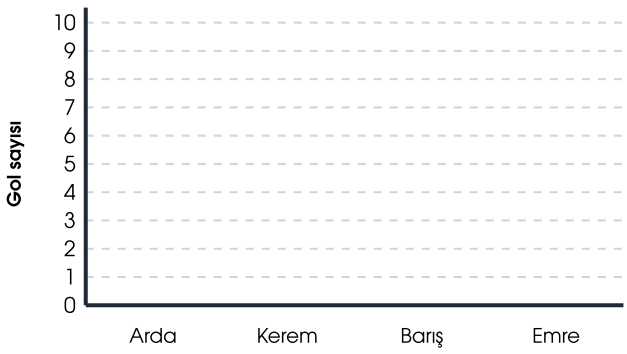

Sorumasyon · Tüm hakları saklıdır. · 2026

Etkinlik 20 Sipariş verilerini sıklık tablosuna yaz, sütun grafiğini çiz.

Bir lokantaya gelen siparişlerin 8 tanesi lahmacun, 10 tanesi kıymalı pide, 12 tanesi köfte, 5 tanesi tavuk şiştir.

Yemek	Çetele	Sipariş
lahmacun		
kıymalı pide		
köfte		
tavuk şiş		

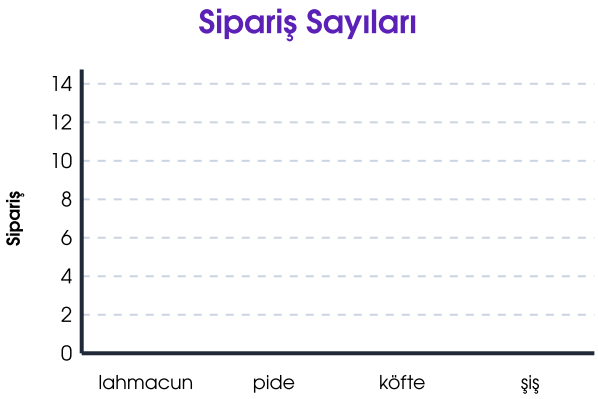

Etkinlik 21 Grafiğe bakarak tahmin et.

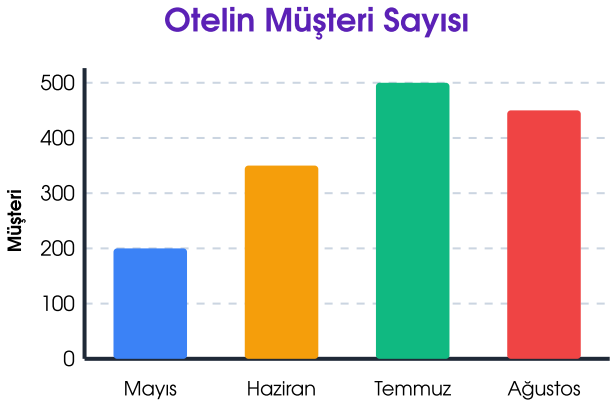

a) En çok müşteri hangi ayda?

b) En az müşteri hangi ayda?

c) Temmuzdan ağustosa müşteri sayısı kaç değişti?

d) Eylülde müşteri sayısı nasıl olabilir? Tahmin et.

Etkinlik 22 Okul gününü saatlerle gösteren bir çizelge çiz.

Sorumasyon · Tüm hakları saklıdır. · 2026

Etkinlik 23 Hayvanları ağaç şemasıyla sınıflandır. Boş kutulara yaz.

kedi · balık · kartal · at · yunus · serçe

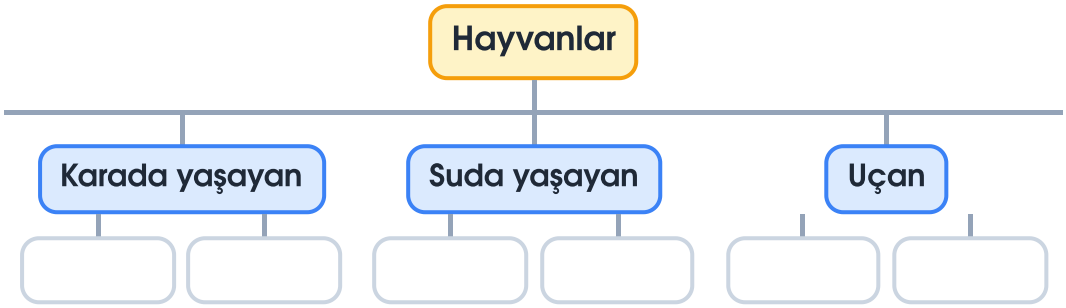

Etkinlik 24 Sınıfında bir anket yap: "En sevdiğin mevsim hangisi?" Sonuçları çetele tablosuna yaz ve yorumla.

Etkinlik 25 Kendimi değerlendiriyorum. Bir yüzü boya.

	Yaptım	Biraz	Çalışmalıyım
Saat, dakika ve saniye arasında dönüşüm yaparım.	😊	😐	☹️
Yıl, ay, hafta ve gün arasında dönüşüm yaparım.	😊	😐	☹️
Artık yılı açıklarım.	😊	😐	☹️
Zaman ölçme problemlerini çözerim.	😊	😐	☹️
Veri toplamaya uygun soru sorarım.	😊	😐	☹️
Sütun grafiğini okur, yorumlar ve oluştururum.	😊	😐	☹️
Verileri çetele, sıklık tablosu, şekil grafiği ve ağaç şemasıyla gösteririm.	😊	😐	☹️

Sorumasyon · Tüm hakları saklıdır. · 2026

Cevap Anahtarı 🔑

Etkinlik 1: 1. 232 dk. · 2. 135 dk. · 3. 247 dk. · 4. 380 dk. · 5. 105 dk. · 6. 305 dk.

Etkinlik 2: 1. 4 sa. 35 dk. · 2. 1 sa. 36 dk. · 3. 5 sa. 52 dk. · 4. 2 sa. 30 dk.

Etkinlik 3: 1. 198 sn. · 2. 525 sn. · 3. 720 sn. · 4. 245 sn. · 5. 150 sn. · 6. 600 sn.

Etkinlik 4: 1. 6 dk. 40 sn. · 2. 3 dk. 5 sn. · 3. 10 dk. 12 sn. · 4. 4 dk. 10 sn. · 5. 1 dk. 15 sn. · 6. 5 dk. 24 sn.

Etkinlik 5: 1 saat → 60 dakika · yarım saat → 30 dakika · çeyrek saat → 15 dakika · 2 dakika → 120 saniye · yarım dakika → 30 saniye · 4 saat → 240 dakika

Etkinlik 6: 1. 2 sa. 30 dk. · 2. 0 sa. 45 dk. · 3. 3 sa. 30 dk. · 4. 2 sa. 25 dk. · 5. 0 sa. 45 dk. · 6. 3 sa. 50 dk.

Etkinlik 7: 1. 1 sa. 30 dk. · 2. 2 sa. 35 dk. = 155 dk. · 3. 11.45 · 4. 80 sn. · 5. yeşil 2 dk., sarı 30 sn.

Etkinlik 8: 1. 36 ay · 2. 29 ay · 3. 4 yıl · 4. 104 hafta · 5. 12 hafta · 6. 35 gün · 7. 60 gün · 8. 25 gün · 9. 10 hafta · 10. 3 ay · 11. 27 hafta · 12. 2 yıl 6 ay

Etkinlik 9: 1. 240 dk. · 2. 540 sn. · 3. 42 gün · 4. 60 ay · 5. 5 dk. · 6. 28 hafta

Etkinlik 10: 1. D · 2. Y · 3. D · 4. Y · 5. D · 6. D · 7. Y

Etkinlik 11: 2. a) 30 · b) Salı · c) 3 hafta · d) 5

Çizim ve yazma etkinliklerinin tek bir doğru cevabı yoktur; çocuğunuzla birlikte konuşarak değerlendirin.

Cevap Anahtarı (devamı) 🔑

Etkinlik 12: 1. 07.45 · 2. 10.20 · 3. 02.35 · 4. 11.55

Etkinlik 13: 1. 2 yıl, 104 hafta · 2. 150 + 14 = 164 gün · 3. 42 ay, 156 + 24 = 180 hafta · 4. 7 aylık, 30 haftalık · 5. 5 × 7 = 35 gün → 5 elbise

Etkinlik 14: 1. B (350 dk.) · 2. A (5 sa. 50 dk.) · 3. B (eylül) · 4. B (3 saat)

Etkinlik 15: 1. A (En sevdiğin meyve hangisidir?) · 2. C (Bir hafta kaç gündür?)

Etkinlik 16: a) Perşembe · b) Pazartesi · c) 35 − 15 = 20 · d) 15 + 25 + 20 + 35 + 30 = 125 · e) Salı (25) ile Cuma (30) → Cuma

Etkinlik 17: 1. 70 dk. · 2. 156 hafta · 3. 12 hafta

Etkinlik 18: Ece 8, Mert 6, Defne 10, Can 4 · a) Defne · b) 28 · c) 4

Etkinlik 19: Arda 7, Kerem 5, Barış 9, Emre 3 gol · en çok gol Barış, en az Emre · toplam 24 gol

Etkinlik 20: lahmacun 8, kıymalı pide 10, köfte 12, tavuk şiş 5 · en çok köfte, en az tavuk şiş · toplam 35 sipariş

Etkinlik 21: a) Temmuz · b) Mayıs · c) 500 − 450 = 50 azalmış · d) Ağustostan az olur (örneğin 300–400 arası); tatil sezonu bitiyor

Etkinlik 23: Kara: kedi, at · Su: balık, yunus · Hava: kartal, serçe (sıra değişebilir)

Çizim ve yazma etkinliklerinin tek bir doğru cevabı yoktur; çocuğunuzla birlikte konuşarak değerlendirin.

Sorumasyon · Tüm hakları saklıdır. · 2026