Konu Özeti: Geometrik Cisimler ve Şekiller - Geometride Kavramlar 📐

🗺️ Ünite Haritası

📐 Geometri

🔺 Kenar ve köşe
köşeler büyük harf · kenar AB

⬜ Kare · dikdörtgen
kare: 4 kenar eşit · dikdörtgen: karşılıklı eşit

📐 Üçgen çeşitleri
eşkenar · ikizkenar · çeşitkenar

🧊 Küp
6 yüz · 12 ayrıt · 8 köşe · açınım

🟦 Düzlem
sınırsız, düz, kalınlıksız

🕑 Açı
dar < 90° · dik 90° · geniş · doğru 180°

👀 Bir Bakışta

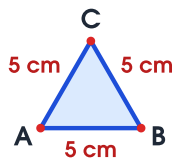

eşkenar

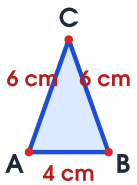

ikizkenar

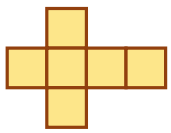

küp açınımı

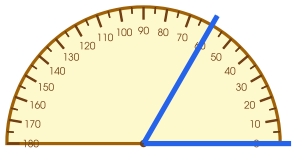

60°

✍️ Kendini dene — Açının çeşidini daire içine al.



dar dik geniş doğru



dar dik geniş doğru



dar dik geniş doğru

dar dik geniş doğru

Sorumasyon · Tüm hakları saklıdır. · 2026

📝 Öğrendiklerimiz

- 🔺 Köşeler büyük harflerle, kenarlar iki köşenin harfiyle isimlendirilir: AB, BC, CA.
- ⬜ Karenin bütün kenarları eşittir; dikdörtgenin karşılıklı kenarları eşittir.
- 📐 Üç kenarı eşit üçgen eşkenar, yalnızca iki kenarı eşit üçgen ikizkenar, üç kenarı farklı üçgen çeşitkenar üçgendir.
- 🧊 Küpün 6 eş kare yüzü, 12 ayrıtı, 8 köşesi vardır. Küp açınımı 6 eş kareden oluşur; her 6 kare açınım değildir.
- 🟦 Düzlem her yönde sınırsız uzayan, kalınlığı olmayan düz yüzeydir.
- 🕑 Başlangıç noktaları aynı iki ışın açı oluşturur. Açının köşesi isimde ortada yazılır: BAC açısı.
- 📏 Açılar açıölçerle ölçülür; birim derecedir (°). Dar açı 90°'den küçük, dik açı 90°, geniş açı 90° ile 180° arası, doğru açı 180°'dir.

🔑 Anahtar Kavramlar

eşkenar 3 kenar eşit	**ikizkenar** 2 kenar eşit	**çeşitkenar** kenarlar farklı
açınım cismin açılmış hâli	**açıölçer** açı ölçme aracı	**derece (°)** açı ölçme birimi

✅ Hatırla

1. Küpün kaç yüzü var? → 6
2. Dik açı kaç derece? → 90°
3. 5, 5, 8 cm üçgen? → ikizkenar
4. Doğru açı kaç derece? → 180°

Sorumasyon · Tüm hakları saklıdır. · 2026