Etkinlik 1 Harf simetrik mi? Simetrikse simetri doğrusunu çiz.

1	2	3	4	5	6
A	F	U	N	V	P
evet	evet	evet	evet	evet	evet
hayır	hayır	hayır	hayır	hayır	hayır

7	8	9	10	11	12
Y	S	T	J	H	Z
evet	evet	evet	evet	evet	evet
hayır	hayır	hayır	hayır	hayır	hayır

Etkinlik 2 Görsel simetrik mi? Doğru olanı boya.

					
kelebek	yıldız	anahtar	kalp	eşkenar dörtgen	bot
○ evet ○ hayır	○ evet ○ hayır	○ evet ○ hayır	○ evet ○ hayır	○ evet ○ hayır	○ evet ○ hayır

Etkinlik 3 Dönüştür.

7 cm = ☐ mm	3 m = ☐ cm	6 km = ☐ m
90 mm = ☐ cm	800 cm = ☐ m	5000 m = ☐ km

Sorumasyon · Tüm hakları saklıdır. · 2026

Etkinlik 4 Şekillerin kaç simetri doğrusu var? Kutuya yaz, doğruları çiz.

1



2



3

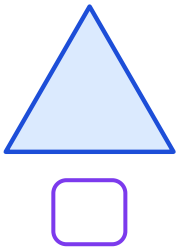

4

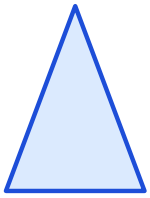

5

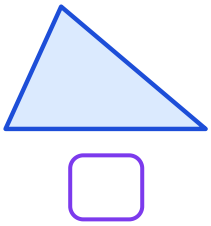

6



Etkinlik 5 Şeklin verilen doğruya göre simetriğini çiz.

1

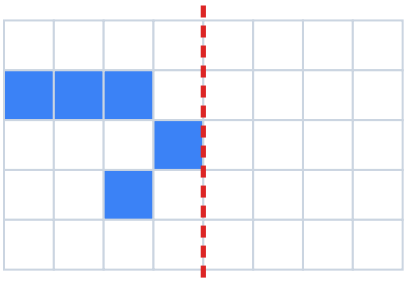

2

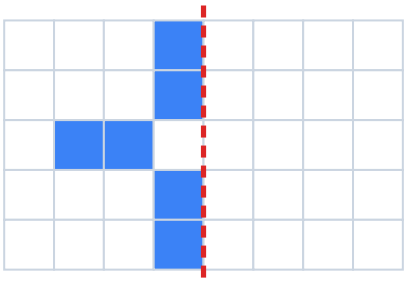

3

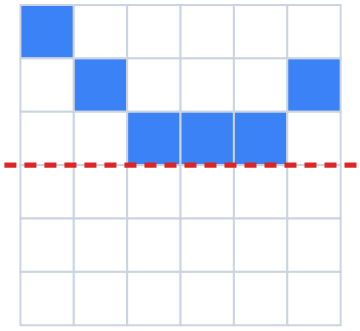

4

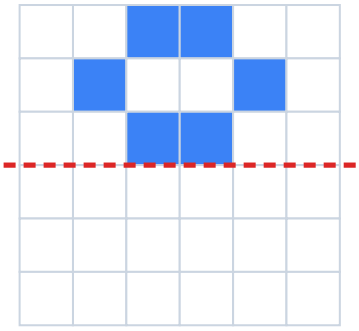

Sorumasyon · Tüm hakları saklıdır. · 2026

Etkinlik 6 Simetriği doğru çizilmiş olanların altındaki “doğru” seçeneğini daire içine al.

1

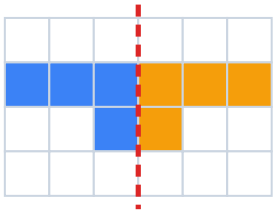

doğru yanlış

2

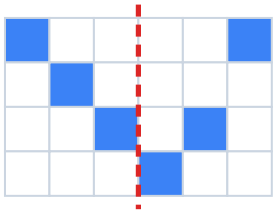

doğru yanlış

3

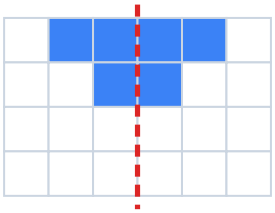

doğru yanlış

4

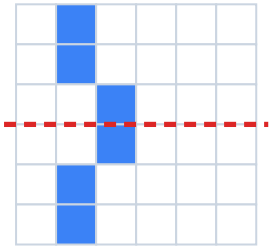

doğru yanlış

5

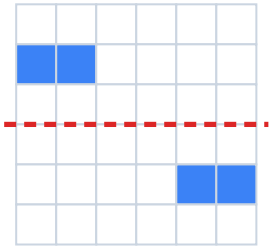

doğru yanlış

6

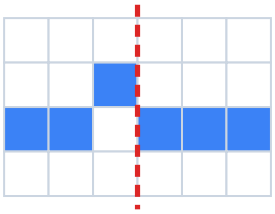

doğru yanlış

Etkinlik 7 Cetvele bak. Uzunluğu milimetre olarak yaz.

1

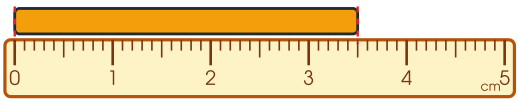

☐ mm

2

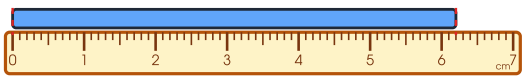

☐ mm

3

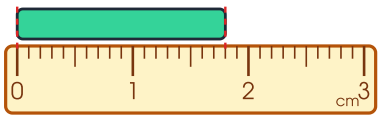

☐ mm

4

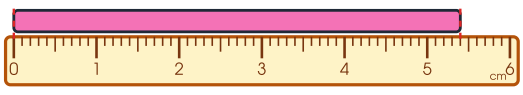

☐ mm

Sorumasyon · Tüm hakları saklıdır. · 2026

Etkinlik 8 Gerçek uzunluğunu ölçmek için milimetre gerekli mi? Doğru olanı boya.

 karınca	 vida	 okul binası	 otoyol	 ilaç tableti	 otobüs
○ evet ○ hayır	○ evet ○ hayır	○ evet ○ hayır	○ evet ○ hayır	○ evet ○ hayır	○ evet ○ hayır

Etkinlik 9 Santimetreyi milimetreye, milimetreyi santimetreye çevir.

1 12 cm = ☐ mm	2 25 cm = ☐ mm	3 9 cm 4 mm = ☐ mm
4 80 mm = ☐ cm	5 3 cm 8 mm = ☐ mm	6 600 mm = ☐ cm

Etkinlik 10 Milimetreyi santimetre ve milimetreye çevir.

1 258 mm = ☐ cm ☐ mm	2 143 mm = ☐ cm ☐ mm
3 76 mm = ☐ cm ☐ mm	4 305 mm = ☐ cm ☐ mm

Etkinlik 11 Metreyi santimetreye, santimetreyi metreye çevir.

1 4 m = ☐ cm	2 2 m 35 cm = ☐ cm	3 7 m 8 cm = ☐ cm
4 900 cm = ☐ m	5 300 cm = ☐ m	6 5 m 60 cm = ☐ cm

Sorumasyon · Tüm hakları saklıdır. · 2026

Etkinlik 12 Santimetreyi metre ve santimetreye çevir.

1 650 cm = ☐ m ☐ cm

2 1205 cm = ☐ m ☐ cm

Etkinlik 13 Kilometreyi metreye, metreyi kilometreye çevir.

1 3 km = ☐ m

2 5 km 250 m = ☐ m

3 2 km 75 m = ☐ m

4 4000 m = ☐ km

5 12 km 8 m = ☐ m

6 8000 m = ☐ km

Etkinlik 14 Metreyi kilometre ve metreye çevir.

1 7190 m = ☐ km ☐ m

2 9050 m = ☐ km ☐ m

Etkinlik 15 Eşit uzunlukları eşleştir.

 1 m	2040 m
 1 km	46 mm
 1 cm	10 mm
 3 m 5 cm	1000 m
 2 km 40 m	305 cm
 4 cm 6 mm	100 cm

Sorumasyon · Tüm hakları saklıdır. · 2026

Etkinlik 16 Karşılaştır. Yuvarlağın içine <, > ya da = yaz.

1. 50 mm ◯ 6 cm
2. 3 m ◯ 300 cm
3. 2 km ◯ 1900 m
4. 125 cm ◯ 1 m 30 cm
5. 7 cm 2 mm ◯ 72 mm
6. 4500 m ◯ 5 km

Etkinlik 17 En uygun tahmini daire içine al.

1. Bir kurşun kalemin uzunluğu yaklaşık...

A 15 mm B 15 cm C 15 m

2. Sınıf kapısının yüksekliği yaklaşık...

A 2 m B 2 cm C 2 km

3. Ankara ile İstanbul arası yaklaşık...

A 450 m B 450 cm C 450 km

4. Bir karıncanın uzunluğu yaklaşık...

A 5 mm B 5 cm C 5 m

5. Öğretmen masasının uzunluğu yaklaşık...

A 12 cm B 120 cm C 120 m

Sorumasyon · Tüm hakları saklıdır. · 2026

Etkinlik 18 Önce tahmin et, sonra cetvelle ölç. Farkı bul.

	Tahminim	Ölçümüm	Fark
✏️ kalemim	_____	_____	_____
📘 defterimin uzun kenarı	_____	_____	_____
🧽 silgim	_____	_____	_____

Etkinlik 19 Problemleri çöz. Sonucu kutuya yaz.

1. Boyu 85 cm olan bir fidan her ay 2 cm uzuyor. Bir yıl sonra fidanın boyu kaç cm olur? ☐
2. Ahmet okula 1 km 250 m yürüyor. Gidiş ve dönüşte toplam kaç metre yürür? ☐
3. 2 m'lik telin 48 cm'si kullanıldı. Kaç cm tel kaldı? ☐
4. Kalem 13 cm 5 mm, silgi 4 cm 2 mm uzunluğundadır. Kalem silgiden kaç mm uzundur? ☐
5. Elif 400 m'lik parkurda 5 tur koştu. Kaç km koşmuştur? ☐

Etkinlik 20 Harf simetrik mi? Daire içine al.

O	E	W	L	X	G
evet hayır	evet hayır	evet hayır	evet hayır	evet hayır	evet hayır

Sorumasyon · Tüm hakları saklıdır. · 2026

Etkinlik 21 Sözcükleri bul ve daire içine al.

h	j	d	ç	s	c	k	a	s	s	m	y
t	a	h	m	i	n	j	g	a	c	d	k
c	l	t	i	j	k	o	t	ğ	o	a	i
z	a	r	l	l	ı	e	d	ü	c	ş	l
b	t	y	i	s	y	y	u	v	c	ç	o
s	s	i	m	e	t	r	i	ş	e	d	m
a	z	z	e	k	r	ş	t	c	t	p	e
y	n	k	t	p	y	ç	g	g	v	k	t
n	i	t	r	l	s	t	k	ü	e	l	r
a	c	s	e	ğ	o	f	s	g	l	ğ	e

 ayna

 simetri

 milimetre

 kilometre

 cetvel

 tahmin

Etkinlik 22 Evinde milimetre, santimetre, metre ve kilometreyle ölçülebilecek birer şey yaz.

Etkinlik 23 Simetrik bir kelebek çiz.

Sorumasyon · Tüm hakları saklıdır. · 2026

Etkinlik 24 Kareli kâğıda kendi deseninin simetriğini çiz.

Etkinlik 25 Kendimi değerlendiriyorum. Bir yüzü boya.

	Yaptım	Biraz	Çalışmalıyım
Bir şeklin simetrik olup olmadığını ayna ile belirlerim.	😊	😐	☹️
Simetri doğrularını çizerim.	😊	😐	☹️
Bir şeklin doğruya göre simetriğini çizerim.	😊	😐	☹️
Milimetrenin kullanıldığı yerleri bilirim.	😊	😐	☹️
km, m, cm ve mm arasında dönüşüm yaparım.	😊	😐	☹️
Uzunlukları tahmin eder, ölçerek kontrol ederim.	😊	😐	☹️
Uzunluk ölçme problemlerini çözerim.	😊	😐	☹️

Cevap Anahtarı 🔑

Etkinlik 1: 1. evet · 2. hayır · 3. evet · 4. hayır · 5. evet · 6. hayır · 7. evet · 8. hayır · 9. evet · 10. hayır · 11. evet · 12. hayır

Etkinlik 2: kelebek: evet · yıldız: evet · anahtar: hayır · kalp: evet · eşkenar dörtgen: evet · bot: hayır

Etkinlik 3: 1. 70 mm · 2. 300 cm · 3. 6000 m · 4. 9 cm · 5. 8 m · 6. 5 km

Etkinlik 4: 1. 4 · 2. 2 · 3. 3 · 4. 1 · 5. 0 (simetri doğrusu yok) · 6. sonsuz

Etkinlik 6: 1. doğru · 2. yanlış · 3. doğru · 4. doğru · 5. yanlış · 6. yanlış

Etkinlik 7: 1. 35 mm · 2. 62 mm · 3. 18 mm · 4. 54 mm

Etkinlik 8: karınca: evet · vida: evet · okul binası: hayır · otoyol: hayır · ilaç tableti: evet · otobüs: hayır

Etkinlik 9: 1. 120 mm · 2. 250 mm · 3. 94 mm · 4. 8 cm · 5. 38 mm · 6. 60 cm

Etkinlik 10: 1. 25 cm 8 mm · 2. 14 cm 3 mm · 3. 7 cm 6 mm · 4. 30 cm 5 mm

Etkinlik 11: 1. 400 cm · 2. 235 cm · 3. 708 cm · 4. 9 m · 5. 3 m · 6. 560 cm

Çizim ve yazma etkinliklerinin tek bir doğru cevabı yoktur; çocuğunuzla birlikte konuşarak değerlendirin.

Sorumasyon · Tüm hakları saklıdır. · 2026

Etkinlik 26 İki resim çizelim.

Adı simetrik harflerle yazılabilen bir sözcük yaz ve çiz.

Sınıfının bir planını çiz, uzunlukları tahmin et.

Cevap Anahtarı (devamı) 🔑

Etkinlik 12: 1. 6 m 50 cm · 2. 12 m 5 cm

Etkinlik 13: 1. 3000 m · 2. 5250 m · 3. 2075 m · 4. 4 km · 5. 12008 m · 6. 8 km

Etkinlik 14: 1. 7 km 190 m · 2. 9 km 50 m

Etkinlik 15: 1 m → 100 cm · 1 km → 1000 m · 1 cm → 10 mm · 3 m 5 cm → 305 cm · 2 km 40 m → 2040 m · 4 cm 6 mm → 46 mm

Etkinlik 16: 1. < · 2. = · 3. > · 4. < · 5. = · 6. <

Etkinlik 17: 1. B (15 cm) · 2. A (2 m) · 3. C (450 km) · 4. A (5 mm) · 5. B (120 cm)

Etkinlik 18: Kendi ölçümlerin; fark = tahmin ile ölçüm arasındaki fark

Etkinlik 19: 1. 12 × 2 = 24, 85 + 24 = 109 cm (1 m 9 cm) · 2. 1250 + 1250 = 2500 m · 3. 200 − 48 = 152 cm (1 m 52 cm) · 4. 135 − 42 = 93 mm · 5. 5 × 400 = 2000 m = 2 km

Etkinlik 20: 1. evet · 2. evet · 3. evet · 4. hayır · 5. evet · 6. hayır

Çizim ve yazma etkinliklerinin tek bir doğru cevabı yoktur; çocuğunuzla birlikte konuşarak değerlendirin.

Sorumasyon · Tüm hakları saklıdır. · 2026