Etkinlik 1 Eşit olanları eşleştir.

1 kg	●	●	750 g
yarım kg	●	●	500 g
çeyrek kg	●	●	1000 mg
1 t	●	●	1000 kg
1 g	●	●	250 g
3 çeyrek kg	●	●	1000 g

Etkinlik 2 Tartıda kaç gram var? Gram olarak yaz.

1



☐ g

2

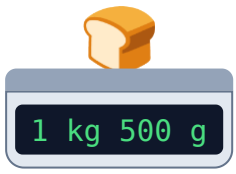

☐ g

3

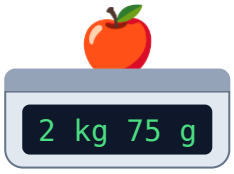

☐ g

4



☐ g

Etkinlik 3 Kilogramı grama, gramı kilograma çevir.

1 — 6 kg = ☐ g

2 — 2 kg 400 g = ☐ g

3 — 5 kg 50 g = ☐ g

4 — 3000 g = ☐ kg

5 — 8 kg 125 g = ☐ g

6 — 9000 g = ☐ kg

Sorumasyon · Tüm hakları saklıdır. · 2026

Etkinlik 4 Gramı kilogram ve grama çevir.

1 1750 g = ☐ kg ☐ g

2 3250 g = ☐ kg ☐ g

3 4500 g = ☐ kg ☐ g

4 2080 g = ☐ kg ☐ g

Etkinlik 5 Ton, kilogram, gram ve miligram arasında dönüşüm yap.

1 3 t = ☐ kg

2 5000 kg = ☐ t

3 2 t 500 kg = ☐ kg

4 4 g = ☐ mg

5 7000 mg = ☐ g

6 1 g 250 mg = ☐ mg

Etkinlik 6 Hangi birimle ölçülür? Daire içine al.

1  tırın yükü — mg g kg t

2  ilaçtaki vitamin — mg g kg t

3  çikolata — mg g kg t

4  bir çocuk — mg g kg t

5  fil — mg g kg t

6  şeker paketi — mg g kg t

7  bir tutam tuz — mg g kg t

8  gemi — mg g kg t

Etkinlik 7 Dönüştür.

5 kg = ☐ g

çeyrek kg = ☐ g

2 t = ☐ kg

Sorumasyon · Tüm hakları saklıdır. · 2026

Etkinlik 8 Karşılaştır. Yuvarlağın içine <, > ya da = yaz.

1 yarım kg ◯ 400 g

2 2 kg ◯ 2000 g

3 1 kg 300 g ◯ 1500 g

4 3 t ◯ 2900 kg

5 çeyrek kg ◯ 250 g

6 5000 mg ◯ 6 g

Etkinlik 9 Problemleri çöz. Sonucu kutuya yaz.

1. Ayşe Hanım her biri 750 g olan 3 paket un aldı. Toplam kaç kg kaç g un aldı? ☐

2. Bir manav 2 kg 500 g elma ve 1 kg 750 g armut sattı. Toplam kaç gram meyve sattı? ☐

3. Bir kamyon 6 t yük taşıyor. 1500 kg'ını boşalttı. Kamyonda kaç kg yük kaldı? ☐

4. Annem 1 kg peynirin çeyreğini kahvaltıda kullandı. Kaç gram peynir kaldı? ☐

5. Bir ilacın her tabletinde 500 mg vitamin var. 4 tablette kaç gram vitamin vardır? ☐

Etkinlik 10 Ölçü kabındaki sıvı kaç mililitre? Yaz.

1

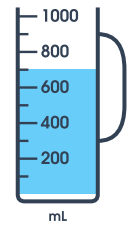

☐ mL

2

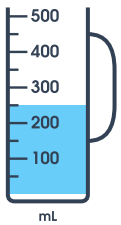

☐ mL

3

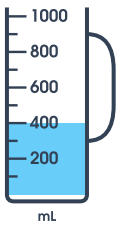

☐ mL

4

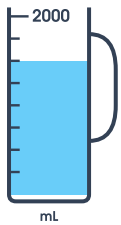

☐ mL

Sorumasyon · Tüm hakları saklıdır. · 2026

Etkinlik 11 Ölçü kabını verilen miktara kadar boya.

1
yarım L

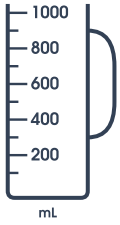

2
çeyrek L

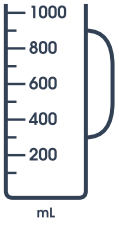

3
800 mL

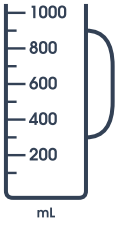

4
1 L

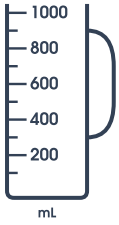

Etkinlik 12 Litreyi mililitreye, mililitreyi litreye çevir.

1
4 L = ☐ mL

2
2 L 300 mL = ☐ mL

3
yarım L = ☐ mL

4
5000 mL = ☐ L

5
çeyrek L = ☐ mL

6
7 L 50 mL = ☐ mL

Etkinlik 13 Mililitreyi litre ve mililitreye çevir.

1
1500 mL = ☐ L ☐ mL

2
3250 mL = ☐ L ☐ mL

3
2750 mL = ☐ L ☐ mL

4
6100 mL = ☐ L ☐ mL

Etkinlik 14 Dönüştür.

6 L = ☐ mL

8000 g = ☐ kg

yarım L = ☐ mL

3 g = ☐ mg

4000 mL = ☐ L

1 kg 200 g = ☐ g

Sorumasyon · Tüm hakları saklıdır. · 2026

Etkinlik 15 En uygun tahmini daire içine al.

1. Bir su bardağı yaklaşık kaç mililitre su alır?

A **20 mL** B **200 mL** C **2000 mL**

2. Bir kova yaklaşık kaç litre su alır?

A **1 L** B **10 L** C **100 L**

3. Bir çay kaşığı şurup yaklaşık...

A **5 mL** B **5 L** C **500 mL**

4. Bir otomobilin yakıt deposu yaklaşık...

A **50 mL** B **50 L** C **5 L**

Etkinlik 16 Litre ile mi ölçülür? Doğru olanı boya. (Hayır ise mililitre ile ölçülür.)

küvetteki su	ilaç şurubu	benzin	parfüm	damacana	kaşıktaki süt
○ L ○ mL	○ L ○ mL	○ L ○ mL	○ L ○ mL	○ L ○ mL	○ L ○ mL

Etkinlik 17 Tartıda 1 kg 500 g gelen bir meyve sepeti çiz.

Sorumasyon · Tüm hakları saklıdır. · 2026

Etkinlik 18 Problemleri çöz. Sonucu kutuya yaz.

1. 2 L'lik şişedeki meyve suyu 250 mL'lik bardaklara dolduruluyor. Kaç bardak dolar? ☐
2. Bir sürahide 1 L 500 mL su vardı. 600 mL içildi. Kaç mL su kaldı? ☐
3. Her gün 5 bardak (200 mL) su içen Ali bir haftada kaç litre su içer? ☐
4. 19 L'lik damacanadan 4 L su kullanıldı. Kaç litre kaldı? ☐
5. Bir şurup şişesi 120 mL'dir. Günde 3 kez 5 mL içilirse şişe kaç günde biter? ☐

Etkinlik 19 Doğru ise D, yanlış ise Y kutusunu işaretle.

D Y 1. 1 L = 1000 mL'dir.

D Y 2. Yarım kilogram 250 gramdır.

D Y 3. Bir filin kütlesi ton ile ölçülür.

D Y 4. 1 g = 100 mg'dır.

D Y 5. Çeyrek litre 250 mL'dir.

D Y 6. İlaçlardaki vitamin miktarı miligram ile ifade edilir.

D Y 7. 1 t = 100 kg'dır.

Etkinlik 20 1 L sütü 4 eş bardağa paylaştır, çiz.

Sorumasyon · Tüm hakları saklıdır. · 2026

Etkinlik 21 Sözcükleri bul ve daire içine al.

l	ç	e	ğ	m	u	n	k	o	ğ	z
m	d	h	l	d	l	s	i	c	f	i
ö	a	i	i	k	h	t	l	c	s	h
ç	b	i	t	y	ç	s	o	a	g	ş
s	n	m	r	a	e	ü	g	b	e	z
i	c	b	e	r	y	a	r	ı	a	p
k	ş	k	r	ı	r	ç	a	y	g	z
j	k	u	t	m	e	n	m	a	z	ı
p	l	z	o	e	k	ç	p	n	n	p
t	i	z	n	c	d	t	ğ	o	d	s

 kilogram

 gram

 ton

 litre

 çeyrek

 yarım

Etkinlik 22 Evindeki üç paketin üzerinde yazan kütle ya da sıvı miktarını yaz. Hangi birimler kullanılmış?

Etkinlik 23 Ton ile ölçülen üç varlık çiz.

Sorumasyon · Tüm hakları saklıdır. · 2026

Etkinlik 24 Bir ölçü kabını 750 mL'ye kadar boya.

Etkinlik 25 Kendimi değerlendiriyorum. Bir yüzü boya.

	Yaptım	Biraz	Çalışmalıyım
Yarım ve çeyrek kilogramı gram olarak ifade ederim.	😊	😐	😕
Kilogram ve gramı birlikte kullanırım.	😊	😐	😕
Ton ve miligramın kullanıldığı yerleri bilirim.	😊	😐	😕
Kütle ölçü birimleri arasında dönüşüm yaparım.	😊	😐	😕
Litre ve mililitre arasında dönüşüm yaparım.	😊	😐	😕
Sıvı miktarlarını tahmin ederim.	😊	😐	😕
Tartma ve sıvı ölçme problemlerini çözerim.	😊	😐	😕

Cevap Anahtarı 🔑

Etkinlik 1: 1 kg → 1000 g · yarım kg → 500 g · çeyrek kg → 250 g · 1 t → 1000 kg · 1 g → 1000 mg · 3 çeyrek kg → 750 g

Etkinlik 2: 1. 3250 · 2. 1500 · 3. 2075 · 4. 4000

Etkinlik 3: 1. 6000 g · 2. 2400 g · 3. 5050 g · 4. 3 kg · 5. 8125 g · 6. 9 kg

Etkinlik 4: 1. 1 kg 750 g · 2. 3 kg 250 g · 3. 4 kg 500 g · 4. 2 kg 80 g

Etkinlik 5: 1. 3000 kg · 2. 5 t · 3. 2500 kg · 4. 4000 mg · 5. 7 g · 6. 1250 mg

Etkinlik 6: 1. t · 2. mg · 3. g · 4. kg · 5. t · 6. kg · 7. g · 8. t

Etkinlik 7: 1. 5000 g · 2. 250 g · 3. 2000 kg

Etkinlik 8: 1. > · 2. = · 3. < · 4. > · 5. = · 6. <

Etkinlik 9: 1. 3 × 750 = 2250 g = 2 kg 250 g · 2. 2500 + 1750 = 4250 g · 3. 6000 − 1500 = 4500 kg · 4. 1000 − 250 = 750 g · 5. 4 × 500 = 2000 mg = 2 g

Çizim ve yazma etkinliklerinin tek bir doğru cevabı yoktur; çocuğunuzla birlikte konuşarak değerlendirin.

Sorumasyon · Tüm hakları saklıdır. · 2026

Etkinlik 26 İki resim çizelim.

Mutfakta kullandığın ölçü araçlarını çiz.

Bir tarif hazırla ve malzemelerin miktarını yaz.

Cevap Anahtarı (devamı) 🔑

Etkinlik 10: 1. 700 mL · 2. 250 mL · 3. 400 mL · 4. 1500 mL

Etkinlik 12: 1. 4000 mL · 2. 2300 mL · 3. 500 mL · 4. 5 L · 5. 250 mL · 6. 7050 mL

Etkinlik 13: 1. 1 L 500 mL · 2. 3 L 250 mL · 3. 2 L 750 mL · 4. 6 L 100 mL

Etkinlik 14: 1. 6000 mL · 2. 8 kg · 3. 500 mL · 4. 3000 mg · 5. 4 L · 6. 1200 g

Etkinlik 15: 1. B (200 mL) · 2. B (10 L) · 3. A (5 mL) · 4. B (50 L)

Etkinlik 16: küvetteki su: L · ilaç şurubu: mL · benzin: L · parfüm: mL · damacana: L · kaşıktaki süt: mL

Etkinlik 18: 1. 2000 ÷ 250 = 8 bardak · 2. 1500 − 600 = 900 mL · 3. 5 × 200 = 1000 mL = 1 L; 7 gün → 7 L · 4. 19 − 4 = 15 L · 5. 3 × 5 = 15 mL; 120 ÷ 15 = 8 gün

Etkinlik 19: 1. D · 2. Y · 3. D · 4. Y · 5. D · 6. D · 7. Y

Çizim ve yazma etkinliklerinin tek bir doğru cevabı yoktur; çocuğunuzla birlikte konuşarak değerlendirin.

Sorumasyon · Tüm hakları saklıdır. · 2026