Etkinlik 1 Kaç grup var? Her grupta kaç tane var? Çarpma işlemini yaz.

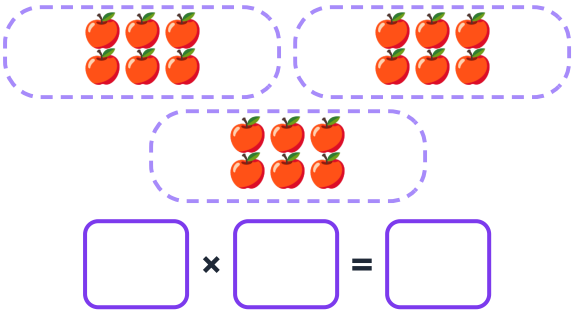

□ × □ = □

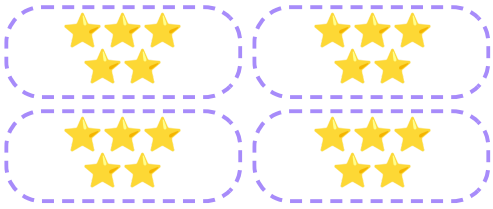

□ × □ = □

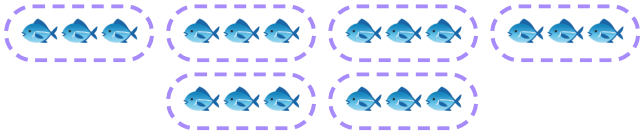

□ × □ = □



□ × □ = □



□ × □ = □

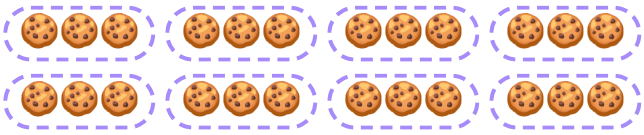

□ × □ = □

Sorumasyon · Tüm hakları saklıdır. · 2026

Etkinlik 2 Satırları ve sütunları say. Çarpma işlemini yaz.



□ × □ = □



□ × □ = □



□ × □ = □



□ × □ = □



□ × □ = □



□ × □ = □

Etkinlik 3 Tekrarlı toplamayı çarpma işlemi olarak yaz ve sonucu bul.

1 $8 + 8 + 8 + 8 = 4 \times$ □

2 $6 + 6 + 6 + 6 + 6 =$ □ $\times 6$

3 $9 + 9 + 9 =$ □

4 $7 + 7 + 7 + 7 + 7 + 7 =$ □

Etkinlik 4 Çarp ya da böl.

$7 \times 8 =$ □	$9 \times 7 =$ □	$6 \times 9 =$ □	$8 \times 4 =$ □
$56 \div 8 =$ □	$72 \div 9 =$ □	$42 \div 6 =$ □	$90 \div 10 =$ □
$5 \times 9 =$ □	$7 \times 6 =$ □	$35 \div 7 =$ □	$64 \div 8 =$ □

Sorumasyon · Tüm hakları saklıdır. · 2026

Etkinlik 5 Çarpım tablosundaki boşlukları doldur.

6 ile çarpma			7 ile çarpma			8 ile çarpma			9 ile çarpma		
6 × 1	=	**6**	7 × 1	=	**7**	8 × 1	=	**8**	9 × 1	=	**9**
6 × 2	=	**12**	7 × 2	=	**14**	8 × 2	=	**16**	9 × 2	=	**18**
6 × 3	=		7 × 3	=		8 × 3	=	**24**	9 × 3	=	
6 × 4	=	**24**	7 × 4	=	**28**	8 × 4	=		9 × 4	=	**36**
6 × 5	=	**30**	7 × 5	=	**35**	8 × 5	=	**40**	9 × 5	=	**45**
6 × 6	=		7 × 6	=		8 × 6	=	**48**	9 × 6	=	
6 × 7	=	**42**	7 × 7	=	**49**	8 × 7	=		9 × 7	=	**63**
6 × 8	=		7 × 8	=	**56**	8 × 8	=	**64**	9 × 8	=	**72**
6 × 9	=	**54**	7 × 9	=		8 × 9	=		9 × 9	=	
6 × 10	=	**60**	7 × 10	=	**70**	8 × 10	=	**80**	9 × 10	=	**90**

Etkinlik 6 Çarpma işlemlerini yap.

1 **6 × 8 =** ☐

2 **7 × 9 =** ☐

3 **9 × 9 =** ☐

4 **8 × 7 =** ☐

5 **6 × 6 =** ☐

6 **4 × 9 =** ☐

7 **10 × 7 =** ☐

8 **5 × 8 =** ☐

9 **3 × 7 =** ☐

10 **9 × 4 =** ☐

11 **7 × 6 =** ☐

12 **8 × 8 =** ☐

Etkinlik 7 Eksik sayıyı bul.

☐ **× 6 = 54**

7 × ☐ **= 49**

☐ **÷ 4 = 9**

8 × ☐ **= 80**

☐ **÷ 3 = 7**

9 × ☐ **= 72**

Sorumasyon · Tüm hakları saklıdır. · 2026

Etkinlik 8 Alt alta çarp.

1
$$\begin{array}{r} 23 \\ \times\ 3 \\ \hline \square\square \end{array}$$

2
$$\begin{array}{r} 47 \\ \times\ 2 \\ \hline \square\square \end{array}$$

3
$$\begin{array}{r} 36 \\ \times\ 5 \\ \hline \square\square\square \end{array}$$

4
$$\begin{array}{r} 18 \\ \times\ 4 \\ \hline \square\square \end{array}$$

5
$$\begin{array}{r} 125 \\ \times\ 3 \\ \hline \square\square\square \end{array}$$

6
$$\begin{array}{r} 214 \\ \times\ 4 \\ \hline \square\square\square \end{array}$$

7
$$\begin{array}{r} 19 \\ \times\ 6 \\ \hline \square\square\square \end{array}$$

8
$$\begin{array}{r} 152 \\ \times\ 5 \\ \hline \square\square\square \end{array}$$

Etkinlik 9 İki basamaklı sayılarla alt alta çarp.

1
$$\begin{array}{r} 12 \\ \times\ 13 \\ \hline \square\square \\ +\ \square\square \\ \hline \square\square\square \end{array}$$

2
$$\begin{array}{r} 21 \\ \times\ 14 \\ \hline \square\square \\ +\ \square\square \\ \hline \square\square\square \end{array}$$

3
$$\begin{array}{r} 32 \\ \times\ 23 \\ \hline \square\square \\ +\ \square\square \\ \hline \square\square\square \end{array}$$

Etkinlik 10 6 × 3 işlemini resimle göster.

Sorumasyon · Tüm hakları saklıdır. · 2026

Etkinlik 11 Eşit olarak paylaştır. Her biri kaç tane alır?



18 ÷ 3 = ☐



24 ÷ 4 = ☐



30 ÷ 5 = ☐



16 ÷ 2 = ☐



28 ÷ 7 = ☐



36 ÷ 6 = ☐

Etkinlik 12 Bölme işlemlerini yap. Kalanı da yaz.

1. 84 ÷ 4 = ☐ kalan ☐
2. 56 ÷ 7 = ☐ kalan ☐
3. 47 ÷ 5 = ☐ kalan ☐
4. 65 ÷ 3 = ☐ kalan ☐
5. 90 ÷ 6 = ☐ kalan ☐
6. 73 ÷ 8 = ☐ kalan ☐
7. 96 ÷ 4 = ☐ kalan ☐
8. 58 ÷ 6 = ☐ kalan ☐

Sorumasyon · Tüm hakları saklıdır. · 2026

Etkinlik 13 Doğru ise D, yanlış ise Y kutusunu işaretle.

D Y 1. Bölme işleminde en büyük öge bölünendir.

D Y 2. Kalan bölenden büyük olabilir.

D Y 3. Böleni 4 olan bölmede kalan 3 olabilir.

D Y 4. Çarpanların yeri değişince çarpım değişir.

D Y 5. Bir sayıyı 0 ile çarparsak sonuç 0 olur.

D Y 6. Böleni 5 olan bölmede kalan 5 olabilir.

D Y 7. 21'in 2 katı 42'dir.

Etkinlik 14 10 ve 100 ile kısa yoldan çarp, 10'a kısa yoldan böl.

1 $8 \times 10 =$ ☐

2 $6 \times 100 =$ ☐

3 $35 \times 10 =$ ☐

4 $4 \times 100 =$ ☐

5 $70 \div 10 =$ ☐

6 $120 \div 10 =$ ☐

7 $500 \div 10 =$ ☐

8 $58 \times 10 =$ ☐

Etkinlik 15 24 çileği 4 tabağa eşit paylaştır, çiz.

Sorumasyon · Tüm hakları saklıdır. · 2026

Etkinlik 16 Sonucu tahmin et. En yakın tahmini daire içine al.

1. 22 × 4 işleminin sonucu yaklaşık kaçtır?

A 40 B 80 C 120

2. 39 × 3 işleminin sonucu yaklaşık kaçtır?

A 120 B 90 C 60

3. 58 ÷ 6 işleminin sonucu yaklaşık kaçtır?

A 5 B 10 C 20

4. Bir ailenin her gün 9 yumurta tükettiği bir haftada yaklaşık kaç yumurta tüketilir?

A 40 B 70 C 100

Etkinlik 17 Zihinden hesapla.

1	13 × 4 = ☐	2	62 × 7 = ☐
3	64 ÷ 4 = ☐	4	45 ÷ 5 = ☐
5	25 × 4 = ☐	6	80 ÷ 4 = ☐
7	31 × 3 = ☐	8	35 ÷ 5 = ☐
9	42 × 2 = ☐		

Etkinlik 18 Çarpım tablosundan sevdiğin bir satırı süsleyerek yaz.

Sorumasyon · Tüm hakları saklıdır. · 2026

Etkinlik 19 Çarpma ve bölme ailesini tamamla.

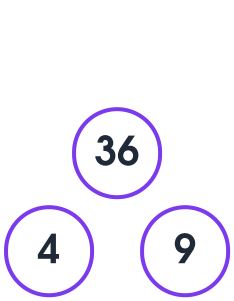

4 × 9 = ☐
9 × 4 = ☐
36 ÷ 4 = ☐
36 ÷ 9 = ☐

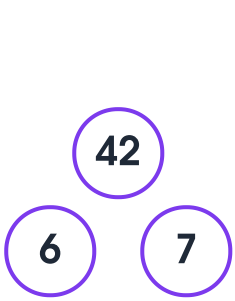

6 × 7 = ☐
7 × 6 = ☐
42 ÷ 6 = ☐
42 ÷ 7 = ☐

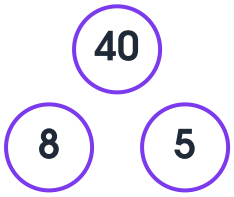

8 × 5 = ☐
5 × 8 = ☐
40 ÷ 8 = ☐
40 ÷ 5 = ☐

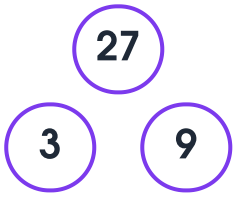

3 × 9 = ☐
9 × 3 = ☐
27 ÷ 3 = ☐
27 ÷ 9 = ☐

Etkinlik 20 Bölme işlemlerinin sağlamasını yap: bölen × bölüm + kalan = bölünen

1

44 ÷ 3 = 14, kalan 2

3 × 14 + 2 = ☐

2

59 ÷ 7 = 8, kalan 3

7 × 8 + 3 = ☐

3

38 ÷ 5 = 7, kalan 3

5 × 7 + 3 = ☐

4

77 ÷ 9 = 8, kalan 5

9 × 8 + 5 = ☐

Sorumasyon · Tüm hakları saklıdır. · 2026

Etkinlik 21 Problemleri çöz. Sonucu kutuya yaz.

1. 5 kutunun her birinde 12 kalem var. Toplam kaç kalem vardır? ☐
2. 48 ceviz 4 arkadaşa eşit paylaştırıldı. Her biri kaç ceviz aldı? ☐
3. 3 sınıfta 24'er öğrenci var. Bu öğrenciler 8 eşit gruba ayrılırsa her grupta kaç öğrenci olur? ☐
4. Selçuk 45 sayfalık kitabı her gün eşit sayıda sayfa okuyarak 5 günde bitirdi. Günde kaç sayfa okudu? ☐
5. 37 öğrenci 4 kişilik sıralara oturacak. Kaç sıra dolar, kaç öğrenci açıkta kalır? ☐

Etkinlik 22 Sözcükleri bul ve daire içine al.

ç	a	r	p	ı	m	v	h	f	l
c	ı	ç	b	n	ç	t	e	l	a
t	k	b	b	o	i	g	e	l	b
a	s	a	ğ	l	a	m	a	h	ö
h	t	m	e	o	v	v	t	h	l
m	ö	ö	ö	c	u	b	ö	h	ü
i	g	h	ı	c	g	s	j	v	m
n	h	k	k	a	t	ş	c	ü	m
a	k	a	l	a	n	v	e	l	e

- ✖ çarpım
- ➗ bölüm
- 🔸 kalan
- 🔁 kat
- 💭 tahmin
- ✅ sağlama

Etkinlik 23 17 balonu 5 çocuğa paylaştır; kalanı göster.

Sorumasyon · Tüm hakları saklıdır. · 2026

Etkinlik 24 Günlük hayattan bir çarpma ve bir bölme problemi yaz ve çöz.

Etkinlik 25 Kendimi değerlendiriyorum. Bir yüzü boya.

	Yaptım	Biraz	Çalışmalıyım
Çarpmayı tekrarlı toplama olarak yazarım.	😊	😐	😕
10'a kadar çarpım tablosunu bilirim.	😊	😐	😕
İki ve üç basamaklı sayılarla çarpma yaparım.	😊	😐	😕
Kalanlı ve kalansız bölme yaparım.	😊	😐	😕
10 ve 100 ile kısa yoldan çarparım.	😊	😐	😕
Sonucu tahmin eder, zihinden işlem yaparım.	😊	😐	😕
Bölmenin sağlamasını yaparım.	😊	😐	😕

Cevap Anahtarı 🔑

Etkinlik 1: 1. 3 × 6 = 18 · 2. 4 × 5 = 20 · 3. 6 × 3 = 18 · 4. 5 × 7 = 35 · 5. 7 × 4 = 28 · 6. 8 × 3 = 24

Etkinlik 2: 1. 3 × 7 = 21 · 2. 4 × 6 = 24 · 3. 5 × 5 = 25 · 4. 6 × 4 = 24 · 5. 2 × 9 = 18 · 6. 7 × 3 = 21

Etkinlik 3: 1. 8 · 2. 5 · 3. 27 · 4. 42

Etkinlik 4: 1. 56 · 2. 63 · 3. 54 · 4. 32 · 5. 7 · 6. 8 · 7. 7 · 8. 9 · 9. 45 · 10. 42 · 11. 5 · 12. 8

Etkinlik 5: 6'lar: 18, 36, 48 · 7'ler: 21, 42, 63 · 8'ler: 32, 56, 72 · 9'lar: 27, 54, 81

Etkinlik 6: 1. 48 · 2. 63 · 3. 81 · 4. 56 · 5. 36 · 6. 36 · 7. 70 · 8. 40 · 9. 21 · 10. 36 · 11. 42 · 12. 64

Etkinlik 7: 1. 9 · 2. 7 · 3. 36 · 4. 10 · 5. 21 · 6. 8

Etkinlik 8: 1. 69 · 2. 94 · 3. 180 · 4. 72 · 5. 375 · 6. 856 · 7. 114 · 8. 760

Etkinlik 9: 1. 36 + 120 = 156 · 2. 84 + 210 = 294 · 3. 96 + 640 = 736

Etkinlik 11: 1. 18 ÷ 3 = 6 · 2. 24 ÷ 4 = 6 · 3. 30 ÷ 5 = 6 · 4. 16 ÷ 2 = 8 · 5. 28 ÷ 7 = 4 · 6. 36 ÷ 6 = 6

Çizim ve yazma etkinliklerinin tek bir doğru cevabı yoktur; çocuğunuzla birlikte konuşarak değerlendirin.

Sorumasyon · Tüm hakları saklıdır. · 2026

Etkinlik 26 İki resim çizelim.

Bir bahçede 4 sıra, 5 sütun ağaç çiz.

Kendi çarpma kartlarını tasarla.

Cevap Anahtarı (devamı) 🔑

Etkinlik 12: 1. 21, kalan 0 · 2. 8, kalan 0 · 3. 9, kalan 2 · 4. 21, kalan 2 · 5. 15, kalan 0 · 6. 9, kalan 1 · 7. 24, kalan 0 · 8. 9, kalan 4

Etkinlik 13: 1. D · 2. Y · 3. D · 4. Y · 5. D · 6. Y · 7. D

Etkinlik 14: 1. 80 · 2. 600 · 3. 350 · 4. 400 · 5. 7 · 6. 12 · 7. 50 · 8. 580

Etkinlik 16: 1. B (80) · 2. A (120) · 3. B (10) · 4. B (70)

Etkinlik 17: 1. 52 · 2. 434 · 3. 16 · 4. 9 · 5. 100 · 6. 20 · 7. 93 · 8. 7 · 9. 84

Etkinlik 19: 1. 36, 36, 9, 4 · 2. 42, 42, 7, 6 · 3. 40, 40, 5, 8 · 4. 27, 27, 9, 3

Etkinlik 20: 1. 44 · 2. 59 · 3. 38 · 4. 77

Etkinlik 21: 1. 5 × 12 = 60 kalem · 2. 48 ÷ 4 = 12 ceviz · 3. 3 × 24 = 72, 72 ÷ 8 = 9 öğrenci · 4. 45 ÷ 5 = 9 sayfa · 5. 37 ÷ 4 = 9, kalan 1 → 9 sıra dolar, 1 öğrenci kalır (10 sıra gerekir)

Çizim ve yazma etkinliklerinin tek bir doğru cevabı yoktur; çocuğunuzla birlikte konuşarak değerlendirin.

Sorumasyon · Tüm hakları saklıdır. · 2026