Etkinlik 1 Yönergeleri sırayla uygula. Kutulara sonuçları yaz.

1

15 → + 9 → ☐ → ÷ 4 → ☐ → × 7 → ☐

2

48 → ÷ 6 → ☐ → × 5 → ☐ → − 12 → ☐

3

36 → − 8 → ☐ → ÷ 4 → ☐ → × 9 → ☐ → + 7 → ☐

4

9 → × 8 → ☐ → + 28 → ☐ → ÷ 10 → ☐ → × 6 → ☐

Etkinlik 2 Yönergeleri işleme çevir ve sonucu bul.

1. 25 sayısına 15 ekle, sonucu 4'e böl. ☐
2. 7'nin 6 katını bul, 12 çıkar. ☐
3. 100'den 37 çıkar, 26 ekle. ☐
4. 8 ile 9'u çarp, sonucu 10 ile kısa yoldan çarp. ☐

Etkinlik 3 Eşitliği tamamla.

4 × 5 = 12 + ☐	30 − 6 = 3 × ☐	36 ÷ 4 = 5 + ☐
7 + 9 = 2 × ☐	☐ × 3 = 9 + 6	50 ÷ 5 = ☐ − 2

Sorumasyon · Tüm hakları saklıdır. · 2026

Etkinlik 4 Yol haritasına bak, soruları cevapla.

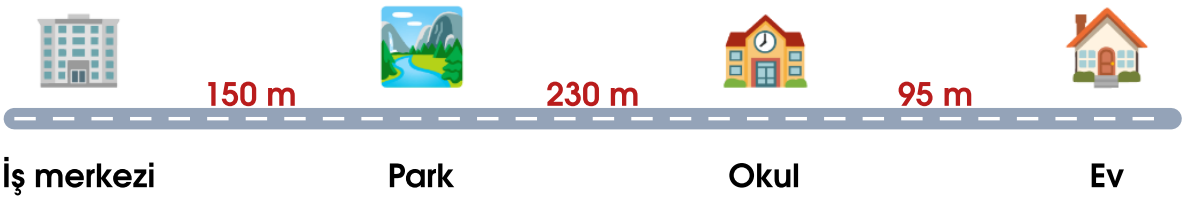

a) Erdem iş merkezinden evine kaç metre yürür? ☐

b) Park ile ev arası kaç metredir? ☐

c) İş merkezinden okula kaç metredir? ☐

ç) Park ile okul arası kaç metredir? Bu sayı tek mi, çift mi? ☐

Etkinlik 5 Fiyat listesine bak. Her çocuğun kaç TL ödeyeceğini bul.

	Ürün	Fiyat
📒	defter	**25 TL**
✏️	kalem	**8 TL**
🎒	çanta	**150 TL**
📏	cetvel	**12 TL**
🧽	silgi	**5 TL**
📚	hikâye kitabı	**45 TL**

Tansu: 2 defter, 1 kalem → ☐ TL

Sarp: 1 çanta, 1 cetvel → ☐ TL

Çetin: 3 kalem, 2 silgi → ☐ TL

Beril: 1 kitap, 1 defter, 1 cetvel → ☐ TL

Sorumasyon · Tüm hakları saklıdır. · 2026

Etkinlik 6 Problemleri çözmek için gereken işlemle eşleştir.

📚 245 kitaba 138 kitap eklendi.	●	● çarpma
🐷 963 liranın 485'i harcandı.	●	● çıkarma
🍪 6 tabakta 8'er kurabiye var.	●	● bölme
🌰 56 ceviz 7 kişiye paylaşıldı.	●	● toplama

Etkinlik 7 Toplama ve çıkarma problemlerini çöz. (En çok üç işlem)

1. Bir otobüste 38 yolcu vardı. İlk durakta 12 kişi indi, 25 kişi bindi. Otobüste kaç yolcu oldu? ☐
2. Bir fırında sabah 120, öğlen 95 ekmek pişti. 180 ekmek satıldı. Kaç ekmek kaldı? ☐
3. Ali'nin 250 TL'si vardı. 85 TL'lik ayakkabı ve 45 TL'lik tişört aldı. Kaç TL'si kaldı? ☐
4. Bir manav 145 kg elma, 98 kg armut getirdi. Günün sonunda 176 kg meyve sattı. Kaç kg meyve kaldı? ☐
5. Esra 3 gün kitap okudu: 45, 38 ve 52 sayfa. Kitap 200 sayfa ise kaç sayfa kaldı? ☐

Etkinlik 8 Bir yol tarifini haritayla çiz.

Sorumasyon · Tüm hakları saklıdır. · 2026

Etkinlik 9 Çarpma ve bölme problemlerini çöz. (En çok iki işlem)

1. Bir kutuda 6 sıra, her sırada 8 çikolata var. Çikolatalar 4 kardeşe eşit paylaştırılırsa her biri kaç çikolata alır? ☐
2. Bir çiçekçi her buketine 10 çiçek koyuyor. 7 buket için kaç çiçek gerekir? ☐
3. 90 öğrenci 3 otobüse eşit bindi. Her otobüste kaç öğrenci vardır? ☐
4. Tanesi 9 TL olan kalemlerden 5 tane alan Mert 50 TL verdi. Kaç TL para üstü alır? ☐
5. Bir terzi bir gömleğe 2 m kumaş kullanıyor. 18 m kumaşla kaç gömlek diker? ☐

Etkinlik 10 Doğru cevabı daire içine al.

1. Bir problemi çözerken ilk ne yaparız?

A **işlemi yaparız** B **verilenleri ve isteneni belirleriz** C **sonucu yazarız**

2. "Kaç tane kaldı?" sorusunda genellikle hangi işlemi yaparız?

A **toplama** B **çıkarma** C **çarpma**

3. "Her birinde 6'şar" ifadesi hangi işlemi düşündürür?

A **çarpma** B **çıkarma** C **toplama**

4. Sonucu kontrol etmek için ne yaparız?

A **hiçbir şey** B **ters işlem yaparız** C **soruyu değiştiririz**

Sorumasyon · Tüm hakları saklıdır. · 2026

Etkinlik 11 Problem çözme adımlarını sıraya koy. Kutulara 1, 2, 3, 4 yaz.

☐ ✍️ İşlemleri yaparım.

☐ 💭 Sonucu tahmin eder, işlemlere karar veririm.

☐ ✅ Sonucu kontrol ederim.

☐ 📖 Problemi okur, verilenleri ve isteneni belirlerim.

Etkinlik 12 Eşitliği sağlayan sayıyı bul.

1 $5 + \square = 4 \times 3$

2 $3 \times 8 = 30 - \square$

3 $\square \div 2 = 3 + 4$

4 $6 \times 5 = \square + 12$

5 $45 - 9 = 6 \times \square$

6 $\square \times 4 = 20 + 8$

7 $10 \times 6 = 100 - \square$

8 $72 \div 9 = 2 \times \square$

9 $\square - 15 = 5 \times 5$

Etkinlik 13 Eşitlik doğru mu? Doğru ise D, yanlış ise Y kutusunu işaretle.

D Y 1. $4 \times 6 = 30 - 6$

D Y 2. $48 \div 2 = 20 + 3$

D Y 3. $7 \times 7 = 50 - 1$

D Y 4. $9 + 9 = 3 \times 6$

D Y 5. $36 \div 4 = 10$

D Y 6. $100 - 25 = 3 \times 25$

Sorumasyon · Tüm hakları saklıdır. · 2026

Etkinlik 14 Terazileri dengede tut. Boş kefeye uygun sayıyı yaz.



3 × 6 = ☐



4 × ☐ = 24

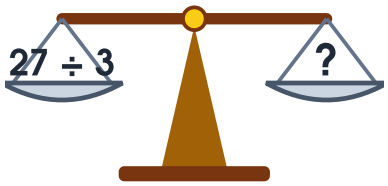

27 ÷ 3 = ☐



☐ ÷ 4 = 9



2 × 7 = ☐ + 7



8 × 5 = ☐

Etkinlik 15 Para, zaman, uzunluk ve tartma problemleri.

1. Film 14.30'da başladı ve 95 dakika sürdü. Film saat kaçta bitti? ☐

2. Bir ip 100 cm'dir. 4 eş parçaya bölünürse her parça kaç cm olur? ☐

3. Bir çuval pirinç 25 kg'dır. 4 çuval kaç kg eder? ☐

4. Annem 3 kg domatesi kilosu 30 TL'den aldı. 100 TL verdi. Kaç TL para üstü aldı? ☐

Etkinlik 16 Kurduğun problemin resmini çiz.

Sorumasyon · Tüm hakları saklıdır. · 2026

Etkinlik 17

Resimdeki duruma uygun bir problem kur ve çöz: 🧺 Bir sepette 24 elma var. Elmalar 🧒🧒🧒 çocuğa paylaştırılacak.

Etkinlik 18

Para, zaman, uzunluk ya da tartma ile ilgili iki işlemli bir problem kur ve çöz.

Etkinlik 19

Kendimi değerlendiriyorum. Bir yüzü boya.

	Yaptım	Biraz	Çalışmalıyım
Yönergeleri sırayla uygularım.	😊	😐	😕
Yönergeleri işlemlere çeviririm.	😊	😐	😕
Problemde verilenleri ve isteneni belirlerim.	😊	😐	😕
Uygun işlemleri seçer, problemi çözerim.	😊	😐	😕
Çözümümü kontrol ederim.	😊	😐	😕
Günlük yaşamdan problem kurarım.	😊	😐	😕
Eşittir işaretinin anlamını açıklarım.	😊	😐	😕

Sorumasyon · Tüm hakları saklıdır. · 2026

Etkinlik 20 Bir terazinin iki kefesine eşit değerde işlemler yaz.

Cevap Anahtarı 🔑

Etkinlik 1: 1. 42 · 2. 28 · 3. 70 · 4. 60

Etkinlik 2: 1. 25 + 15 = 40, 40 ÷ 4 = 10 · 2. 7 × 6 = 42, 42 − 12 = 30 · 3. 100 − 37 = 63, 63 + 26 = 89 · 4. 8 × 9 = 72, 72 × 10 = 720

Etkinlik 3: 1. 8 · 2. 8 · 3. 4 · 4. 8 · 5. 5 · 6. 12

Etkinlik 4: a) 150 + 230 + 95 = 475 m · b) 230 + 95 = 325 m · c) 150 + 230 = 380 m · ç) 230 m (çift sayı)

Etkinlik 5: Tansu: 2 × 25 + 8 = 58 TL · Sarp: 150 + 12 = 162 TL · Çetin: 3 × 8 + 2 × 5 = 34 TL · Beril: 45 + 25 + 12 = 82 TL

Etkinlik 6: 245 kitaba 138 kitap eklendi. → toplama · 963 liranın 485'i harcandı. → çıkarma · 6 tabakta 8'er kurabiye var. → çarpma · 56 ceviz 7 kişiye paylaşıldı. → bölme

Etkinlik 7: 1. 38 − 12 = 26, 26 + 25 = 51 yolcu · 2. 120 + 95 = 215, 215 − 180 = 35 ekmek · 3. 85 + 45 = 130, 250 − 130 = 120 TL · 4. 145 + 98 = 243, 243 − 176 = 67 kg · 5. 45 + 38 + 52 = 135, 200 − 135 = 65 sayfa

Etkinlik 9: 1. 6 × 8 = 48, 48 ÷ 4 = 12 · 2. 7 × 10 = 70 çiçek · 3. 90 ÷ 3 = 30 öğrenci · 4. 5 × 9 = 45, 50 − 45 = 5 TL · 5. 18 ÷ 2 = 9 gömlek

Etkinlik 10: 1. B (verilenleri ve isteneni belirleriz) · 2. B (çıkarma) · 3. A (çarpma) · 4. B (ters işlem yaparız)

Etkinlik 11: İşlemleri yaparım. (3) · Sonucu tahmin eder, işlemlere karar veririm. (2) · Sonucu kontrol ederim. (4) · Problemi okur, verilenleri ve isteneni belirlerim. (1)

Etkinlik 12: 1. 7 · 2. 6 · 3. 14 · 4. 18 · 5. 6 · 6. 7 · 7. 40 · 8. 4 · 9. 40

Etkinlik 13: 1. D · 2. Y · 3. D · 4. D · 5. Y · 6. D

Etkinlik 14: 1. 18 · 2. 6 · 3. 9 · 4. 36 · 5. 7 · 6. 40

Etkinlik 15: 1. 14.30 + 1 saat 35 dakika = 16.05 · 2. 100 ÷ 4 = 25 cm · 3. 4 × 25 = 100 kg · 4. 3 × 30 = 90, 100 − 90 = 10 TL

Çizim ve yazma etkinliklerinin tek bir doğru cevabı yoktur; çocuğunuzla birlikte konuşarak değerlendirin.

Sorumasyon · Tüm hakları saklıdır. · 2026