Etkinlik 1 Geometrik cisimlerin adlarını yaz.

1

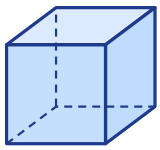

2



3

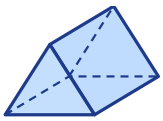

4

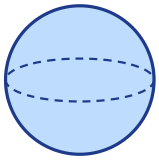

5

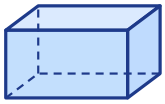

6

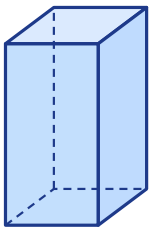

Etkinlik 2 Nesneleri benzedikleri geometrik cisimlerle eşleştir.

zar	dikdörtgen prizma
konserve kutusu	küre
basketbol topu	üçgen prizma
koli	silindir
çadır	küp

Sorumasyon · Tüm hakları saklıdır. · 2026

Etkinlik 3 Cisimlerin köşe, yüz ve ayrıt sayılarını yaz. (Köşeler kırmızı ile gösterildi.)

1

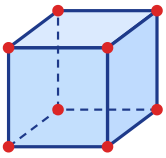

Köşe: ☐
Yüz: ☐
Ayrıt: ☐

2

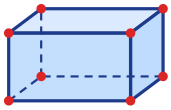

Köşe: ☐
Yüz: ☐
Ayrıt: ☐

3

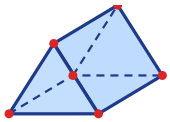

Köşe: ☐
Yüz: ☐
Ayrıt: ☐

4

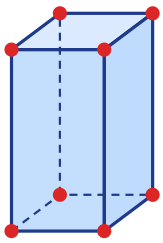

Köşe: ☐
Yüz: ☐
Ayrıt: ☐

Etkinlik 4 Doğru ise D, yanlış ise Y kutusunu işaretle.

D Y 1. Küpün 6 yüzü vardır.

D Y 2. Kürenin köşesi yoktur.

D Y 3. Dikdörtgen prizmanın 8 ayrıtı vardır.

D Y 4. Üçgen prizmanın 5 yüzü vardır.

D Y 5. İki yüzün birleştiği çizgiye ayrıt denir.

D Y 6. Üçgen prizmanın 8 köşesi vardır.

D Y 7. Silindirin iki düz yüzü vardır.

D Y 8. Küp ile kare prizmanın köşe sayıları farklıdır.

Etkinlik 5 Bir küp çiz; köşelerini kırmızı, ayrıtlarını mavi boya.

Sorumasyon · Tüm hakları saklıdır. · 2026

Etkinlik 6 Şekillerin kenar sayısını ve adını yaz.

1

Kenar: ☐
Adı: ☐

2

Kenar: ☐
Adı: ☐

3
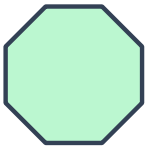
Kenar: ☐
Adı: ☐

4
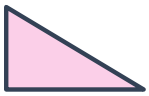
Kenar: ☐
Adı: ☐

5
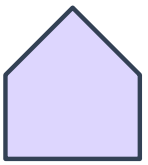
Kenar: ☐
Adı: ☐

6
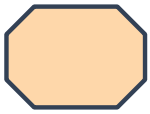
Kenar: ☐
Adı: ☐

7

Kenar: ☐
Adı: ☐

8

Kenar: ☐
Adı: ☐

Etkinlik 7 Şeklin adını daire içine al.


üçgen dörtgen beşgen altıgen sekizgen


üçgen dörtgen beşgen altıgen sekizgen

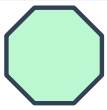
üçgen dörtgen beşgen altıgen sekizgen


üçgen dörtgen beşgen altıgen sekizgen

Etkinlik 8 Cismin köşe sayısını yaz.

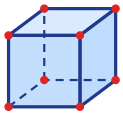
☐

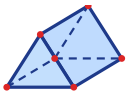
☐

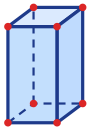
☐


☐

Sorumasyon · Tüm hakları saklıdır. · 2026

Etkinlik 9 Nesnelerin işaretli yüzeyleri hangi şekle benzer? İlgili daireyi boya.

	üçgen	dörtgen	beşgen	altıgen	sekizgen
Dur levhası	○	○	○	○	○
Somun	○	○	○	○	○
Uyarı levhası	○	○	○	○	○
Kapı	○	○	○	○	○
Evin ön yüzü (çatısıyla)	○	○	○	○	○
Tablo çerçevesi	○	○	○	○	○
Bal peteğinin bir gözü	○	○	○	○	○
Gönye	○	○	○	○	○

Etkinlik 10 Bir beşgen ve bir altıgen çiz.

Sorumasyon · Tüm hakları saklıdır. · 2026

Etkinlik 11 Doğru cevabı daire içine al.

1. Altı kenarı olan şekle ne denir?

A **beşgen** B **altıgen** C **sekizgen**

2. Beşgenin kaç köşesi vardır?

A **4** B **5** C **6**

3. Hangisi bir dörtgen değildir?

A **kare** B **dikdörtgen** C **üçgen**

4. Sekizgenin kaç kenarı vardır?

A **6** B **8** C **10**

Etkinlik 12 Köşegenleri doğru çizilen şekillerde "doğru", hatalı çizilenlerde "hatalı" seçeneğini daire içine al.

1



doğru hatalı

2

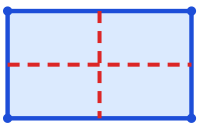

doğru hatalı

3

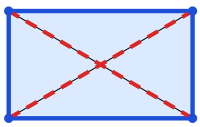

doğru hatalı

4

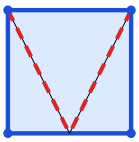

doğru hatalı

5

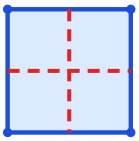

doğru hatalı

6

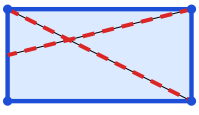

doğru hatalı

7



doğru hatalı

8

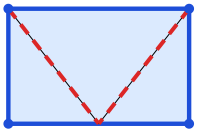

doğru hatalı

Sorumasyon · Tüm hakları saklıdır. · 2026

Etkinlik 13 Köşegenlerle ilgili soruları cevapla.

1. Karenin kaç köşegeni vardır?

A 1 B 2 C 4

2. Üçgenin kaç köşegeni vardır?

A 0 B 1 C 3

3. Bir dikdörtgenin köşegenlerinden biri 9 cm ise diğeri kaç cm'dir?

A 3 cm B 9 cm C 18 cm

4. Köşegen hangi köşeleri birleştirir?

A yan yana olanları B yan yana olmayanları C hiçbirini

Etkinlik 14 Şekillerin köşelerini ve köşegenlerini yaz.

1

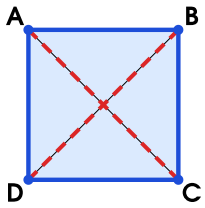

Köşeler:

Köşegenler:

2

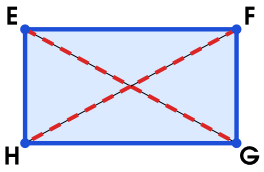

Köşeler:

Köşegenler:

Etkinlik 15 Bir dikdörtgen çiz, köşegenlerini çiz.

Sorumasyon · Tüm hakları saklıdır. · 2026

Etkinlik 16 Noktalı kâğıttaki çizimleri cetvelle tamamla. Köşeleri büyük harflerle adlandır.

1
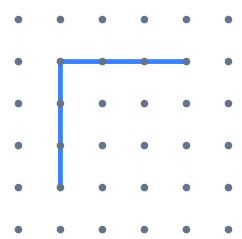
kare

2

dikdörtgen

3

üçgen

4

beşgen

Etkinlik 17 Şekillerin çevre uzunluklarını bul.

1
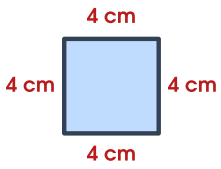

Ç = ☐ cm

2
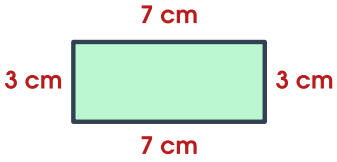

Ç = ☐ cm

3
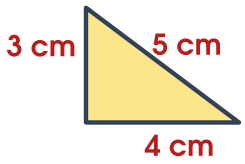

Ç = ☐ cm

4
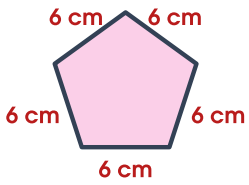

Ç = ☐ cm

5
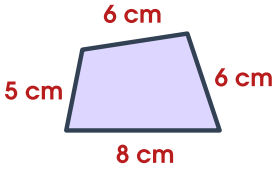

Ç = ☐ cm

6
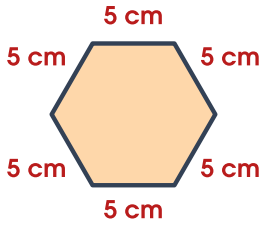

Ç = ☐ cm

Etkinlik 18 Kareli kâğıttaki şekillerin çevresi kaç birimdir? Birim karelerin kenarlarını say.

1
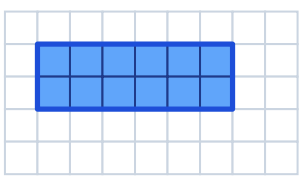
☐ birim

2
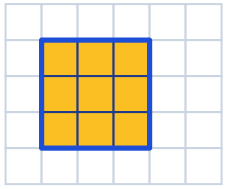
☐ birim

3
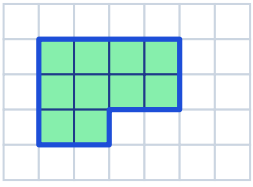
☐ birim

Sorumasyon · Tüm hakları saklıdır. · 2026

Etkinlik 19 Standart olmayan birimlerle ölçülen çevreleri bul.



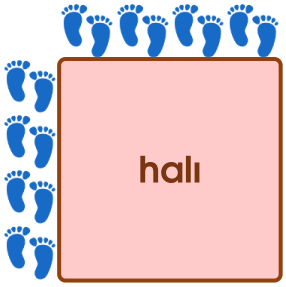

1. Defterin uzun kenarı 5 ataş, kısa kenarı 3 ataş. Çevresi kaç ataştır? ☐
2. Bir ataş 2 cm olduğuna göre defterin çevresi kaç cm'dir? ☐
3. Kare şeklindeki halının bir kenarı 4 adım. Çevresi kaç adımdır? ☐
4. Bir adım 40 cm ise halının bir kenarı kaç cm'dir? ☐

Etkinlik 20 Çevre uzunluklarını tahmin et. En uygun tahmini daire içine al.

1. Defterin kapağının çevresi yaklaşık kaçtır?

A 10 cm B 100 cm C 1000 cm

2. Sınıf kapısının çevresi yaklaşık kaçtır?

A 60 cm B 6 m C 60 m

3. Silginin üst yüzünün çevresi yaklaşık kaçtır?

A 12 cm B 120 cm C 12 m

4. Futbol sahasının çevresi yaklaşık kaçtır?

A 30 m B 300 m C 3000 m

Sorumasyon · Tüm hakları saklıdır. · 2026

Etkinlik 21 Problemleri çöz. Sonucu kutuya yaz.

1. Kare şeklindeki bahçenin bir kenarı 9 m'dir. Bahçenin etrafı bir kez telle çevrilecek. Kaç metre tel gerekir? ☐

2. Dikdörtgen şeklindeki masanın kenarları 120 cm ve 80 cm'dir. Masanın çevresi kaç cm'dir? ☐

3. Elif silindir şeklindeki kalemliğinin etrafına bir kez ip doladı. İpin uzunluğu 24 cm geldi. Kalemliğin çevresi kaç cm'dir? ☐

4. Üç kenarı da 8 cm olan bir üçgenin çevresi kaç cm'dir? ☐

5. Çevresi 20 cm olan karenin bir kenarı kaç cm'dir? ☐

Etkinlik 22 İki resim çizelim.

Çevresi 12 birim olan bir şekil çiz.

Yarım litre su alan bir kap çiz.

Sorumasyon · Tüm hakları saklıdır. · 2026

Etkinlik 23 Kaptaki sıvı miktarına uygun ifadeyi daire içine al.

1

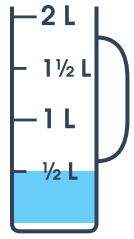

yarım litreden az
yarım litre
1 litre
1 litreden fazla

2

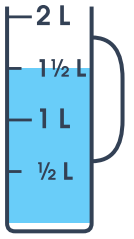

yarım litreden az
yarım litre
1 litre
1 litreden fazla

3

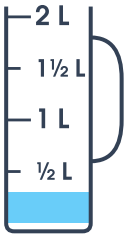

yarım litreden az
yarım litre
1 litre
1 litreden fazla

4

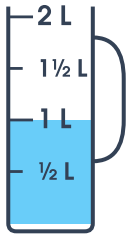

yarım litreden az
yarım litre
1 litre
1 litreden fazla

5

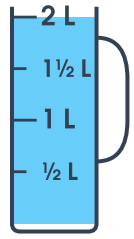

yarım litreden az
yarım litre
1 litre
1 litreden fazla

6

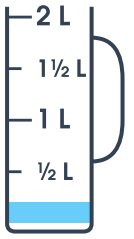

yarım litreden az
yarım litre
1 litre
1 litreden fazla

7

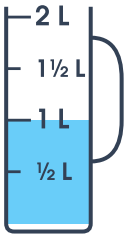

yarım litreden az
yarım litre
1 litre
1 litreden fazla

8

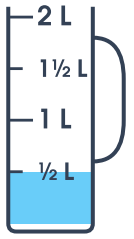

yarım litreden az
yarım litre
1 litre
1 litreden fazla

Etkinlik 24 Kaplar 1 litreden az mı, fazla mı sıvı alır? Tahmin et, ilgili daireyi boya.



Fincan

○ az ○ fazla



Kova

○ az ○ fazla



Küvet

○ az ○ fazla



Su bardağı

○ az ○ fazla



Meyve suyu kutusu

○ az ○ fazla



Yüzme havuzu

○ az ○ fazla



Kaşık

○ az ○ fazla



Varil

○ az ○ fazla

Sorumasyon · Tüm hakları saklıdır. · 2026

Etkinlik 25 Boşlukları doldur.

1
1 litre = ☐ yarım litre

2
2 litre = ☐ yarım litre

3
3 litre = ☐ yarım litre

4
4 yarım litre = ☐ litre

5
10 yarım litre = ☐ litre

6
1 litre + 1 yarım litre = ☐ yarım litre

Etkinlik 26 Sıvı problemlerini çöz.

1. Annem 3 litre süt aldı. Her gün yarım litre süt içiyoruz. Süt kaç günde biter? ☐

2. Yarım litrelik 8 şişe su kaç litre eder? ☐

3. Bahçeyi sulamak için 10 litrelik kovayla 5 kez su taşıdık. Kaç litre su kullandık? ☐

4. Bir sürahi 2 litre su alıyor. Sürahiyi yarım litrelik bardakla doldurmak için kaç bardak su gerekir? ☐

Etkinlik 27 Sekizgen şeklinde bir trafik levhası çiz.

Sorumasyon · Tüm hakları saklıdır. · 2026

Etkinlik 28 Sözcükleri bul ve daire içine al.

s	ı	ç	a	ı	h	m	c	ç	m
s	k	ö	ş	e	g	e	n	b	g
d	d	ö	e	g	g	ğ	d	e	ü
c	l	ö	j	v	ş	r	a	ş	j
h	ş	l	ü	j	f	b	y	g	r
e	ı	i	y	a	ğ	a	r	e	d
k	l	t	ü	k	ı	s	ı	n	ü
e	c	r	z	g	f	n	t	ü	ü
d	b	e	k	ç	e	v	r	e	s

- köşe
- yüz
- ayrıt
- köşegen
- çevre
- litre
- beşgen

Etkinlik 29 Evinde bulunan bir nesnenin çevresini önce karışla tahmin et, sonra cetvel ya da mezurayla ölç. Sonuçları yaz.

Etkinlik 30 Kendimi değerlendiriyorum. Bir yüzü boya.

	Yaptım	Biraz	Çalışmalıyım
Cisimlerin köşe, yüz ve ayrıtlarını gösteririm.	😊	😐	😕
Şekilleri kenar sayılarına göre adlandırırım.	😊	😐	😕
Kare ve dikdörtgenin köşegenlerini çizerim.	😊	😐	😕
Köşeleri büyük harflerle adlandırır, şekilleri cetvelle çizerim.	😊	😐	😕
Çevre uzunluğunu tahmin eder ve ölçerim.	😊	😐	😕
Sıvı miktarını litre ve yarım litreyle tahmin ederim.	😊	😐	😕

Sorumasyon · Tüm hakları saklıdır. · 2026

Etkinlik 31 İki resim çizelim.

Bir küp çiz; köşelerini kırmızı, ayrıtlarını mavi boya.

Bir beşgen ve bir altıgen çiz.

Cevap Anahtarı 🔑

Etkinlik 1: 1. küp · 2. silindir · 3. üçgen prizma · 4. küre · 5. dikdörtgen prizma · 6. kare prizma

Etkinlik 2: zar → küp · konserve kutusu → silindir · basketbol topu → küre · koli → dikdörtgen prizma · çadır → üçgen prizma

Etkinlik 3: 1. 8 köşe, 6 yüz, 12 ayrıt · 2. 8 köşe, 6 yüz, 12 ayrıt · 3. 6 köşe, 5 yüz, 9 ayrıt · 4. 8 köşe, 6 yüz, 12 ayrıt

Etkinlik 4: 1. D · 2. D · 3. Y · 4. D · 5. D · 6. Y · 7. D · 8. Y

Etkinlik 6: 1. 6 · altıgen · 2. 4 · dörtgen · 3. 8 · sekizgen · 4. 3 · üçgen · 5. 5 · beşgen · 6. 8 · sekizgen · 7. 4 · dörtgen · 8. 6 · altıgen

Etkinlik 7: 1. beşgen · 2. üçgen · 3. sekizgen · 4. dörtgen

Etkinlik 8: 1. 8 · 2. 6 · 3. 8 · 4. 0

Etkinlik 9: Dur levhası → sekizgen · Somun → altıgen · Uyarı levhası → üçgen · Kapı → dörtgen · Evin ön yüzü (çatısıyla) → beşgen · Tablo çerçevesi → dörtgen · Bal peteğinin bir gözü → altıgen · Gönye → üçgen

Etkinlik 11: 1. B (altıgen) · 2. B (5) · 3. C (üçgen) · 4. B (8)

Etkinlik 12: 1. doğru · 2. hatalı · 3. doğru · 4. hatalı · 5. hatalı · 6. hatalı · 7. doğru · 8. hatalı

Etkinlik 13: 1. B (2) · 2. A (0) · 3. B (9 cm) · 4. B (yan yana olmayanları)

Çizim ve yazma etkinliklerinin tek bir doğru cevabı yoktur; çocuğunuzla birlikte konuşarak değerlendirin.

Sorumasyon · Tüm hakları saklıdır. · 2026

Etkinlik 32 İki resim çizelim.

Bir dikdörtgen çiz, köşegenlerini çiz.

Çevresi 12 birim olan bir şekil çiz.

Cevap Anahtarı (devamı) 🔑

Etkinlik 14: 1. A, B, C, D · AC ve BD · 2. E, F, G, H · EG ve FH

Etkinlik 17: 1. 4 + 4 + 4 + 4 = 16 cm · 2. 7 + 3 + 7 + 3 = 20 cm · 3. 4 + 5 + 3 = 12 cm · 4. 6 + 6 + 6 + 6 + 6 = 30 cm · 5. 8 + 6 + 6 + 5 = 25 cm · 6. 5 × 6 = 30 cm

Etkinlik 18: 1. 16 birim · 2. 12 birim · 3. 14 birim

Etkinlik 19: 1. 5 + 3 + 5 + 3 = 16 ataş · 2. 16 × 2 = 32 cm · 3. 4 + 4 + 4 + 4 = 16 adım · 4. 4 × 40 = 160 cm

Etkinlik 20: 1. B (100 cm) · 2. B (6 m) · 3. A (12 cm) · 4. B (300 m)

Etkinlik 21: 1. 9 + 9 + 9 + 9 = 36 m · 2. 120 + 80 + 120 + 80 = 400 cm · 3. 24 cm · 4. 8 + 8 + 8 = 24 cm · 5. 20 ÷ 4 = 5 cm

Etkinlik 23: 1. yarım litre · 2. 1 litreden fazla · 3. yarım litreden az · 4. 1 litre · 5. 1 litreden fazla · 6. yarım litreden az · 7. 1 litre · 8. yarım litre

Etkinlik 24: Fincan: az · Kova: fazla · Küvet: fazla · Su bardağı: az · Meyve suyu kutusu: az · Yüzme havuzu: fazla · Kaşık: az · Varil: fazla

Etkinlik 25: 1. 2 · 2. 4 · 3. 6 · 4. 2 · 5. 5 · 6. 3

Etkinlik 26: 1. 3 litre = 6 yarım litre → 6 gün · 2. 8 yarım litre = 4 litre · 3. 5 × 10 = 50 litre · 4. 2 litre = 4 yarım litre → 4 bardak

Çizim ve yazma etkinliklerinin tek bir doğru cevabı yoktur; çocuğunuzla birlikte konuşarak değerlendirin.

Sorumasyon · Tüm hakları saklıdır. · 2026