Etkinlik 1 Sorular araştırma sorusu mu? İlgili daireyi boya.

	✅ araştırma sorusu	❌ değil
🍎 Sınıfımızda en çok sevilen meyve hangisi?	○	○
🎨 Kırmızı ile sarı karışınca hangi renk olur?	○	○
👨‍👩‍👧 Sınıf arkadaşlarımızın kaç kardeşi var?	○	○
🏫 Okulumuzun adı nedir?	○	○
📚 Bu ay hangi öğrenci kaç kitap okudu?	○	○
🌅 Güneş hangi yönden doğar?	○	○
⚽ Teneffüste en çok hangi oyun oynanıyor?	○	○
🔢 5 ile 3'ün toplamı kaçtır?	○	○

Etkinlik 2 Çetelede kaç çizgi var? Kutuya yaz.

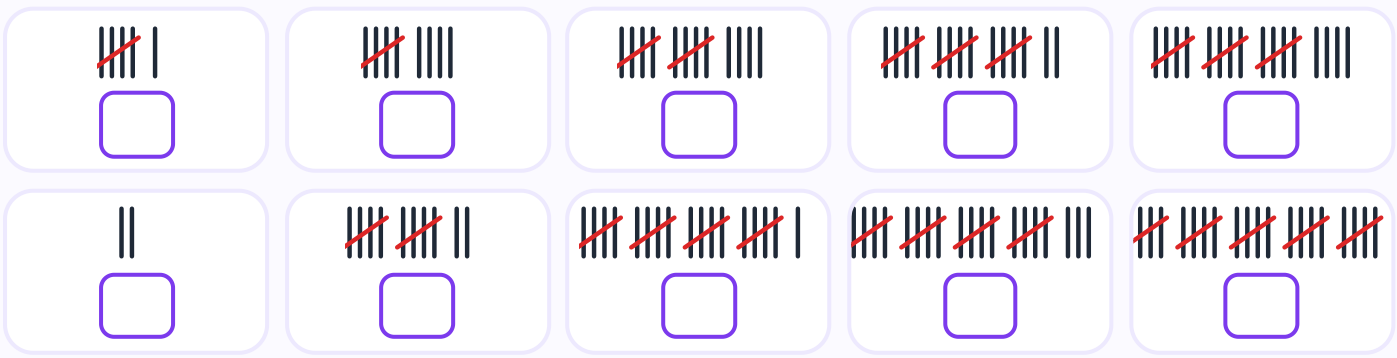

Sorumasyon · Tüm hakları saklıdır. · 2026

Etkinlik 3 Veriler kategorik mi, sayma ile mi elde edilir? İlgili daireyi boya.

	kategorik	sayma ile
En sevilen renk	○	○
Kardeş sayısı	○	○
En sevilen mevsim	○	○
Bir haftada okunan kitap sayısı	○	○
Okula geliş şekli	○	○
Düşen süt dişi sayısı	○	○

Etkinlik 4 Çetelelerdeki sayıları yaz.

1  ☐

2  ☐

3  ☐

4  ☐

5  ☐

6  ☐

7  ☐

8  ☐

Etkinlik 5 Sınıf arkadaşlarına “Hangi mevsimi seviyorsun?” diye sor; sonuçların nokta grafiğini çiz.

Sorumasyon · Tüm hakları saklıdır. · 2026

Etkinlik 6

3/A sınıfındaki öğrencilere “En sevdiğin meyve hangisi?” diye soruldu. Cevapları say; çetele ve sıklık tablosunu doldur.



Meyve	Çetele	Öğrenci Sayısı
🍎 Elma		
🍌 Muz		
🍓 Çilek		
🍊 Portakal		

Etkinlik 7

İki resim çizelim.

Evdeki meyveleri say; nokta grafiğini çiz.

Ailende en sevilen renkler için çetele tablosu yap.

Sorumasyon · Tüm hakları saklıdır. · 2026

Etkinlik 8 Spor kulübüne katılan öğrencilerin sıklık tablosunu çetele tablosuna ve nokta grafiğine dönüştür.

Spor Kulübü · Sıklık Tablosu

Yaş	Öğrenci Sayısı
Yedi yaş	9
Sekiz yaş	6
Dokuz yaş	12
On yaş	9

Spor Kulübü · Çetele Tablosu

Yaş	Öğrenci Sayısı
Yedi yaş	
Sekiz yaş	
Dokuz yaş	
On yaş	

Spor Kulübü · Nokta Grafiği

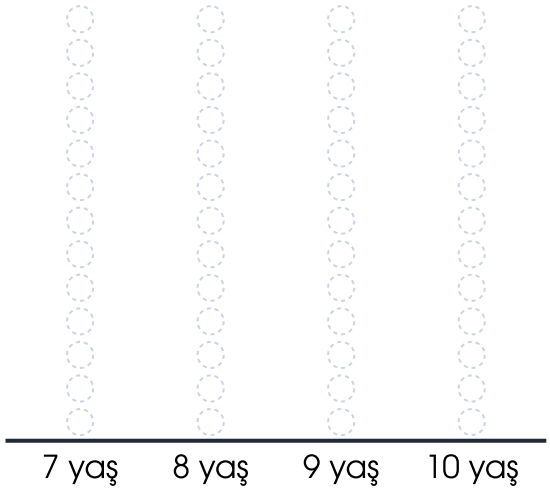

Not: Her nokta 1 öğrenciyi gösterir.

Etkinlik 9 Bir haftada hava durumunu gözle; sonuçları çiz.

Sorumasyon · Tüm hakları saklıdır. · 2026

Etkinlik 10 Yağız'ın okuduğu kitapların nokta grafiğini incele. Soruları cevapla.

Yağız'ın Okuduğu Kitaplar



Not: Her nokta 1 kitabı gösterir.

1. En çok kitabı hangi ayda okudu? ____
2. En az kitabı hangi ayda okudu? ____
3. Nisan'da mayıstan kaç fazla okudu? ____
4. Toplam kaç kitap okudu? ____
5. Kaç ayda 5'ten fazla kitap okudu? ____

Etkinlik 11 Şekil grafiğindeki verileri nokta grafiğiyle göster.

Sevilen Zekâ Oyunları · Şekil Grafiği

Satranç	♟ ♟ ♟ ♟
Sudoku	♟
Mangala	♟ ♟
Kelime oyunu	♟ ♟ ♟

Her ♟ 2 öğrenciyi gösterir.

Sevilen Zekâ Oyunları · Nokta Grafiği

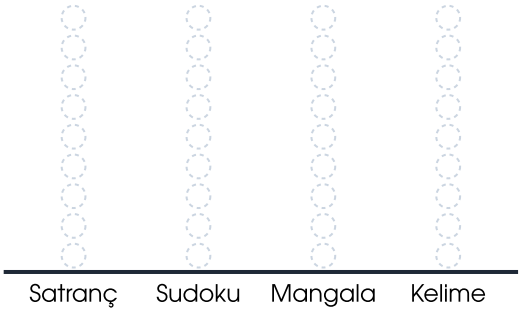

Not: Her nokta 1 öğrenciyi gösterir.

Etkinlik 12 Kendi araştırma afişini tasarla.

Sorumasyon · Tüm hakları saklıdır. · 2026

Etkinlik 13 3/A sınıfı başkanlık seçiminin nokta grafiğini incele. Soruları cevapla.

Sınıf Başkanlığı Seçimi

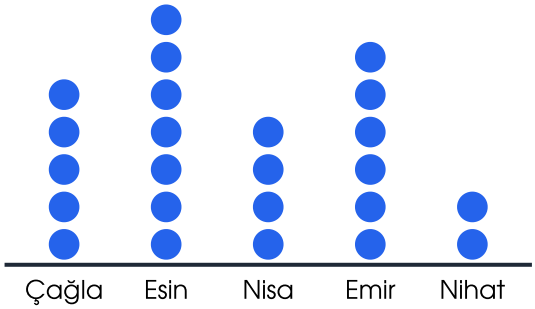

Not: Her nokta 1 oyu gösterir.

1. Seçimi kim kazandı?
2. Toplam kaç öğrenci oy kullandı?
3. Esin, Nisa'dan kaç fazla oy aldı?
4. Nihat'a oy verenler Nisa'ya verseydi kazanan değişir miydi?

Etkinlik 14 İki resim çizelim.

Sevdiğin oyunlar için şekil grafiği çiz.

Sınıf arkadaşlarına "Hangi mevsimi seviyorsun?" diye sor; sonuçların nokta grafiğini çiz.

Sorumasyon · Tüm hakları saklıdır. · 2026

Etkinlik 15 Aralık ayında hava durumu not edildi. Sıklık tablosunu ve nokta grafiğini tamamla.

Aralık Ayı Hava Durumu · Notlar



Sıklık Tablosu

Hava	Gün Sayısı
Güneşli	
Yağmurlu	
Rüzgârlı	
Bulutlu	
Karlı	

Nokta Grafiği

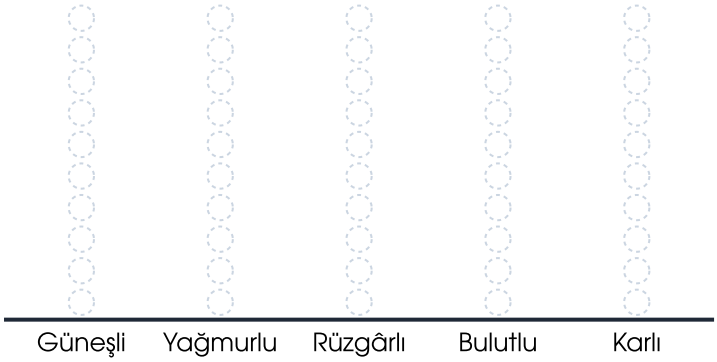

Not: Her nokta 1 günü gösterir.

Etkinlik 16 Evdeki meyveleri say; nokta grafiğini çiz.

Sorumasyon · Tüm hakları saklıdır. · 2026

Etkinlik 17 Bu nokta grafiğinde her nokta 2 öğrenciyi gösteriyor. Soruları cevapla.

En Sevilen Evcil Hayvanlar



Not: Her nokta 2 öğrenciyi gösterir.

1. Kediyi kaç öğrenci seviyor? ☐
2. Kuşu kaç öğrenci seviyor? ☐
3. Köpeği sevenler balığı sevenlerden kaç fazla? ☐
4. Ankete kaç öğrenci katıldı? ☐

Etkinlik 18 Araştırma basamaklarını doğru sıraya koy. Kutulara 1, 2, 3... yaz.

- ☐ 🔵 Nokta grafiği çiz.
- ☐ 📋 Sıklık tablosu oluştur.
- ☐ 👥 Kimlere soracağına karar ver.
- ☐ ❓ Araştırma sorusunu belirle.
- ☐ ✏️ Verileri topla, çeteleyle kaydet.
- ☐ 🤔 Sonuçları yorumla, karar ver.

Etkinlik 19 Kavramları açıklamalarıyla eşleştir.

❓ araştırma sorusu ●	● Her seçeneğin sayısını yazarız.
✏️ çetele tablosu ●	● Her veri bir noktayla gösterilir.
📋 sıklık tablosu ●	● Verileri sayarken çizgi çizeriz.
🔵 nokta grafiği ●	● Ne öğrenmek istediğimizi belirtir.

Sorumasyon · Tüm hakları saklıdır. · 2026

Etkinlik 20 Doğru ise D, yanlış ise Y kutusunu işaretle.

D Y 1. Çetelede beşinci çizgi diğer dördünün üzerine çapraz çizilir.

D Y 2. Nokta grafiğinde her nokta her zaman 10 veriyi gösterir.

D Y 3. Araştırma sorusunun kime sorulacağı açık olmalıdır.

D Y 4. "Okulumuzun adı nedir?" bir araştırma sorusudur.

D Y 5. Verileri farklı bir zamanda toplarsak sonuç değişebilir.

D Y 6. Sıklık tablosunda veriler sayıyla yazılır.

D Y 7. Nokta grafiğinde en uzun nokta sütunu en az veriyi gösterir.

Etkinlik 21 Kütüphanecilik kulübü grafiğine göre (3/A 6 · 3/B 8 · 3/C 6 · 3/D 4 · 3/E 5) doğru cevabı daire içine al.

1. Hangi iki sınıftan eşit sayıda öğrenci katıldı?

A 3/A ve 3/C B 3/B ve 3/E C 3/D ve 3/E

2. 3/B'den katılanlar 3/D'den katılanlardan kaç fazla?

A 2 B 4 C 12

3. Kulübe toplam kaç öğrenci katıldı?

A 25 B 29 C 31

4. Kulüp tanıtımı en çok hangi sınıfta faydalı olur?

A 3/B B 3/A C 3/D

Sorumasyon · Tüm hakları saklıdır. · 2026

Etkinlik 22 Kendi araştırmanı planla. Tabloyu doldur.

❓ Araştırma sorum:	
👥 Kimlere soracağım?	
🗓️ Ne zaman soracağım?	
✏️ Verileri nasıl kaydedeceğim?	
🔵 Nasıl göstereceğim?	

Etkinlik 23 Sözcükleri bul ve daire içine al.

b	ğ	u	p	y	u	l	n	g	o
u	b	z	v	o	ç	v	ç	r	s
ı	o	m	ç	r	e	c	j	a	t
j	y	f	l	u	t	j	s	f	a
a	ğ	ö	t	m	e	s	g	i	b
n	o	k	t	a	l	o	g	k	l
ü	ö	v	e	a	e	r	s	c	o
ç	ç	ş	e	a	d	u	ş	z	m
p	p	a	s	l	v	e	r	i	n

- 🗂️ veri
- ✏️ çetele
- 📋 tablo
- 📊 grafik
- 🔵 nokta
- ❓ soru
- 🤔 yorum

Etkinlik 24 Kendimi değerlendiriyorum. Bir yüzü boya.

	Yaptım	Biraz	Çalışmalıyım
Araştırma sorusu oluştururum.	😊	😐	😕
Araştırma planı yapar, veri toplarım.	😊	😐	😕
Verileri çetele ve sıklık tablosunda gösteririm.	😊	😐	😕
Nokta grafiği çizer ve okurum.	😊	😐	😕
Grafiklere bakarak yorum yapar, karar veririm.	😊	😐	😕

Sorumasyon · Tüm hakları saklıdır. · 2026

Etkinlik 25 **Ailende en sevilen renkler için çetele tablosu yap.**

Cevap Anahtarı 🔑

Etkinlik 1: Sınıfımızda en çok sevilen meyve hangisi? → araştırma sorusu · Kırmızı ile sarı karışınca hangi renk olur? → değil · Sınıf arkadaşlarımızın kaç kardeşi var? → araştırma sorusu · Okulumuzun adı nedir? → değil · Bu ay hangi öğrenci kaç kitap okudu? → araştırma sorusu · Güneş hangi yönden doğar? → değil · Teneffüste en çok hangi oyun oynanıyor? → araştırma sorusu · 5 ile 3'ün toplamı kaçtır? → değil

Etkinlik 2: 1. 6 · 2. 9 · 3. 14 · 4. 17 · 5. 19 · 6. 2 · 7. 12 · 8. 21 · 9. 23 · 10. 25

Etkinlik 3: En sevilen renk → kategorik · Kardeş sayısı → sayma ile · En sevilen mevsim → kategorik · Bir haftada okunan kitap sayısı → sayma ile · Okula geliş şekli → kategorik · Düşen süt dişi sayısı → sayma ile

Etkinlik 4: 1. 3 · 2. 5 · 3. 8 · 4. 11 · 5. 13 · 6. 15 · 7. 18 · 8. 20

Etkinlik 6: Elma 7 · Muz 4 · Çilek 9 · Portakal 5 (toplam 25)

Etkinlik 8: Çetele ve nokta: yedi yaş 9 · sekiz yaş 6 · dokuz yaş 12 · on yaş 9

Etkinlik 10: 1. Temmuz (9) · 2. Haziran (4) · 3. 8 − 5 = 3 · 4. 6 + 8 + 5 + 4 + 9 = 32 · 5. 3 ay (mart, nisan, temmuz)

Çizim ve yazma etkinliklerinin tek bir doğru cevabı yoktur; çocuğunuzla birlikte konuşarak değerlendirin.

Cevap Anahtarı (devamı) 🔑

Etkinlik 11: Satranç 8 · Sudoku 2 · Mangala 4 · Kelime oyunu 6 nokta

Etkinlik 13: 1. Esin (7 oy) · 2. 5 + 7 + 4 + 6 + 2 = 24 · 3. 7 − 4 = 3 · 4. Hayır; Nisa 6 oy olur, Esin 7 oyla yine kazanır.

Etkinlik 15: Güneşli 9 · Yağmurlu 6 · Rüzgârlı 3 · Bulutlu 8 · Karlı 5 (toplam 31 gün)

Etkinlik 17: 1. 5 × 2 = 10 · 2. 2 × 2 = 4 · 3. 8 − 6 = 2 · 4. 10 + 8 + 4 + 6 = 28

Etkinlik 18: Nokta grafiği çiz. (5) · Sıklık tablosu oluştur. (4) · Kimlere soracağına karar ver. (2) · Araştırma sorusunu belirle. (1) · Verileri topla, çeteleyle kaydet. (3) · Sonuçları yorumla, karar ver. (6)

Etkinlik 19: araştırma sorusu → Ne öğrenmek istediğimizi belirtir. · çetele tablosu → Verileri sayarken çizgi çizeriz. · sıklık tablosu → Her seçeneğin sayısını yazarız. · nokta grafiği → Her veri bir noktayla gösterilir.

Etkinlik 20: 1. D · 2. Y · 3. D · 4. Y · 5. D · 6. D · 7. Y

Etkinlik 21: 1. A (3/A ve 3/C) · 2. B (4) · 3. B (29) · 4. C (3/D)

Çizim ve yazma etkinliklerinin tek bir doğru cevabı yoktur; çocuğunuzla birlikte konuşarak değerlendirin.

Sorumasyon · Tüm hakları saklıdır. · 2026