3. Sınıf Matematik · Veriye Dayalı Araştırma · 10 Soruluk Test

Sınav Tarihi: ____ / ____ / _____

Adı Soyadı: _____

Sınıf: _____

1.



Bir sınıftaki öğrencilerin en sevdiği kitap türleri şekil grafiğinde gösterilmiştir.
Grafiğe göre en çok sevilen kitap türü hangisidir?

A) Masal **B)** Öykü **C)** Şiir

2.



3-B sınıfı başkanlık seçimi sonuçlarının çetele tablosu görselde verilmiştir.
Çetele tablosuna göre sınıf başkanlığını kim kazanmıştır?

A) Emir **B)** Ecrin **C)** Yusuf

3.



Ayşe, okuduğu her sayfa için defterine bir çizik atıyor. Defterindeki çetele görselde verilmiştir.
Buna göre Ayşe kaç sayfa kitap okumuştur?

A) 18 **B)** 15 **C)** 13

4.

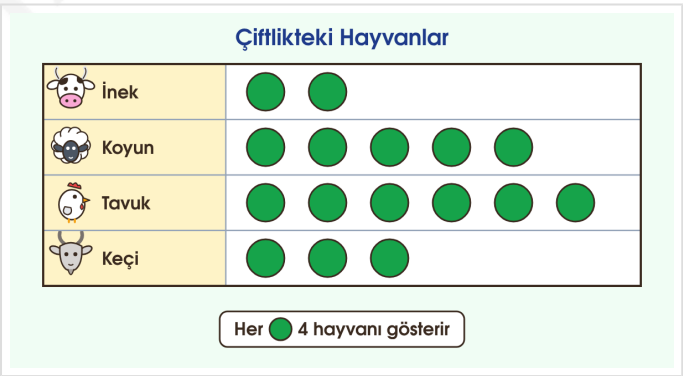

Bir çiftlikteki hayvanların sayıları şekil grafiğinde gösterilmiştir.
Grafiğe göre çiftlikte en fazla ve en az bulunan hayvanların sayısının toplamı kaçtır?

A) 8 **B)** 28 **C)** 32

Sorumasyon v1.0.0-20261101-214746

5.



3-B sınıfı başkanlık seçimi sonuçlarının çetele tablosu görselde verilmiştir.
Çetele tablosuna göre en fazla oy alan aday, en yakın rakibinden kaç oy fazla almıştır?

A) 2 **B)** 8 **C)** 1

6.



Bir ilkokulda hafta sonu kurslarına katılan öğrenci sayıları tabloda verilmiştir.
Tabloya göre hafta sonu kurslarına katılan kaç kız öğrenci vardır?

A) 87 **B)** 164 **C)** 77

7. Nesne grafiği: Bir çiçekçideki çiçek sayıları (her nesne 5 çiçeği gösterir)
Gül: 8 nesne | Lale: 6 nesne | Papatya: 9 nesne | Menekşe: 4 nesne
Buna göre çiçekçide toplam kaç çiçek vardır?

A) 27 **B)** 135 **C)** 125

8.

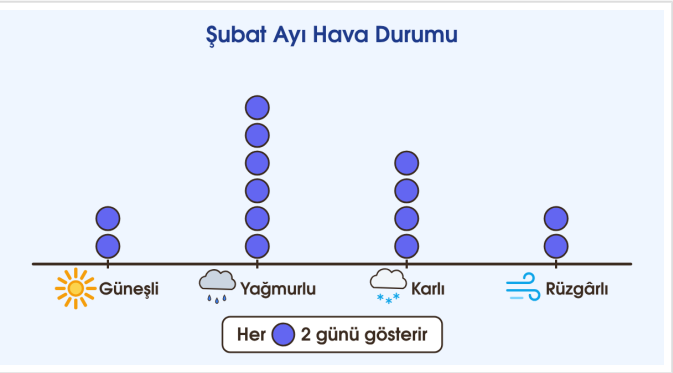

Deniz, şubat ayı boyunca hava durumunu gözlemleyip verileri nokta grafiğinde göstermiştir.
Grafiğe göre yağmurlu günlerin sayısı güneşli günlerin sayısından kaç fazladır?

A) 8 **B)** 4 **C)** 12

9.



3-A sınıfındaki öğrencilerin en sevdiği spor dalları şekil grafiğinde gösterilmiştir.
Hangi spor dalına 3 öğrenci daha ilgi duysaydı, o spor dalının şekil sayısı voleybolun şekil sayısına eşit olurdu?

A) Yüzme
B) Basketbol
C) Futbol

Sorumasyon v1.0.0-20261101-214746

10.

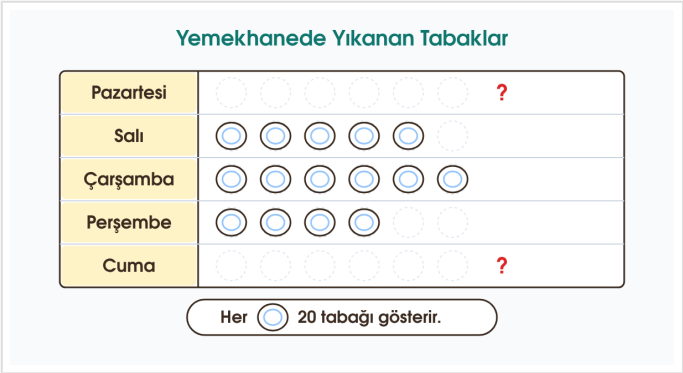

Bir okul yemekhanesinde yıkanan tabakların şekil grafiği tamamlanacaktır. Bir güne en fazla 6 şekil çizilebilir.
İpuçları:
• Her gün tabak yıkanmıştır.
• En az tabak pazartesi günü yıkanmıştır.
• Pazartesi ve cuma günleri için toplam 9 şekil çizilecektir.
Buna göre cuma günü yıkanan tabak sayısı, pazartesi günü yıkanan tabak sayısından kaç fazladır?

A) 60 **B)** 40 **C)** 80

SORUMASYON