3. Sınıf Matematik · Veriye Dayalı Araştırma · 20 Soruluk Test

Sınav Tarihi: ____ / ____ / _____

Adı Soyadı: _____

Sınıf: _____

1.



Bir mağazada bir haftada satılan gömleklerin günlere göre sayıları nokta grafiğinde gösterilmiştir.

Grafiğe göre en fazla gömlek satışı hangi gün yapılmıştır?

A) Pazar
B) Cuma
C) Cumartesi

2.

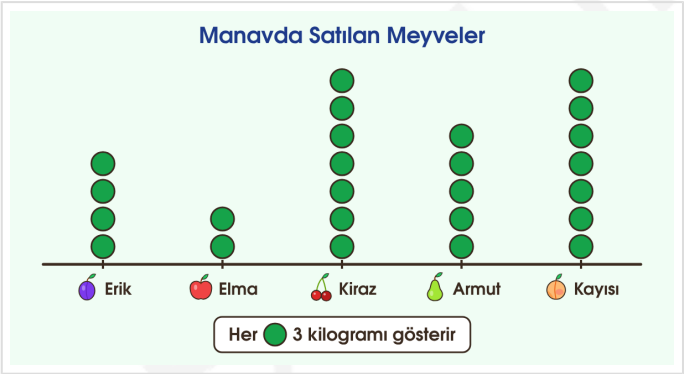

Bir manavda satılan meyve miktarları nokta grafiğinde gösterilmiştir.

Grafiğe göre manavda en az satılan meyve hangisidir?

A) Erik **B)** Armut **C)** Elma

3. Bir manavda meyvelerin 1 kilogramının fiyatı: Elma 7 TL | Armut 9 TL | Kiraz 20 TL | Kayısı 12 TL

Manavın cumartesi günü sattığı meyveleri gösteren şekil grafiğinde (her şekil 1 kilogramı gösterir): Elma 6 şekil | Armut 5 şekil | Kiraz 3 şekil | Kayısı 4 şekil

Manav cumartesi günü toplam kaç kilogram meyve satmıştır?

A) 18 **B)** 16 **C)** 20

4.

Tercih Edilen Etkinlikler

Yaş grupları	12-15	16-20	21-25	26-30
Sinema	32	45	41	28
Tiyatro	18	22	35	50
Konser	25	12	30	37

Farklı yaş gruplarından kişilerin tercih ettikleri etkinlikler tabloda verilmiştir.

Tabloya göre en az tercih edilen etkinlik hangisidir?

A) Tiyatro **B)** Konser **C)** Sinema

Sorumasyon v1.0.0-20261101-214746

5.



Şekil grafiğinde öğrencilerin bir haftada okudukları sayfa sayıları gösterilmiştir.
Selin ile Murat toplam kaç sayfa okumuştur?

A) 66 **B)** 78 **C)** 72

6.



Bir sınıftaki öğrencilerin en sevdiği kitap türleri şekil grafiğinde gösterilmiştir.
Bu grafik kaç kişi arasında yapılan veri toplama çalışması sonucu oluşturulmuştur?

A) 10 **B)** 20 **C)** 30

7.

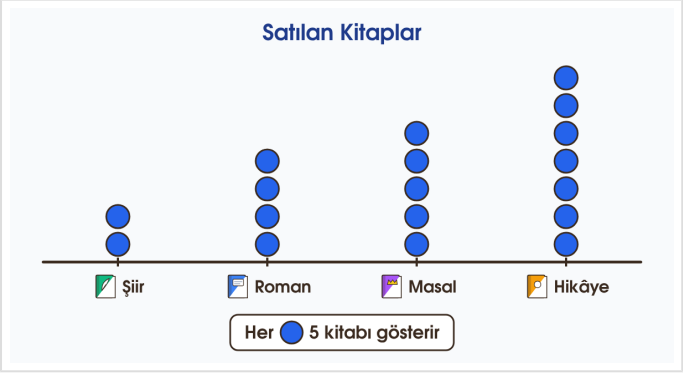

Bir kitapçıda satılan kitapların türleri nokta grafiğinde gösterilmiştir.
Grafiğe göre satılan roman ve masal kitaplarının toplamı, satılan şiir kitaplarının sayısından kaç fazladır?

A) 45 **B)** 40 **C)** 35

8.



3-B sınıfı başkanlık seçimi sonuçlarının çetele tablosu görselde verilmiştir.
Çetele tablosuna göre Emir ve Ecrin'in aldıkları oy sayılarının toplamı kaçtır?

A) 19 **B)** 18 **C)** 20

SORUMASYON

9.

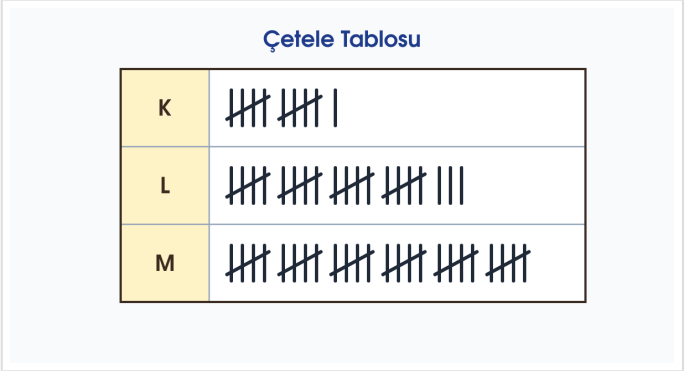

Yukarıdaki çetele tablosu hangi seçenekteki verilerle oluşturulmuştur?

A) Kantinde 11 tost, 24 simit, 30 sandviç satıldı.
B) Çiftlikte 12 inek, 23 koyun, 30 tavuk var.
C) Okul bahçesine 11 lale, 23 gül, 30 menekşe fidanı dikildi.

10.



3-C sınıfındaki öğrencilerin kahvaltıda içtikleri içecekler şekil grafiğinde gösterilmiştir.
Grafiğe göre toplam kaç öğrenci bu içecekleri tüketmiştir?

A) 24 **B)** 27 **C)** 30

11.



Bir haftalık hava sıcaklıkları nokta grafiğinde gösterilmiştir.
Grafiğe göre hangi günlerde hava sıcaklığı aynı derecede olmuştur?

A) Çarşamba – Cuma
B) Perşembe – Cumartesi
C) Salı – Cumartesi

12.

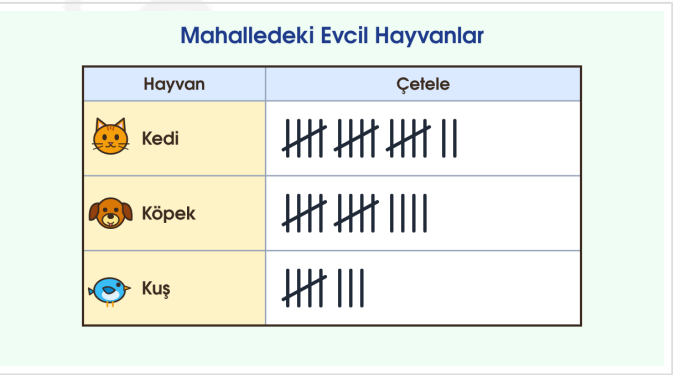

Bir mahalledeki evcil hayvanların çetele tablosu görselde verilmiştir.
Çetele tablosunun sıklık tablosu şeklinde gösterilişi hangisidir?

A) Kedi: 17 | Köpek: 14 | Kuş: 8
B) Kedi: 17 | Köpek: 14 | Kuş: 9
C) Kedi: 15 | Köpek: 12 | Kuş: 7

SORUMASYON

13.



"Hangi meyveyi seversiniz?" sorusuna 3-D sınıfı öğrencilerinin verdiği yanıtlar sütun grafiğinde gösterilmiştir.
Bu grafiğe göre aşağıdaki sorulardan hangisine yanıt verilemez?

A) Üzüm sevenlerin yaşları kaçtır?
B) Kiraz sevenlerin sayısı kaçtır?
C) Sınıfta toplam kaç öğrenci vardır?

14. Öğretmen, öğrencilere en sevdikleri sporu sordu ve şekil grafiği hazırladı (her şekil 4 öğrenciyi gösterir):
Futbol: 6 şekil | Voleybol: 4 şekil | Basketbol: 5 şekil | Yüzme: 2 şekil
Grafiğe göre aşağıdakilerden hangisi doğrudur?

A) Voleybolu seçen 4 öğrenci vardır.
B) Soruyu toplam 17 öğrenci cevaplamıştır.
C) Futbolu seçenler voleybolu seçenlerden 8 kişi fazladır.

15.

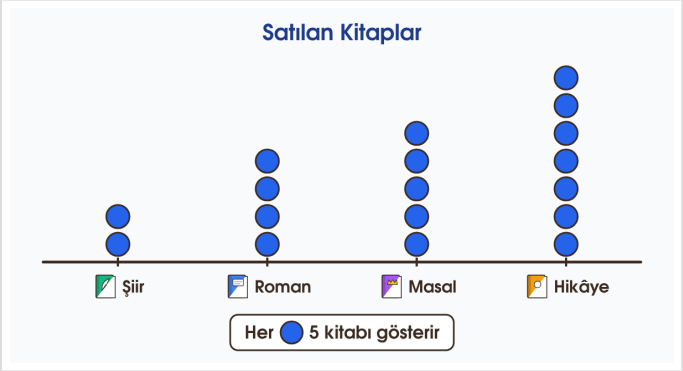

Bir kitapçıda satılan kitapların türleri nokta grafiğinde gösterilmiştir.
Grafiğe göre kitapçıda satılan kitapların toplam sayısı kaçtır?

A) 90 **B)** 18 **C)** 85

16.

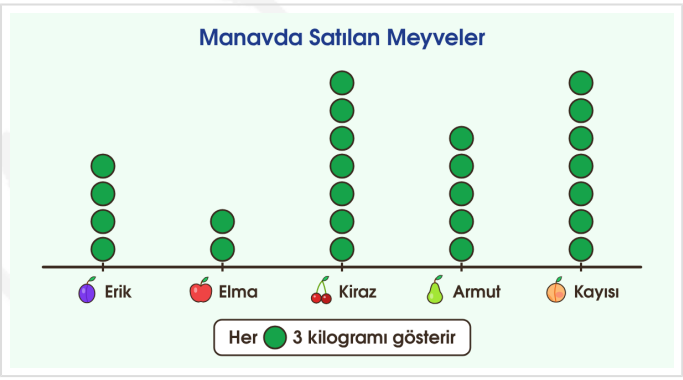

Bir manavda satılan meyve miktarları nokta grafiğinde gösterilmiştir.
Grafiğe göre hangi meyvelerden eşit miktarda satılmıştır?

A) Erik ve armut
B) Armut ve kayısı
C) Kiraz ve kayısı

SORUMASYON

17.

Bir Haftada Satılan Ürünler

Ürün	Çetele
Kazak	𝍸 𝍸 |||
Gömlek	𝍸 |
Tişört	𝍸 𝍸 𝍸 ||||
Mont	𝍸

Bir giyim mağazasının bir haftada sattığı ürünlerin çetele tablosu görselde verilmiştir.
Bu çetele tablosuna uygun sütun grafiğinde sütunların yükseklikleri hangi seçenekte doğru verilmiştir?

A) Kazak: 13 | Gömlek: 6 | Tişört: 18 | Mont: 5
B) Kazak: 13 | Gömlek: 5 | Tişört: 19 | Mont: 4
C) Kazak: 13 | Gömlek: 6 | Tişört: 19 | Mont: 5

18.

Tercih Edilen Etkinlikler

Yaş grupları	12-15	16-20	21-25	26-30
Sinema	32	45	41	28
Tiyatro	18	22	35	50
Konser	25	12	30	37

Farklı yaş gruplarından kişilerin tercih ettikleri etkinlikler tabloda verilmiştir.
Tabloya göre 21-25 yaş grubu ile 12-15 yaş grubu etkinliklerini tercih eden kişilerin sayıları farkı kaçtır?

A) 21 **B)** 31 **C)** 41

19.

Çiftlikteki Hayvanlar

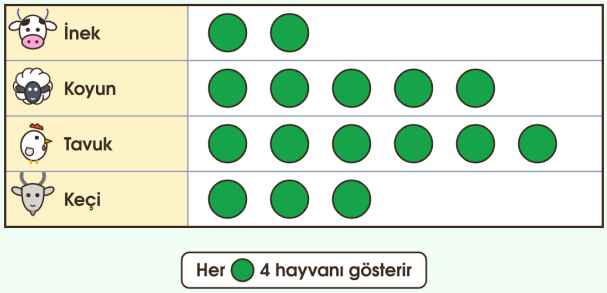

Bir çiftlikteki hayvanların sayıları şekil grafiğinde gösterilmiştir.
Grafiğe göre çiftlikte toplam kaç hayvan vardır?

A) 64 **B)** 16 **C)** 60

20. Sıklık tablosu: Bir çiftlikteki hayvanların toplam ayak sayıları
Ördek: 18 | Keçi: 24 | At: 16
Buna göre aşağıdakilerden hangisi doğrudur?

A) Ördek sayısı keçi sayısından fazladır.
B) Keçi sayısı 8'dir.
C) Çiftlikte en az ördek vardır.

Sorumasyon v1.0.0-20261101-214746

Cevap Anahtarı

1. C	**2.** C	**3.** A	**4.** B	**5.** C
6. B	**7.** C	**8.** A	**9.** C	**10.** B
11. C	**12.** A	**13.** A	**14.** C	**15.** A
16. C	**17.** C	**18.** B	**19.** A	**20.** A

SORUMASYON