3. Sınıf Matematik · Nesnelerin Geometrisi 1 · 10 Soruluk Test

Sınav Tarihi: ____ / ____ / _____

Adı Soyadı: _____

Sınıf: _____

1. Kenarı ve köşesi olmayan bir geometrik şekli en kolay hangi araçla çizebiliriz?

A) Pergel **B)** Gönye **C)** Cetvel

2. Eşit uzunluktaki üç kibrit çöpünün hepsini birer kez kullanarak hangi geometrik şekli oluşturabiliriz?

A) Kare
B) Dikdörtgen
C) Üçgen

3. Aşağıdaki nesnelerden hangisinin uzunluğu karış ile ölçülemez?

A) Sıra **B)** Silgi **C)** Kitap

4.

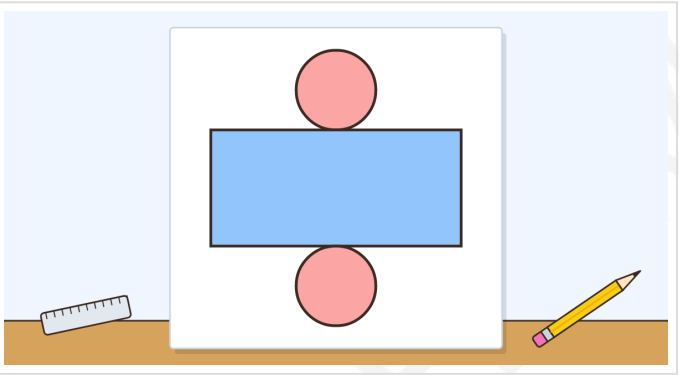

Görselde bir geometrik cismin açınımı verilmiştir.
Açınımı yukarıda anlatılan geometrik cisim hangisidir?

A) Koni **B)** Silindir **C)** Küre

5. Silindir ile ilgili verilen bilgilerden hangisi yanlıştır?

A) Eğri yüzeyi vardır.
B) İki düz yüzü vardır.
C) Köşesi vardır.

6.

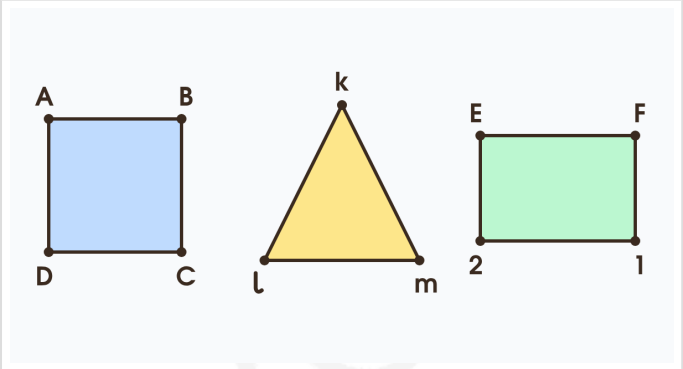

Görseldeki şekillerin köşe noktaları adlandırılmıştır.
Hangi şeklin köşe noktaları doğru isimlendirilmiştir?

A) Üçgen
B) Dikdörtgen
C) Kare

7. Yusuf'un babası: "Arabam 4 litre yakıtla 60 km yol gidiyor."
Buna göre bu araç 420 km yolda kaç litre yakıt tüketir?

A) 7 **B)** 105 **C)** 28

8. Tahtada bir kare, bir üçgen ve bir dikdörtgen çizilidir.
Yukarıdaki şekillerden hangisinin bütün açıları dik açı değildir?

A) Üçgen
B) Kare
C) Kare ve dikdörtgen

Sorumasyon v1.0.0-20261101-214746

9.

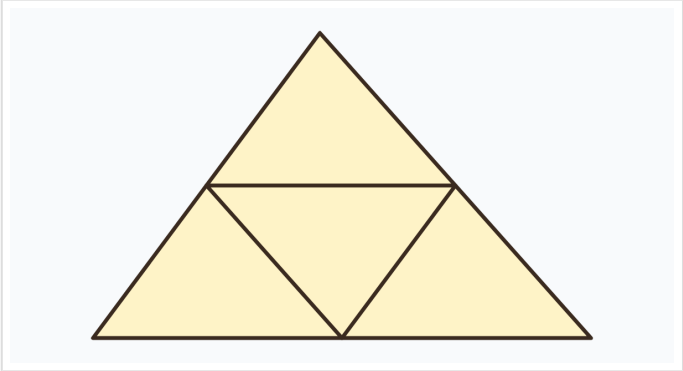

Bir üçgenin kenarlarının orta noktaları birleştirilerek görseldeki şekil elde ediliyor.
Oluşan şekilde toplam kaç tane üçgen vardır?

A) 4 **B)** 5 **C)** 3

10.



Elif'in doğum gününe dört arkadaşı katıldı. Arkadaşları, Elif'e aldıkları hediyelerin benzediği geometrik cisimleri anlatıyor:
Ayşe: Hediyem bir küpe benziyor.
Mert: Hediyemin iki yüzü daire biçiminde.
Ecrin: Hediyemin bütün yüzleri dikdörtgen.
Can: Hediyemin üçgen biçiminde iki yüzü var.
Hediyeler görselde numaralandırılmıştır.
Buna göre Elif, arkadaşlarından kaç numaralı hediyeleri almamıştır?

A) 1 ve 3 **B)** 1 ve 4 **C)** 2 ve 4

SORUMASYON

Cevap Anahtarı

1. A	**2.** C	**3.** B	**4.** B	**5.** C
6. C	**7.** C	**8.** A	**9.** B	**10.** B

SORUMASYON