2. Sınıf Matematik · Sayılar ve Nicelikler 1 · 20 Soruluk Test

Sınav Tarihi: ____ / ____ / _____

Adı Soyadı: _____

Sınıf: _____

1. kalem, silgi, kalem, silgi, kalem, ?
Örüntü hangi nesneyle devam etmelidir?

A) kalem **B)** defter **C)** silgi

2. 6 onluk çubuk ve 2 birlik küp
Onluk taban bloklarıyla modellenen sayı kaçtır?

A) 62 **B)** 26 **C)** 8

3.

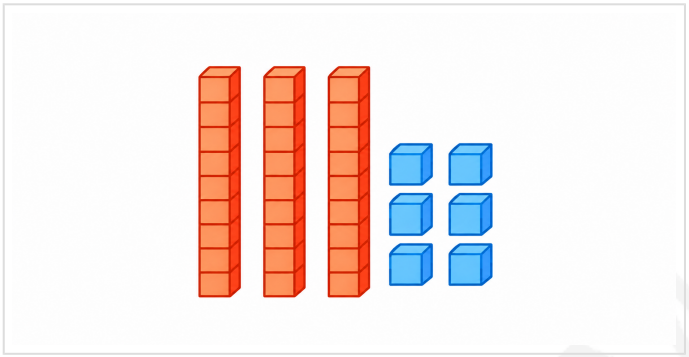

Üstte modellenen sayı 36'dır. Bu sayıdan bir sonra gelen sayı kaçtır?

A) 35 **B)** 37 **C)** 46

4. 67 sayısı hangi onluğa daha yakındır?

A) 60 **B)** 70 **C)** 80

5.



Yukarıdaki sayılardan kaç tanesi 80'den küçüktür?

A) 1 **B)** 2 **C)** 3

6. Ada'nın zihninden tuttuğu sayı 70'e daha yakındır. Bu sayı en çok kaç olabilir?

A) 74 **B)** 75 **C)** 76

7.

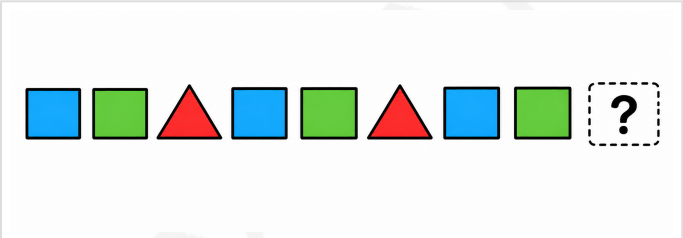

Yukarıdaki örüntü hangi şekille sürdürülmelidir?

A) 🔺 **B)** 🟦 **C)** 🟩

8.

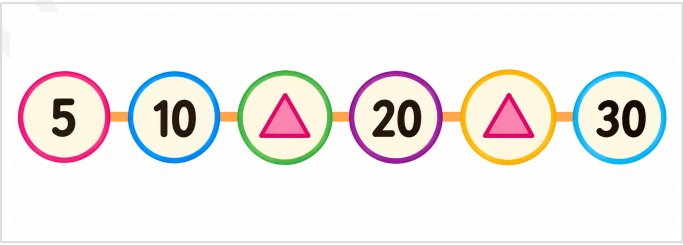

Yukarıdaki ritmik saymada verilmeyen sayıların toplamı kaçtır?

A) 35 **B)** 40 **C)** 45

9. Kerem boncukları bir kurala göre diziyor: kırmızı, kırmızı, sarı, kırmızı, kırmızı, sarı, ...
Kerem'in dizdiği 9. boncuk hangi renktir?

A) kırmızı **B)** mavi **C)** sarı

10. Örüntü: yıldız, yıldız, ay, yıldız, yıldız, ay
Hangi örüntünün kuralı verilen örüntünün kuralıyla aynıdır?

A) elma, armut, armut, elma, armut, armut
B) elma, elma, armut, elma, elma, armut
C) elma, armut, kiraz, elma, armut, kiraz

Sorumasyon v1.0.0-20261101-214746

11.

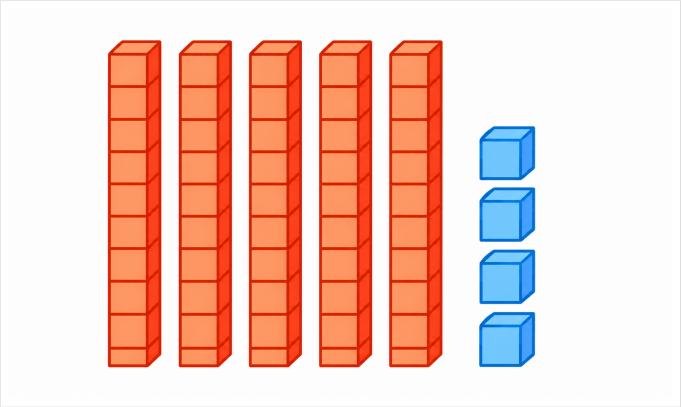

Üstte taban bloklarıyla modellenen sayı kaçtır?

A) 45 **B)** 54 **C)** 59

12. Aşağıdaki sayılardan hangisi 63 ile 68 arasında değildir?

A) 69 **B)** 65 **C)** 64

13. Deniz 47'den başlayıp ikişer ileriye doğru sayıyor. 47'den sonra 4 sayı daha söylüyor.
Deniz'in söylediği son sayı kaçtır?

A) 55 **B)** 53 **C)** 57

14. 1. kart: 2 | 2. kart: 6 | 3. kart: 10 | 4. kart: 15 | 5. kart: 18
Kaçıncı karttaki sayı örüntünün kuralını bozmaktadır?

A) 3. kart **B)** 5. kart **C)** 4. kart

15. I. 12, 15, 18, 21, 24
II. 8, 12, 16, 21, 24
III. 30, 40, 50, 60, 70
Hangi ritmik sayma yanlıştır?

A) I **B)** III **C)** II

16. 80'den başlayıp (80 dâhil) geriye doğru 20'ye kadar onar ritmik kaç sayma yapılır?

A) 5 **B)** 6 **C)** 7

17. Hangi seçenekteki sayıların hepsi 90'a daha yakındır?

A) 86, 91, 96
B) 87, 92, 94
C) 84, 89, 93

18. Bir günde bazı illerde ölçülen hava sıcaklıkları:
Trabzon: 24 derece | Rize: 22 derece | Artvin: 19 derece | Giresun: 26 derece
Sıcaklığı en yüksek ve en düşük olan iller sırasıyla hangileridir?

A) Giresun - Artvin
B) Artvin - Giresun
C) Trabzon - Rize

19. Bir çiftlikte yumurtalar 10'arlı kolilere konuyor. 4 koli dolu yumurta ve kolilere konmamış 6 yumurta var.
Çiftlikte toplam kaç yumurta vardır?

A) 46 **B)** 64 **C)** 10

20. Zeynep bahçedeki çiçeklerin sayısını 45, Emir ise 52 olarak tahmin etti. Çiçekler sayıldığında 49 tane çıktı.
Buna göre hangisi doğrudur?

A) Zeynep'in tahmini gerçek sayıya daha yakındır.
B) İkisinin tahmini de gerçek sayıya eşit uzaklıktadır.
C) Emir'in tahmini gerçek sayıya daha yakındır.

SORUMASYON

Cevap Anahtarı

1. C	**2.** A	**3.** B	**4.** B	**5.** B
6. A	**7.** A	**8.** B	**9.** C	**10.** B
11. B	**12.** A	**13.** A	**14.** C	**15.** C
16. B	**17.** B	**18.** A	**19.** A	**20.** C

SORUMASYON