4. Sınıf Matematik · Tartma - Sıvı Ölçme · 20 Soruluk Test

Sınav Tarihi: ____ / ____ / _____

Adı Soyadı: _____

Sınıf: _____

1. 6250 g kaç kilogram kaç gramdır?

A) 6 kg 250 g **B)** 62 kg 50 g
C) 6 kg 25 g **D)** 625 kg 0 g

2.

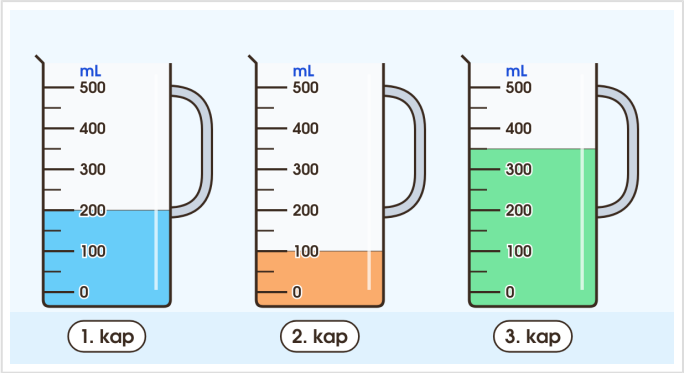

Her biri 500 mL alan üç ölçü kabındaki sıvılar şekilde gösterilmiştir.
Bu kaplarda bulunan sıvı miktarları ile ilgili verilen bilgilerden hangisi yanlıştır?

A) 1. kapta 200 mL sıvı vardır.
B) 3. kaptaki sıvı miktarı 1. kaptakinden azdır.
C) 1. ve 2. kapta toplam 300 mL sıvı vardır.
D) 2. kabın tamamen dolması için 400 mL sıvı gerekir.

3. Aşağıdakilerden hangisinin miktarı en uygun olarak mililitre ile belirtilir?

A) Bir kaşık şurup
B) Bir havuzdaki su
C) Bir tankerdeki benzin
D) Bir küvetteki su

4. Dokuz tane çeyrek kilogram kaç gramdır?

A) 2250 **B)** 2500 **C)** 1750 **D)** 900

5. Aşağıdakilerden hangisinin kütlesi en uygun olarak ton ile belirtilir?

A) Bir karpuz **B)** Bir kalem
C) Bir düğme **D)** Bir kamyon

6. 275 mL + 450 mL + □ = 1 L eşitliğinin sağlanması için □ yerine kaç mililitre yazılmalıdır?

A) 225 **B)** 275 **C)** 325 **D)** 175

7. Bir şişede 300 mL şurup vardır. Şişeden 5 mL'lik kaşıkla 12 kaşık şurup içiliyor.
Buna göre şişede kaç mililitre şurup kalır?

A) 288 **B)** 60 **C)** 240 **D)** 180

8. 3 kg + 600 g = 2 kg + ____ g
Bu eşitlikte boş bırakılan yere hangisi yazılmalıdır?

A) 1600 **B)** 600 **C)** 2600 **D)** 1400

9. Bir çiftçi tarlasından 3 t 400 kg patates topluyor. Bunun 1 t 750 kg'ını satıyor, 1250 kg'ını da depoya kaldırıyor.
Buna göre çiftçinin elinde kaç kilogram patates kalmıştır?

A) 400 **B)** 650 **C)** 1650 **D)** 500

10. Eşit kollu bir terazinin bir kefesinde 3 özdeş küp, diğer kefesinde 600 g'lık bir top vardır. Terazi dengededir.
Buna göre 5 küpün toplam kütlesi kaç gramdır?

A) 3000 **B)** 1000 **C)** 600 **D)** 800

11. Aşağıdakilerden hangisi büyükten küçüğe doğru doğru sıralanmıştır?

A) 42 000 g > 5 t > 38 kg > 6000 g
B) 5 t > 38 kg > 42 000 g > 6000 g
C) 5 t > 42 000 g > 38 kg > 6000 g
D) 6000 g > 5 t > 42 000 g > 38 kg

SORUMASYON

12. Büyük kaşık 15 mL, küçük kaşık 5 mL şurup almaktadır.
Şişedeki şurup büyük kaşıkla 20 seferde bittiğine göre küçük kaşıkla kaç seferde biter?

A) 20 **B)** 60 **C)** 30 **D)** 100

13. ■ = 600 mL + 2 L 300 mL
● = 7 L − 3 L 50 mL
Yukarıda verilenlere göre ● − ■ kaç mililitredir?

A) 950 **B)** 1150 **C)** 4100 **D)** 1050

14. Üç kaptaki sıvı miktarları: 1. kap: 1 L 300 mL | 2. kap: 1 L 50 mL | 3. kap: 1250 mL
Kaplardaki sıvılar karıştırılarak her kaba eşit miktarda paylaştırılıyor.
Buna göre her bir kapta kaç mililitre sıvı olur?

A) 1100 **B)** 1250 **C)** 3600 **D)** 1200

15. I. 6250 kg = 6 t 250 kg
II. 4005 g = 4 kg 50 g
III. 3700 g = 37 kg
IV. 700 g + 400 g = 1 kg 100 g
Yukarıda verilenlerden hangileri doğrudur?

A) I ve III **B)** I ve IV
C) II ve IV **D)** Yalnız III

16.



Eşit kollu bir terazinin kefeleri şekilde gösterilmiştir.
Buna göre terazinin dengelenmesi için B kefesine kaç tane 50 g'lık küp konulmalıdır?

A) 61 **B)** 60 **C)** 62 **D)** 59

17.

Pastanedeki Pastalar

Pasta	Krema miktarı	Günlük satış
Küçük	200 g	30 adet
Orta	300 g	40 adet
Büyük	500 g	24 adet

Bir pastanede yapılan üç boy pastada kullanılan krema miktarı ve günlük satış adedi tabloda verilmiştir.
Tablodaki bilgilere göre pastane bir günde toplam kaç kilogram krema kullanmaktadır?

A) 24 **B)** 36 **C)** 30 **D)** 300

18. 5 L su alan bir kap 5 eş bölmeye ayrılmıştır. Kaba 3. bölmenin çizgisine kadar su konuyor. Sonra kaba 1250 mL daha su ekleniyor.
Buna göre kaptaki suyun son miktarı kaç mililitredir?

A) 3250 **B)** 4250 **C)** 4750 **D)** 1550

19.

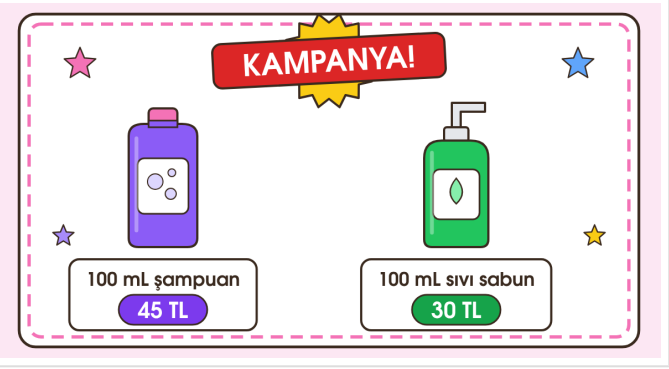

Bir mağazanın kampanya afişi aşağıda verilmiştir.
Bu kampanyaya göre 500 mL şampuan ile 300 mL sıvı sabun satılırsa kaç TL elde edilir?

A) 75 **B)** 375 **C)** 315 **D)** 285

Sorumasyon v1.0.0-20261101-214746

20. 8 L suyun bulunduğu bir bidondan, 5 L'lik ve 3 L'lik iki boş ölçü kabı kullanılarak tam olarak 2 L su nasıl ayrılabilir?

A) 5 L'lik kap doldurulur, ondan 3 L'lik kap doldurulur; 5 L'lik kapta kalan su 2 L'dir.

B) 3 L'lik kap iki kez doldurulup 5 L'lik kaba boşaltılır; 3 L'lik kapta kalan su 2 L'dir.

C) 5 L'lik kap yarısına kadar doldurulur.

D) 3 L'lik kap doldurulup 5 L'lik kaba boşaltılır; 5 L'lik kaptaki su 2 L'dir.

SORUMASYON