3. Sınıf Matematik · Sayılar ve Nicelikler 2 · 20 Soruluk Test

Sınav Tarihi: ____ / ____ / _____

Adı Soyadı: _____

Sınıf: _____

1. 5/7 kesrinin okunuşu aşağıdakilerden hangisidir?

A) Yedi bölü beş
B) Beş bölü yedi
C) Beşte yedi

2. Aşağıdakilerden hangisinin kütlesini gram ile ölçmek daha uygundur?

A) Bir silgi
B) Bir öğrenci
C) Bir karpuz

3.

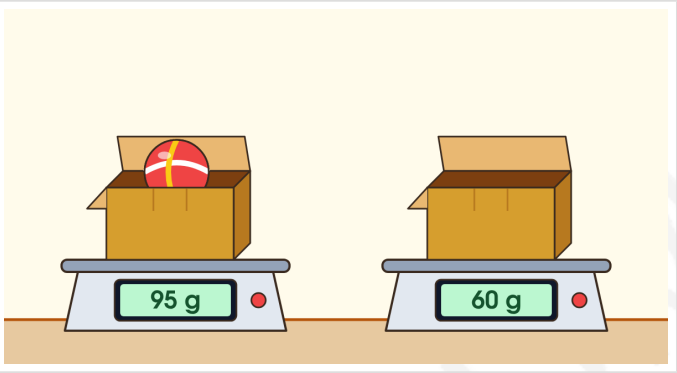

Buna göre topun kütlesi kaç gramdır?

A) 155 **B)** 35 **C)** 45

4.

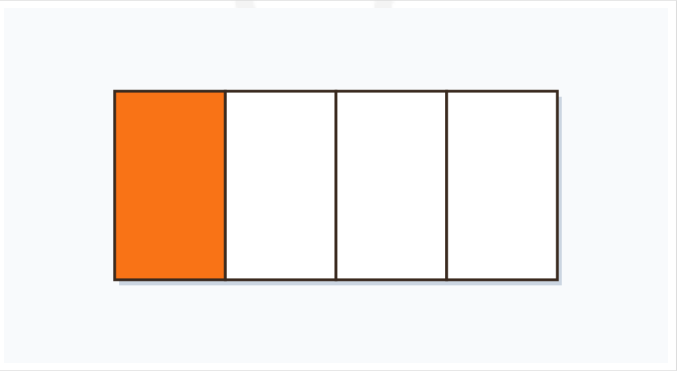

Buna göre boyalı kısım hangi kesirle ifade edilir?

A) 4/1 **B)** 1/4 **C)** 3/4

5. Aşağıda verilen uzunluklardan hangisi en büyüktür?

A) 175 cm **B)** 165 cm **C)** 2 m

6. Aşağıdakilerden hangisinin kütlesi 1 kilogramdan azdır?

A) bir karpuz
B) bir yumurta
C) bir bisiklet

7. Her birinin uzunluğu 25 cm olan 3 cetvel uç uca ekleniyor. Oluşan uzunluk kaç santimetredir?

A) 50 cm **B)** 65 cm **C)** 75 cm

8. Saat 16.40'ta başlayan bir çizgi film 35 dakika sürmüştür.
Çizgi film saat kaçta bitmiştir?

A) 17.05 **B)** 17.15 **C)** 17.25

9. 24 kg pirinç, 4 kg'lık paketlere eşit olarak doldurulacaktır. Bunun için kaç paket gerekir?

A) 5 **B)** 6 **C)** 8

10. Zeynep'in 60 TL'si vardı. Parasının yarısı ile bir kitap, 10 TL'si ile bir defter aldı.
Buna göre Zeynep'in ne kadar parası kalmıştır?

A) 30 TL **B)** 20 TL **C)** 10 TL

11. Sayısal saatte 14:45 olarak gösterilen zamanın okunuşu hangisidir?

A) Saat ikiyi çeyrek geçiyor.
B) Saat üçü çeyrek geçiyor.
C) Saat üçe çeyrek var.

Sorumasyon v1.0.0-20261101-214746

12.

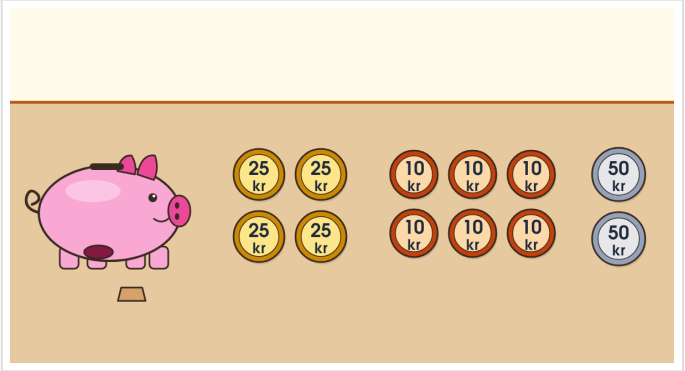

Ecrin'in kumbarasındaki paralar görselde verilmiştir.
Buna göre Ecrin'in kumbarasında toplam ne kadar para vardır?

A) 2 TL 50 kr
B) 2 TL 60 kr
C) 2 TL 10 kr

13. Aşağıdaki uzunluklardan hangisi metre ile ölçülmeye daha uygundur?

A) Kalemin uzunluğu
B) Sınıf kapısının yüksekliği
C) Silginin uzunluğu

14.



Deniz 3 kalem, 1 cetvel ve 2 silgi alıp satıcıya 100 TL veriyor.
Buna göre Deniz ne kadar para üstü almalıdır?

A) 72 TL **B)** 32 TL **C)** 28 TL

15. Bir tiyatro oyunu saat 18.35'te başlamış ve saat 20.10'da bitmiştir.
Tiyatro oyunu ne kadar sürmüştür?

A) 1 saat 25 dakika
B) 1 saat 35 dakika
C) 1 saat 45 dakika

16. Annem, kilogramı 14 TL olan patatesten 3 kg 500 g aldı.
Buna göre annem patates için kaç lira ödemiştir?

A) 42 **B)** 56 **C)** 49

17. Bir kitaplığın yüksekliği 1 m 80 cm, çalışma masasının yüksekliği ise 75 cm' dir. Kitaplık masadan kaç santimetre daha yüksektir?

A) 95 cm **B)** 105 cm **C)** 115 cm

18. • 2 tane yarım saat
• 4 tane çeyrek saat
• 60 dakika
Buna göre verilen sürelerin toplamı kaç saattir?

A) 3 **B)** 4 **C)** 2

19.

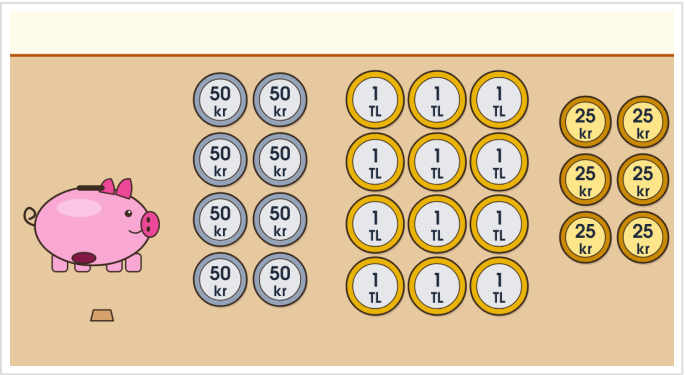

Zeynep kumbarasını açtığında görseldeki paralar çıkıyor.
Buna göre kumbaradan toplam ne kadar para çıkmıştır?

A) 17 TL
B) 17 TL 50 kr
C) 16 TL 50 kr

Sorumasyon v1.0.0-20261101-214746

20. Efe’nin kumbarasında yalnızca 25 kuruşluk ve 10 kuruşluk madeni paralar vardır. Paralarının toplamı 175 kuruştur.

Efe’nin en az kaç madeni parası olabilir?

A) 7 **B)** 8 **C)** 10

SORUMASYON

Cevap Anahtarı

1. B	**2.** A	**3.** B	**4.** B	**5.** C
6. B	**7.** C	**8.** B	**9.** B	**10.** B
11. C	**12.** B	**13.** B	**14.** C	**15.** B
16. C	**17.** B	**18.** A	**19.** B	**20.** A

SORUMASYON